Kanoon.ir

درخت تو گر بار دانش بگیرد

به زیر آوری چرخ نیلوفری را

شما با دانلود این نمونه سوال، کد تخفیف خرید کتاب از سایت کانون بوک دریافت می کنید

برای دریافت کد جایزه خود، عدد 33 را به سر شماره 90008451 ارسال کنید.

kanoonBook.ir

www.kanoon.ir

۱۲ جدول زیر را کامل کنید. — ۳

فراوانی×مرکزدسته	مرکز دسته	فراوانی	حدود دسته
۲۰			$۲ \leq X < ۸$
	۱۱	۸	
		۱۴	مجموع

۱۳ احتمال اینکه در پرتاب دو سکه ، هر دو سکه پشت بیاید چقدر است؟ — ۱

(با نوشتن تمام حالتهای ممکن جواب دهید .)

۱۴ در شکل زیر PQ بر دایره مماس است. اندازه زاویه‌های مجهول را بدست آورید. — ۰/۵

(راه حل نوشته شود)

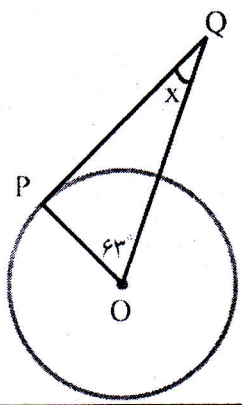

۱۵ در شکل روبرو AB قطر دایره است. زاویه‌ی خواسته شده را به دست آورید. — ۱

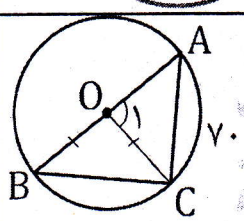

B= C=

O_1= A=

۱۶ با توجه به شکل اندازه ی زاویه های خواسته شده را بنویسید. (راه حل نوشته شود) — ۱

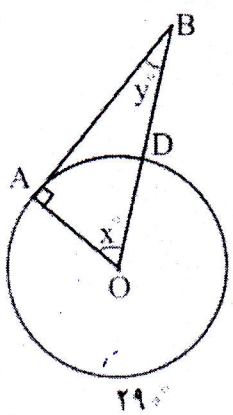

x= y=

دبیر سیتان فردوسی فراشبند