Kanoon.ir

درخت تو گر بار دانش بگیرد

به زیر آوری چرخ نیلوفری را

شما با دانلود این نمونه سوال، کد تخفیف خرید کتاب از سایت کانون بوک دریافت می کنید

برای دریافت کد جایزه خود، عدد 33 را به سر شماره 90008451 ارسال کنید.

kanoonBook.ir

www.kanoon.ir

نوبت امتحانی:نوبت دوم (خردادماه)
پایه : هشتم /
تاریخ امتحان:۱۴۰۳/ ۰۳ /۱۳
ساعت شروع : ۸/۳۰ صبح
مدت امتحان: ۸۰دقیقه صفحه سوم

باسمه تعالی
اداره کل آموزش و پرورش فارس
کارشناسی سنجش و پایش کیفیت آموزشی
مدیریت آموزش و پرورش شهرستان فراشبند
(مهر آموزشگاه)

شماره دانش آموزی :
نام درس: ریاضیات

۸ دو شکل زیر همنهشت هستند x و y را بدست آورید. .(راه حل نوشته شود)

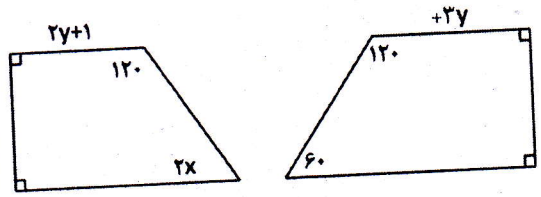

۹ در هر شکل، بعضی از ضلع ها و زاویه های مساوی مشخص شده اند. فقط حالت همنهشتی را در هر مورد بنویسید.

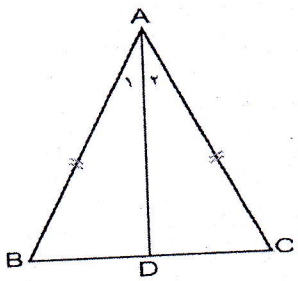

AD نیمساز است

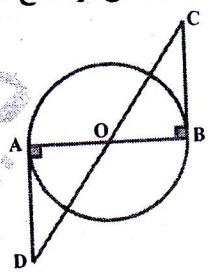

۱۰ حاصل عبارت های زیر را به صورت عبارت توان دار بدست آورید.

A) $۲^{۹} \times ۶^{۸} \times ۳^{۹} =$

B) $[(۳)^{۴}]^{۵} =$

C) $\frac{X^{۵}}{X^{۸}} =$

D) $۵^{۸} \div ۵^{۳} =$

۱۱ عدد $(-۲+\sqrt{۱۰})$ را روی محور نشان دهید.



دبیرستان دوره‌ی فراشبند