Kanoon.ir

شما با دانلود این نمونه سوال، کد تخفیف خرید کتاب از سایت کانون بوک دریافت می کنید.

برای دریافت کد جایزه خود، عدد 33 را به سر شماره 90008451 ارسال کنید.



تمرین بیشتر نمونه سوالات امتحانی با کتاب های پرتکرار

همین حالا جایزه خود را دریافت کنید.

kanoonBook.ir

www.kanoon.ir

نام و نام‌خانوادگی :	اداره کل آموزش و پرورش استان خوزستان مدیریت آموزش و پرورش شهرستان بهبهان دبیرستان دخترانه غیردولتی متوسطه اول اندیشه برتران بهبهان	نوبت : دوم	مهر آموزشگاه دبیرستان اندیشه برتران
نام پدر :		نام درس : ریاضی	
پایه : هشتم		تاریخ امتحان : ۱۴۰۵/۰۳/۰۹	
نام کلاس :		مهلت پاسخگویی : ۶۰دقیقه	
شماره صندلی :		ساعت شروع : ۹صبح	
نام دبیر : خانم مریم آقاجری		تعداد صفحه : ۲	

ردیف	سؤالات-صفحه ۱	بارم تصحیح	بارم سؤال
1	**در غربال اعداد ۱ تا ۱۰۰ به سوالات زیر پاسخ دهید.** **الف) عددی که خط می خورد چند است؟** **ب) آخرین عددی که خط می خورد چند است؟** **ج) مضارب کدام اعداد اول خط می خورد؟** **د) بین دو عدد ۸۷ و ۹۴ کدام زودتر خط می خورد ؟ چرا؟**		2
2	**عبارت جبری زیر را ساده کنید.** $(x+3)(x-3)$		1/5
3	**اگر** $\vec{a}=3i-2j$ **و** $b=\begin{bmatrix}-2\\1\end{bmatrix}$ **باشد، مختصات بردار** C **را بدست بیاورید.**		2
4	**با توجه به اطلاعات داده شده در هر مورد همنهشتی دو مثلث را بنویسید.** 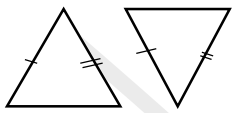 **همنهشتی** A( ) 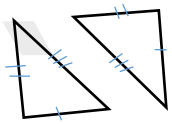 **همنهشتی** B( )		2
5	**حاصل عبارت زیر را بصورت عدد تواندار بنویسید.** **الف)** $\frac{10^3\times10^6}{40^9\div8^9}=$ **ب)۱۶ برابر عدد** 2^3 **برابر ..... است.**		3
6			2

		جدول زیر را کامل کنید.	

دسته	فراوانی	خط نشان	متوسط دسته	متوسط دسته × فراوانی
$4 \leq x < 8$				**۴۸**

2		**میانگین نمرات ۱۰ درس زهرا ۱۴/۵ می باشد. اگر دو درس دیگر با نمرات ۱۷ و ۱۸ به آنها اضافه شود، میانگین جدید نمرات زهرا را بدست آورید.**	7
2		**زاویه ها و کمانهای خواسته شده را بدست آورید.** 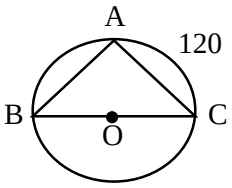	8
2		**علی می خواهد در مرکز باغچه دایره ای شکل که در حیاط خانه اش قرار دارد فواره ای نصب کند. او چگونه می تواند مرکز این باغچه دایره ای شکل را پیدا کند؟** **مراحل پیدا کردن مرکز باغچه را در دایره زیر انجام دهید.** 	9

نمره با عدد :

نام و نام خانوادگی مصحح

نمره با حروف:

تاریخ و امضا :

ردیف	سؤالات-صفحه۲	بارم تصحیح	بارم سؤال

نمره با عدد :

نام و نام خانوادگی مصحح

نمره با حروف:

تاریخ و امضا :

نام و نام‌خانوادگی :	**اداره کل آموزش و پرورش استان خوزستان** **مدیریت آموزش و پرورش شهرستان بهبهان** **دبیرستان دخترانه غیردولتی متوسطه اول** **اندیشه برتران بهبهان**	نوبت :	**مهر آموزشگاه** **دبیرستان اندیشه برتران**
نام پدر :		نام درس :	
پایه :		تاریخ امتحان :	
نام کلاس :		مهلت پاسخگویی :	
شماره صندلی :		ساعت شروع :	
نام دبیر :		تعداد صفحه :	

نمره با عدد :

نمره با حروف:

نام و نام خانوادگی مصحح

تاریخ و امضا :

ردیف	سؤالات-صفحه۴	بارم تصحیح	بارم سؤال

ردیف	سؤالات-صفحه۳	بارم تصحیح	بارم سؤال

نمره با عدد :

نام و نام خانوادگی مصحح

نمره با حروف:

تاریخ و امضا :

نمره با عدد :

نام و نام خانوادگی مصحح

نمره با حروف:

تاریخ و امضا :