دبیرستان امتحان درس ریاضی پایه هشتم نوبت دوم نام و نام خانوادگی:	اداره کل آموزش و پرورش شهرستان های استان کرمان مدیریت آموزش و پرورش شهرستان سیرجان	تاریخ: ۶ خرداد ۱۴۰۲ مدرسه شاهد امام مهدی زمان: ۸۰ دقیقه

۱ گزینه درست را انتخاب کنید (۱ نمره) ۱

الف) $\sqrt{3}$ بین کدام دو عدد صحیح قرار دارد؟ ☐ ۱ و ۲ ☐ ۲ و ۳ ☐ ۳ و ۴ ☐ ۰ و ۱

ب) اندازه یکی از زاویه های داخلی شش ضلعی منظم چند درجه است؟ ☐ ۱۲۰° ☐ ۲۴۰° ☐ ۳۶۰°

پ) احتمال اینکه یک نفر در روز دوشنبه یا سه شنبه به دنیا بیاید چه قدر است؟ ☐ $\frac{2}{7}$ ☐ $\frac{3}{7}$ ☐ $\frac{4}{7}$ ☐ $\frac{5}{7}$

ت) اگر $y = 3x^2 - x$ و $x = -3$ ، y برابر چه عددی خواهد بود؟ ☐ ۱۴ ☐ ۸ ☐ -۴ ☐ +۶

۲ عبارت های درست و نادرست را مشخص کنید. ۱

الف) حاصل جمع عدد زوج با فرد برابر با عددی فرد است

ب) مستطیل متوازی الاضلاعی است که زاویه های آن قائمه است

پ) حاصل عبارت $\frac{-8-(-2)}{-(-4)}$ عددی منفی است

ت) بزرگترین عدد صحیح منفی دو رقمی ۹۹- است

۳ کامل کنید ۱/۲۵

الف) شعاع دایره در نقطه تماس بر خط مماس ..... است.

ب) ک.م.م. دو عدد متوالی برابر با ..... است.

پ) $3a^2b - ab$ به صورت ضرب برابر با ..... است

ت) دو خط عمود بر یک خط با هم .....

ث) به چند ضلعی هایی که زاویه های آنها از ۱۸۰ درجه کمتر باشد ..... می گویند

۴ حاصل عبارت ها را به دست آورید. ۱/۵

$-4 \times 5 - 2 \times (5 - 1^2 \times 3)$

$-\frac{1}{3} + \frac{1}{4} \div (-1\frac{1}{2})$

۵ الف) مشخص کنید عدد ۱۰۱ اول است یا مرکب؟ ۱/۵

www-kanoon-ir

Scanned with CamScanner

۱

۶ با تشکیل معادله مقدار x را به دست آورید.



۱

۷ مجموع زوایای داخلی و خارجی ده ضلعی منتظم را حساب کنید

۲۰

۸ الف)عبارت زیر را به ساده ترین صورت بنویسید

$-۳(۲x+۳y)+۲(۴x-۲y)$

ب)معادله ی زیر را حل کنید

$-\frac{۳۰}{۸}x+۵=\frac{۱}{۴}$

۲

۹ الف)اگر $a=۳i-۲j$ و $b=\begin{bmatrix}-۱\\۲\end{bmatrix}$ باشد مختصات X را به دست آورید

$x=-۳a+b$

$x+\begin{bmatrix}-۳\\+۴\end{bmatrix}=\begin{bmatrix}+۲\\-۱\end{bmatrix}$

ب) معادله‌ی مختصاتی را حل کنید.

۰/۷۵

۱۰ مقدار x را در شکل مقابل به دست آورید.

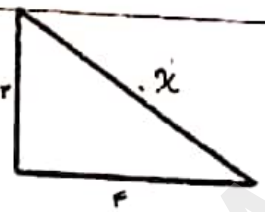

۱/۲۵

۱۱ حاصل هر عبارت را به صورت تواندار بنویسید

$۸^۲\times۲^۶=$

$\frac{۲۵^{۱۳}+۵^{۱۲}}{۵^۳\times۵^۲}$

۱/۲۵

۱۲ الف)حاصل عبارت را محاسبه کنید

$\sqrt{\frac{۱۰۰}{۲۵}}$

www-kanoon-ir

Scanned with CamScanner

۱۰ جدول را کامل کنید ۱/۵

حدود دسته ها	فراوانی	میانگین دسته ها	میانگین x فراوانی
$۱۰ \leq x < ۲۰$	۸		
$۲۰ \leq x \leq ۳۰$			۲۵۰

ب) میانگین قد ۱۲ نفر برابر با ۱۷۶ است دو نفر از آنها دارای قد ۱۷۰ و ۱۴۲ هستند اگر این دو نفر را کنار هم بگذاریم میانگین قد بقیه افراد چقدر است؟

۱۴ تاسی را می اندازیم: احتمال هر یک از پیشامدها را حساب کنید ۱/۵

الف) عدد فرد بیاید

ب) شمارنده شش بیاید

۱۵ اندازه زاویه ها و کمان های خواسته شده را پیدا کنید. ۰/۷۵

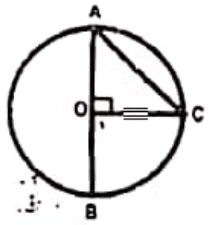

$\hat{A} =$ $\hat{O}_1 =$ $\widehat{BC} =$

۱۶ رابطه های زیر را با علامت < = > کامل کنید ۰/۷۵

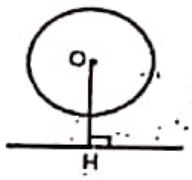

۲ ○ OH



۲ ○ OH

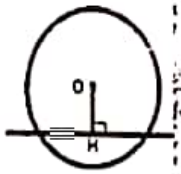

۲ ○ OH

<< ریاضیات قدرت و سرعت و دقت تصمیم گیری را در شما افزایش می دهد>> موفق باشید

۱۷۶
۱۲
۳۵۲
۱۷۶۰
۱۲۱۲
۳۱۲
۱۸۰

www.kanoon-ir

Scanned with CamScanner

امیرحسین پایمزد - رشته تجربی

ریاضی هشتم

۱- الف) $۱٫۷ \cong \sqrt{۳}$ ← بین ۱ و ۲

ب) (۱۲۰)

$\frac{(۶-۲)\times ۱۸۰}{۶} = ۱۲۰$ $\quad$ $۱۸۰ \times (۲ - \text{تعداد ضلع})$ = مجموع زوایای داخلی چندضلعی منتظم

پ) $\frac{۲}{۷}$

$P = \frac{\text{فضای نمونه}}{\text{فضای کل}}$ $\quad$ { دو تا سه تا } = فضای نمونه

{ ۷ روز هفته } : فضای کل

ت) ۱۴

$\left.\begin{array}{l} y = ۳x^۲ - x \\ x = -۲ \end{array}\right\} \rightarrow y = ۳\times ۴ - (-۲) = ۱۴$

۲- الف) درست؛

$\left.\begin{array}{l} ۲n = \text{عدد زوج} \\ ۲n+۱ = \text{عدد فرد} \end{array}\right\}$ مجموع = $۴n+۱$ فرد

ب) درست

پ) نادرست

$\frac{(-۸) \div (-۲)}{-(-۴)} = \frac{۴}{۴} = ۱$

ت) نادرست ۱۰- است

۳- الف) عمود است

ب) حاصل ضرب آن ها ۶ برای اینکه ک.م.م کمتر از حاصل ضرب ۲ عدد باشد باید مضرب مشترک داشته باشند و کوچک ترین عدد اول ۲ است بنابراین برای اینکه ک.م.م کمتر از حاصل ضرب ۲ عدد باشد حداقل فاصله ۲ عدد باید ۲ باشد تا شاید این اتفاق بیفتد

پ) $ab \times ۳b - ab \times ۱ = ab(۳b - ۱)$

ت) موازی اند



ث) محدب

www-kanoon-ir

Scanned with CamScanner

$$\underbrace{-4\times 5}_{-20} - 2\times(\underbrace{5-1^2\times 3}_{2}) = -20 - 2\times 2 = -24$$

$$\frac{-1}{3} + \frac{1}{4} \div -1\frac{1}{2} = \frac{-1}{3} + \frac{1}{4} \div -\frac{3}{2} = \frac{-1}{3} + \frac{1}{\cancel{4}_2}\times\frac{\cancel{-2}^{-1}}{3} = \frac{-1}{2}$$

سوال ۵: عدد اول است زیرا به عددهای اول ~~[illegible]~~ مثل ۲ و ۳ و ۵ و ۷ و ۱۱ و ~~۱۳ و ۱۷ و ۱۹ و ۲۳ و ۲۹ و ۳۱~~ ... رفتن پذیر نیست

سوال ۶: در ~~[illegible]~~ متوازی الاضلاع زاویه‌های مجاور مکمل اند

$$130^\circ + 2x + 10^\circ = 180^\circ \rightarrow x = 20^\circ$$

سوال ۷:

مجموع زوایای داخلی چندضلعی منتظم $= (\text{تعداد اضلاع} - 2)\times 180 \rightarrow 8\times 180 = 1440$

مجموع زوایای خارجی چندضلعی منتظم $= n\times\left(180 - \frac{(\text{تعداد اضلاع} - 2)\times 180}{n}\right) = 10\times\left(180 - \frac{1440}{10}\right) = 360$

$n\times 180 - \text{مجموع زوایای داخلی} = 1800 - 1440 = 360^\circ$

سوال ۸: الف)

$$-3(2x+3y) + 2(4x-2y) = -6x - 9y + 8x - 4y = 2x - 13y$$

ب)

$$\frac{-30}{8}x + 5 = \frac{1}{6} \rightarrow \frac{-30}{8}x = \frac{-29}{30} \rightarrow x = \frac{-29}{30}\times\frac{-8}{30} = \frac{232}{900}$$

سوال ۹ الف)

$$x = -3a + b = -3\times\begin{bmatrix}3\\-2\end{bmatrix} + \begin{bmatrix}-1\\2\end{bmatrix} = \begin{bmatrix}-9\\6\end{bmatrix} + \begin{bmatrix}-1\\2\end{bmatrix} = \begin{bmatrix}-10\\8\end{bmatrix}$$

ب)

$$x + \begin{bmatrix}-3\\4\end{bmatrix} = \begin{bmatrix}+2\\-1\end{bmatrix} \rightarrow x = \begin{bmatrix}+2\\-1\end{bmatrix} - \begin{bmatrix}-3\\4\end{bmatrix} = \begin{bmatrix}5\\-5\end{bmatrix}$$

سوال ۱۰

فیثاغورث $= c^2 = a^2 + b^2$

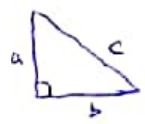

$$c^2 = 3^2 + 4^2 \rightarrow c = 5$$

سوال ۱۱

$$8^2\times 2^6 = (2^3)^2\times 2^6 = 2^6\times 2^6 = 2^{12}$$

$$\frac{25^{12} + 5^{12}}{5^3\times 5^2} = \frac{5^{12}\times 5^{12} + 5^{12}}{5^5} = \frac{5^{12}(5^{12}+1)}{5^5} = 5^7(5^{12}+1)$$

www.kanoon-ir

Scanned with CamScanner

الف) $\sqrt{\frac{۱۰۰}{۲۵}} = \sqrt{۴} = ۲$

سوال ۱۳

حدود دسته	فراوانی	میانگین دسته	میانگین × فراوانی
$۱۰ \leq x < ۲۰$	۸	۱۵	۱۲۰
$۲۰ \leq x < ۳۰$	۱۰	۲۵	۲۵۰

ب) $۱۷ = \frac{\text{مجموع}}{۱۲}$ ← مجموع $= ۲۱۱۲$ | میانگین جدید $= \frac{۲۱۱۲ - ۱۷۰ - ۱۴۲}{۱۲ - ۲} = \frac{۱۸۰۰}{۱۰} = ۱۸۰$

سوال ۱۴ الف) $\frac{۳}{۶} = \frac{۱}{۲}$

$$\frac{\{۱, ۳, ۵\}}{\{۱, ۲, ۳, ۴, ۵, ۶\}} = \frac{۳}{۶}$$

ب) $\frac{۴}{۶} = \frac{۲}{۳}$

$$\frac{\{۱, ۲, ۳, ۶\}}{\{۱, ۲, ۳, ۴, ۵, ۶\}} = \frac{۴}{۶} = \frac{۲}{۳}$$

سوال ۱۵

$A = ۴۵^\circ$ $\quad ۵۱ = ۹۰^\circ$ $\quad \overset{\frown}{BC} = ۹۰^\circ$

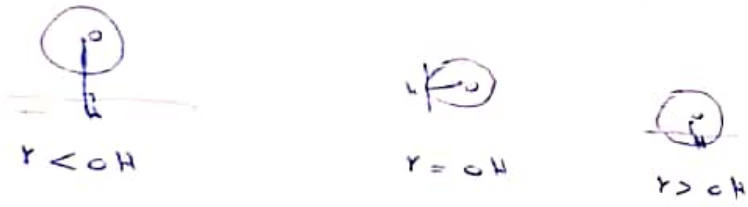

سوال ۱۶

Scanned with CamScanner