ریاضی ۸ - حضرت فاطمه طبس - نمره

نام و نام خانوادگی		باسمه تعالی	نام درس: ریاضی	محل مهر
نام پدر:		وزارت آموزش و پرورش	تاریخ امتحان: ۱۴۰۰/۰۱/۰۴	آموزش ساده
پایه: هشتم	شعبه کلاس:	اداره کل آموزش و پرورش استان خراسان جنوبی	تعداد صفحه:	تعداد سوال:
شماره صندلی:	رشته:	مدیریت آموزش و پرورش شهرستان طبس	زمان شروع:	وقت: دقیقه
		دبیرستان: حضرت فاطمه		

شماره	سؤال	نمره
۱	جمله‌های درست را با ☑ و جمله‌های نادرست را با ☒ مشخص کنید. الف) دو خط عمود بر یک خط با هم عمودند ☐ ب) در دایره اندازه زاویه مرکزی برابر با اندازه کمان روبه رو به آن است ☐ ج) مجموع زوایای خارجی هر مثلث ۳۶۰ درجه است ☐ د) اگر (ب م م) دو عدد برابر یک باشد آن دو عدد نسبت به هم اول هستند ☐	۱
۲	گزینه صحیح را انتخاب کنید. ❖ اگر مجموع نمرات چند درس را بر تعداد آنها تقسیم کنیم ..... به دست می آید. د) مرکز دسته ☐ ج) طول دسته ☐ ب) دامنه تغییرات ☐ الف) میانگین ☐ ❖ اگر احتمال رخ دادن یک پیشامد $\frac{5}{8}$ باشد، احتمال رخ ندادن آن کدام است؟ الف) $\frac{2}{8}$ ☐ ب) $\frac{3}{5}$ ☐ ج) $\frac{5}{8}$ ☐ د) $\frac{2}{8}$ ☐ ❖ اگر بزرگترین عدد ۱۲ و کوچکترین عدد ۸ باشد، دامنه ی تغییرات چند است؟ الف) ۴+ ☐ ب) ۱۹+ ☐ ج) ۴- ☐ د) ۱۹- ☐ ❖ متوازی الاضلاعی که چهار ضلع مساوی و زاویه های قائمه دارد ..... نامیده می شود. الف) مربع ☐ ب) لوزی ☐ ج) مستطیل ☐ د) ذوزنقه ☐	۲
	الف) حاصل جذرهای زیر را به دست آورید. $\sqrt{16 \times 25} =$ $\frac{\sqrt{2}}{\sqrt{49}} =$ ب) جذر تقریبی $\sqrt{28}$ را محاسبه کنید.	۱/۵
۴	عدد ۱۲۷ اول است یا مرکب؟ چرا؟	۱
۵	الف) عبارت جبری مقابل را ساده کنید. $(x-y)(x+y) =$ ب) عبارت مقابل را به ضرب تبدیل کنید. (فاکتورگیری) $16xy - 4xz =$	۱/۵

www-kanoon-ir

Scanned with CamScanner

نام و نام خانوادگی:	باسمه تعالی	نام درس	ریاضی	محل مهر آموزشگاه
نام پدر:	وزارت آموزش و پرورش	تاریخ امتحان	۱۴۰۲/۰۳/۱۳	
پایه: هشتم / شعبه کلاس:	اداره کل آموزش و پرورش استان خراسان جنوبی	تعداد صفحه:	تعداد سوال:	
شماره صندلی: / رشته:	مدیریت آموزش وپرورش شهرستان طبس	زمان شروع:	وقت: دقیقه	
	دبیرستان:حضرت فاطمه			

۶	معادله روبرو را حل کنید.	۱
	$\frac{۷}{۶}x + \frac{۳}{۲} = \frac{۱}{۳}$	
۷	چهارضلعی مقابل متوازی الاضلاع است.با تشکیل معادله مقدار مجهول را بیابید.	۱
	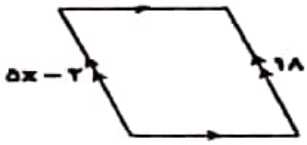	
۸	بردار حاصل جمع مربوط به شکل را رسم کنید.	۰/۵
		
۹	اگر $a = ۲i + ۳j$ و $b = ۲i - ۴j$ باشد . ابتدا مختصات بردارهارا بنویسیدوسپس مختصات Cرا به دست آورید.	۱/۵
	$c = a + ۲b$	
۱۰	حاصل عبارت مقابل را به صورت عددی تواندار بنویسید.	۱
	$\frac{۳۰^{۷} \times ۳۰^{۵}}{۶^{۱۰} \times ۵^{۱۰}} =$	
۱۱	حاصل عبارت های زیر را به دست آورید.	۱/۵
	$۲۸ + ۴ \times ۸ + ۲ =$	
	$(-۵۸) \div (۱۲ - ۱۳) =$	
۱۲	جدول آماری زیر را کامل کرده و میانگین را به دست آورید.	۲

دسته ها	فراوانی	مرکز دسته	فراوانی × مرکزمتوسط
$۰ \leq x < ۸$			۱۶
$۸ \leq x < ۱۶$	۶		
مجموع			

www-kanoon-ir
Scanned with CamScanner

نام و نام خانوادگی:	باسمه تعالی	نام درس	ریاضی	محل مهر آموزشگاه
نام پدر:	وزارت آموزش و پرورش	تاریخ امتحان	۱۴۰۲/۰۳/۱۳	
پایه: هشتم / شعبه کلاس:	اداره کل آموزش و پرورش استان خراسان جنوبی	تعداد صفحه:	تعداد سوال:	
شماره صندلی: / رشته:	مدیریت آموزش وپرورش شهرستان طبس	زمان شروع:	وقت: دقیقه	
	دبیرستان:حضرت فاطمه			

۱۳	دریک کیسه ۸مهره آبی ، ۴مهره قرمز ، ۲ مهره زرد وجود دارد.یک مهره به تصادف ازآن بیرون می آوریم . الف)احتمال این که این مهره به رنگ قرمز باشد، چقدراست؟ ب)احتمال این که این مهره به رنگ آبی نباشد ، چقدراست؟	۱
۱۴	در شکل مقابل AM و BM مماس بر دایره می باشند. دلیل هم نهشتی دو مثلث OAM وOBMرا بنویسید.(حالت هم نهشتی نوشته شود) 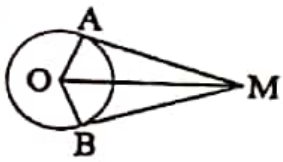 	۱/۵
۱۵	الف) در شکل زیر AB بر دایره مماس است. طول پاره خط a را به دست آورید. 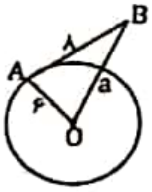 ب)با توجه به شکل اندازه زاویه و کمانهای خواسته شده را به دست آورید. O مرکز دایره می باشد. 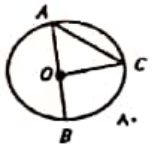 $\hat{A} = \cdots$ $\hat{C} = \cdots$ $\widehat{BOC} = \cdots$ $\widehat{BAC} = \cdots$	۲

www-kanoon-ir

Scanned with CamScanner

۱- غلط (الف)

درست (ب)

درست (ج)

درست (د)

۲ (الف) میانگین = $\frac{\text{مجموع}}{\text{تعداد}}$

(ب) احتمال رخ ندادن = ۱ − (احتمال رخ دادن) ← (د) $\frac{۳}{۸}$ = $\frac{۵}{۸}$ − ۱ = احتمال رخ ندادن

(ج) دامنه تغییرات = (بزرگترین) − (کوچکترین) = ۱۲ − ۸ = ۴

(د) مربع

۳- الف) $\frac{۲}{۷} = \frac{\sqrt{۴}}{\sqrt{۴۹}}$

$\sqrt{۱۶ \times ۲۵} = ۴ \times ۵ = ۲۰$ ⇐

$\sqrt{۱۶ \times ۲۵} = \sqrt{۴۰۰} = ۲۰$

ب)

$\sqrt{۲۵} < \sqrt{۲۸} < \sqrt{۳۶} \Rightarrow ۵ < \sqrt{۲۸} < ۶$

$(۵)^۲ = ۲۵$

$(۵/۱)^۲ = ۲۶/۰۱$

$(۵/۲)^۲ = ۲۷/۰۴$ ⇒ $\sqrt{۲۸} \simeq (۵/۳)$

$(۵/۳)^۲ = ۲۸/۰۹$

$(۵/۴)^۲ = ۲۹/۱۶$

۴- عدد اول است؛ زیرا هیچ شمارنده‌ای به جز ۱ و خودش ندارد

۵- (اتحاد مزدوج)

(الف) $= x^۲ - yx + xy - y^۲ = x^۲ - y^۲$

(ب) $۴x(۴y - z) = ۱۶xy - ۴xz$

www-kanoon-ir

Scanned with CamScanner

۶- $\frac{۷}{۶}x + \frac{۳}{۲} = \frac{۱}{۳} \Rightarrow \frac{۷}{۶}x = \frac{۱}{۳} - \frac{۳}{۲} = \frac{۲-۹}{۶} = \frac{-۷}{۶}$

$\Rightarrow \frac{۷}{۶}x = \frac{-۷}{۶} \Rightarrow x = -۱$

۷- $۵x - ۲ = ۱۸ \Rightarrow ۵x = ۲۰ \Rightarrow x = ۴$

۸-

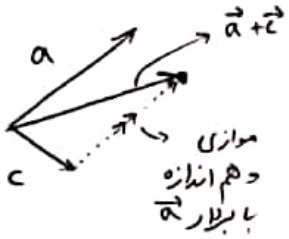

۹- $a = \begin{bmatrix} ۲ \\ ۳ \end{bmatrix}$ ، $b = \begin{bmatrix} ۲ \\ -۴ \end{bmatrix} \Rightarrow ۲b = \begin{bmatrix} ۴ \\ -۸ \end{bmatrix}$

$\Rightarrow c = \begin{bmatrix} ۲ \\ ۳ \end{bmatrix} + \begin{bmatrix} ۴ \\ -۸ \end{bmatrix} = \begin{bmatrix} ۶ \\ -۵ \end{bmatrix}$

۱۰- $۶^{۱۰} \times ۵^{۱۰} = ۳۰^{۱۰}$ ، $۳۰^{۷} \times ۳۰^{۵} = ۳۰^{۱۲}$

$\Rightarrow \frac{۳۰^{۱۲}}{۳۰^{۱۰}} = (۳۰)^{۲} = ۹۰۰$

۱۱-

(۱) $= ۲۸ + ۳۲ \div ۲ = ۲۸ + ۱۶ = ۴۴$

(۲) $(-۵۸) \div (-۱) = ۵۸$

۱۲- مرکز متوسط $\Rightarrow ۴ = x$ | $\Rightarrow$ فراوانی $= ۴$

$۸ > x \geq ۰$

	فراوانی	مرکز دسته	فراوانی × مرکز متوسط
$۰ \leq x < ۸$	۴	۴	۱۶
$۸ \leq x < ۱۶$	۶	۱۲	۷۲
مجموع	۱۰		۸۸

میانگین $= \frac{۴ \times ۴ + ۶ \times ۱۲}{۱۰} = \frac{۸۸}{۱۰} = ۸/۸$

www.konoon.ir

Scanned with CamScanner

مهدی هوشنویس - دبیرستان حضرت فاطمه - ریاضی ۸

۱۳ - الف) $\frac{۴}{۱۴} = \frac{۲}{۷}$

ب) $\frac{۶}{۱۴} = ۱ - \frac{۸}{۱۴} = \frac{۳}{۷}$

۱۴ - دو مماس از یک نقطه بر دایره طول برابر دارند ← $AM = BM$

این را نویسید در لطفا ← $OA = OB$ شعاع

$A = B = ۹۰$ ← به علت وتر و ضلع قائمه

OM تقارن

۱۵ - الف) $O\hat{A}B = ۹۰^\circ$ (قائمه)

← فیثاغورس $AB^۲ + OA^۲ = OB^۲$ ← $۶۴ + ۳۶ = a^۲ = ۱۰۰$

$\Rightarrow a = ۱۰$

ب) $\hat{A} = \frac{۸۰^\circ}{۲} = ۴۰^\circ = \frac{\overset{\frown}{BC}}{۲}$

$\overset{\frown}{BC} = ۸۰^\circ = \hat{BOC}$

$\overset{\frown}{BAC} = ۳۶۰^\circ - ۸۰^\circ = ۳۶۰^\circ - \overset{\frown}{BC} = ۲۸۰^\circ$

$O\hat{A}C$ متساوی الساقین ← ($OA = OC$ = شعاع) ← $\hat{A} = \hat{C}$

$\Rightarrow \hat{A} = \hat{C} = ۴۰^\circ$

Scanned with CamScanner