نام:	باسمه تعالی	تاریخ امتحان:	۱۴۰۲/۳/۲
نام‌خانوادگی:	مدیریت آموزش و پرورش شهرستان لار	ساعت برگزاری:	۱۰:۳۰ صبح
نام درس: ریاضی	**دبیرستان فرزانگان لار**	مدت امتحان:	۱۲۰ دقیقه
پایه: هشتم	محل مهر آموزشگاه	**تعداد صفحه: ۴ صفحه**	
رشته:		**شماره صفحه:**	

مصحح اول		**مصحح دوم (در صورت اعتراض و درخواست کتبی دانش‌آموز)**	
نام و نام‌خانوادگی دبیر تصحیح:	تاریخ و امضا:	نام و نام‌خانوادگی دبیر تصحیح:	تاریخ و امضا:
نمره با عدد:	نمره با حروف:	نمره با عدد:	نمره با حروف:

ردیف	سوالات	بارم

توجه: نوشتن فرمول و راه حل الزامی است

۱ — **صحیح و غلط** — بارم: ۱/۵

الف) n ضلعی منتظم n خط تقارن دارد. صحیح☐ غلط☐

ب) دو عدد ۹۳ و ۱۱۱ نسبت به هم اولند. صحیح☐ غلط☐

ج) با هر نوع مثلث می‌توان کاشی‌کاری کرد. صحیح☐ غلط☐

د) اگر داده کمتر از میانگین از جمع داده‌ها حذف کنیم، میانگین جدید کمتر می‌شود. صحیح☐ غلط☐

ه) یک عدد مرکب را تقریباً اول گوییم هرگاه هر دو شمارنده آن به غیر از خود عدد، نسبت به هم اول باشند. صحیح☐ غلط☐

ی)اگر دو زاویه وضلع بزرگتر از مثلثی با دو زاویه و ضلع بزرگتراز مثلث دیگربرابر باشد، آن دو مثلث همنهشتند. صحیح☐ غلط☐

۲ — **سوالات چهارگزینه‌ای** — بارم: ۲

الف) در غربال اعداد ۱ تا ۱۵۰ برای تعیین اعداد اول، کدام عدد دیرتر خط خورد؟

۱) ۱۱۷ ۲) ۱۲۱ ۳) ۲۵ ۴) ۱۴۸

ب) کدام گزینه صحیح است؟

۱) $\sqrt{۱۱}+\sqrt{۵}>\sqrt{۱۲}+\sqrt{۴}$ ۲) $\sqrt{xy}=\sqrt{x}\sqrt{y}$

۳) $\sqrt{۳^{۸}\sqrt{۶^{۱۶}}}=۱۸^{۴}$ ۴) گزینه ۱ و ۳

ج) در شکل زیر برآیند بردارهای $\vec{e}+\vec{f}+\vec{g}$ کدام است؟

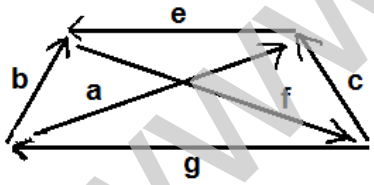

۱) $-\vec{a}$ ۲) $\vec{b}$

۳) $-\vec{b}$ ۴) $\vec{a}$

د) در مستطیل زیر، مثلث ABD و CDB به چه حالتی همنهشتند؟

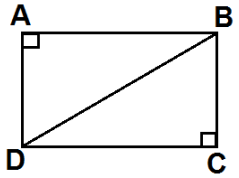

۱) ض ض ض ۲)ض ز ض

۳)وض ۴) هر سه

۳ — معادله برداری زیر را حل کنید: — بارم: ۱

$$-۵(\vec{i}+\vec{j})+۳x=\begin{bmatrix}-۷\\-۴\end{bmatrix}$$

www-kanoon-ir

نام:	باسمه تعالی	تاریخ امتحان:	**۱۴۰۲/۳/۲**
نام‌خانوادگی:	مدیریت آموزش و پرورش شهرستان لار	ساعت برگزاری:	۱۰:۳۰ صبح
نام درس: ریاضی	**دبیرستان فرزانگان لار**	مدت امتحان:	۱۲۰ دقیقه
پایه: هشتم	محل مهر آموزشگاه	**تعداد صفحه: ۴ صفحه**	
رشته:		**شماره صفحه:**	

مصحح اول		**مصحح دوم (در صورت اعتراض و درخواست کتبی دانش‌آموز)**	
نام و نام‌خانوادگی دبیر تصحیح:	تاریخ و امضا:	نام و نام‌خانوادگی دبیر تصحیح:	تاریخ و امضا:
نمره با عدد:	نمره با حروف:	نمره با عدد:	نمره با حروف:

ردیف	سوالات	بارم
۴	الف) عبارت زیر را تجزیه کنید: $xz + xw - yz - yw$	۰/۷۵
	ب) عبارت جبری زیر را ساده نمایید: $(z - ۱)(z - ۱) - (z^۳ - ۱)(z - ۲)$	۱
۵	عبارت‌های زیر را محاسبه کنید. الف) $\frac{۱۶}{۲\times۸\times۴} + \frac{۱۸}{۴\times۹\times۶} + \cdots + \frac{۲۸}{۱۴\times۱۴\times۱۶}$	۱
	ب) $\sqrt{\frac{۱/۲۱\times۰/۸۱\times۰/۵}{۰/۱\times۱۲۵}}$	۱/۲۵
	ج) $\left(\frac{\sqrt{a}-\sqrt{b}}{\sqrt{a-b}}\right)^{۱۰۰} \cdot \left(\frac{\sqrt{a}+\sqrt{b}}{\sqrt{a-b}}\right)^{۱۰۰}$	۱
۶	در جعبه‌ای ۱۲۰ کارت در رنگ‌های سفید و سیاه و آبی وجود دارد و از هر رنگ شماره‌های ۱ تا ۴۰ داریم. یک کارت به تصادف از جعبه خارج می‌کنیم، احتمال اینکه کارت آبی **یا** شماره کارت شمارنده‌ی عدد ۱۸ باشد، چقدر است؟	۱

www-kanoon-ir

نام:	باسمه تعالی	تاریخ امتحان:	۱۴۰۲/۳/۲
نام‌خانوادگی:	مدیریت آموزش و پرورش شهرستان لار	ساعت برگزاری:	۱۰:۳۰ صبح
نام درس: ریاضی	**دبیرستان فرزانگان لار**	مدت امتحان:	۱۲۰ دقیقه
پایه: هشتم	محل مهر آموزشگاه	**تعداد صفحه: ۴ صفحه**	
رشته:		**شماره صفحه:**	

مصحح اول		**مصحح دوم (در صورت اعتراض و درخواست کتبی دانش‌آموز)**	
نام و نام‌خانوادگی دبیر تصحیح:	تاریخ و امضا:	نام و نام‌خانوادگی دبیر تصحیح:	تاریخ و امضا:
نمره با عدد:	نمره با حروف:	نمره با عدد:	نمره با حروف:

ردیف	سوالات	بارم
۷	در شکل زیر ، مشخص کنید نقاط A و B چه عددی را روی محور نشان می‌دهند؟ طول پاره خط AB چقدر است؟ 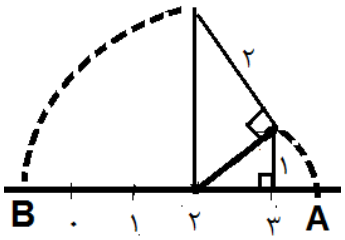	۱
۸	نقطه M روی نیمساز زاویه AOB قرار دارد. مقدار X را بیابید. 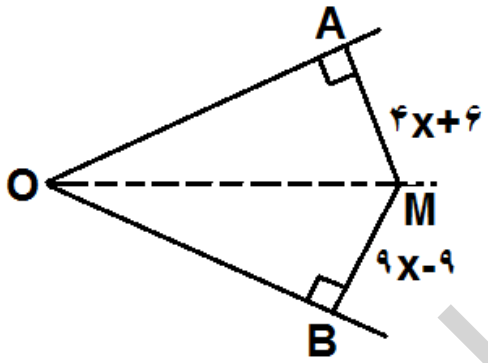	۰/۷۵
۹	الف) چگونه می‌توان مرکز یک دایره را پیدا کرد؟ با رسم شکل توضیح دهید.	۰/۷۵
	ب) در یک دایره وتری به طول ۱۶ مفروض است. اگر طول بزرگترین وتر این دایره ۲۰ باشد، فاصله مرکز دایره تا این وتر چقدر است؟	۰/۷۵
۱۰	پاره خط‌های AB و CD بر دایره **مماس** هستند و O مرکز دایره است. نشان دهید دو مثلث AOB و DOC همنهشتند. 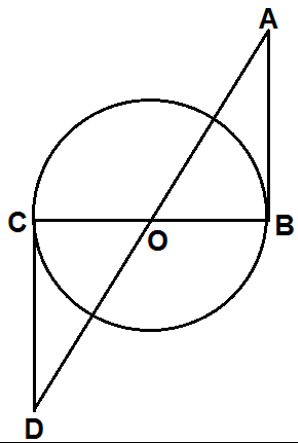	۱

www-kanoon-ir

نام:	باسمه تعالی	تاریخ امتحان:	**۱۴۰۲/۳/۲**
نام‌خانوادگی:	مدیریت آموزش و پرورش شهرستان لار	ساعت برگزاری:	۱۰:۳۰ صبح
نام درس: ریاضی	**دبیرستان فرزانگان لار**	مدت امتحان:	۱۲۰ دقیقه
پایه: هشتم	محل مهر آموزشگاه	**تعداد صفحه: ۴ صفحه**	
رشته:		**شماره صفحه:**	

مصحح اول		**مصحح دوم (در صورت اعتراض و درخواست کتبی دانش‌آموز)**	
نام و نام‌خانوادگی دبیر تصحیح:	تاریخ و امضا:	نام و نام‌خانوادگی دبیر تصحیح:	تاریخ و امضا:
نمره با عدد:	نمره با حروف:	نمره با عدد:	نمره با حروف:

ردیف	سوالات	بارم
۱۱	در شکل زیر یک پنج ضلعی منتظم و یک شش ضلعی منتظم وجود دارد اندازه زاویه X چقدر است؟ 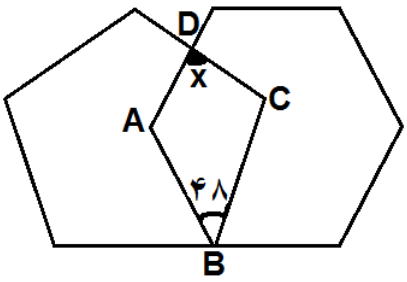	۱
۱۲	ثابت کنید اگر خطی دو دایره هم مرکز را قطع کند، دو پاره خطی که بین دو دایره قرار می‌گیرند، برابرند.	۱/۵
۱۳	در شکل زیر پاره خط AB **مماس بر دایره** است و کمان AMC (کمان بزرگتر) ۳۲۰ درجه است. جاهای خالی را کامل کنید. 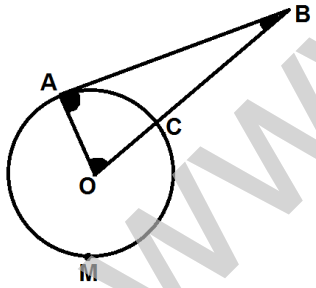 AC=.....(کمان کوچکتر) O=..... زاویه A=..... زاویه B=..... زاویه	۱
۱۴	جاهای خالی را کامل کنید. میانگین	۱/۷۵
	با آرزوی توفیق ... طراح سوال: فاطمه حق شناس	۲۰

دسته‌ها	فراوانی	مرکز دسته	مرکز دسته× فراوانی
$۱۰ \leq x < ۱۲$	۴	.....	.....
$۱۲ \leq x \leq ۱۴$	.....	.....	.....
مجموع	۶		.....

www-kanoon-ir

پیشنهاد مالی فرد دبیرستان فرزانگان کار

۱/ الف) ص ب) ص ج) غ د) غ ه) ص ی) غ

۲/ الف) ۲ ب) ۲ ج) ۴- د) ۴

۳/ $-5\begin{bmatrix}1\\1\end{bmatrix}+3x=\begin{bmatrix}-7\\-4\end{bmatrix}$ $\begin{bmatrix}-5\\-5\end{bmatrix}+3x=\begin{bmatrix}-7\\-4\end{bmatrix}$

$3x=\begin{bmatrix}-7\\-4\end{bmatrix}-\begin{bmatrix}-5\\-5\end{bmatrix}$ $3x=\begin{bmatrix}-2\\1\end{bmatrix}$

$x=\begin{bmatrix}-2/3\\1/3\end{bmatrix}$

۴/ الف) $x2-xw-y2-yw=x(2-w)-y(2+w)$

ب) $(2-1)(2-1)-(2^3-1)(2-2)$

$2^2-2-2+1-(2^4-2\cdot2^3-2+2)$

$=2^2-2\cdot2+1-2^4+2\cdot2^3+2-2$

$=-2^4+2\cdot2^3+2^2-2-1$

www.kanoon.ir

Scanned with CamScanner

$$\sqrt{\frac{1{,}21 \times 0{,}81 \times 0{,}25}{0{,}1 \times 125}} = \frac{1{,}1 \times 0{,}9}{5} = \frac{0{,}99}{5} = 0{,}198$$

$$\therefore \left(\frac{\sqrt{a}-\sqrt{b}}{\sqrt{a-b}}\right)^{100}\left(\frac{\sqrt{a}+\sqrt{b}}{\sqrt{a-b}}\right)^{100} = \left(\frac{\sqrt{a}-\sqrt{b}}{\sqrt{a-b}} \times \frac{\sqrt{a}+\sqrt{b}}{\sqrt{a-b}}\right)^{100}$$

$$= \left(\frac{a-b}{a-b}\right)^{100} = 1^{100} = 1$$

صورت : $(\sqrt{a}-\sqrt{b})(\sqrt{a}+\sqrt{b}) = a+\sqrt{ab}-\sqrt{ab}-b = a-b$

احتمال آنکه یکی از شمارنده‌های ۱۸ باشد = تعداد شمارنده‌های ۱۸ / کارت‌های آبی + کارت‌های قرمز

$$\text{احتمال} = \frac{\text{مطلوب}}{\text{کل}}$$

شمارنده‌های ۱۸ = {1, 2, 3, 6, 9, 18} ۶ کارت شمارنده‌های ۱۸

کارت‌های سفید و سیاه = ۶ کارت سفید + ۶ کارت سیاه = ۱۲

$$\text{احتمال} = \frac{\text{مطلوب}}{\text{کل}} = \frac{12+40}{120} = \frac{52}{120} = \frac{13}{30}$$

PILLNOTEBOOK

Scanned with CamScanner

V/

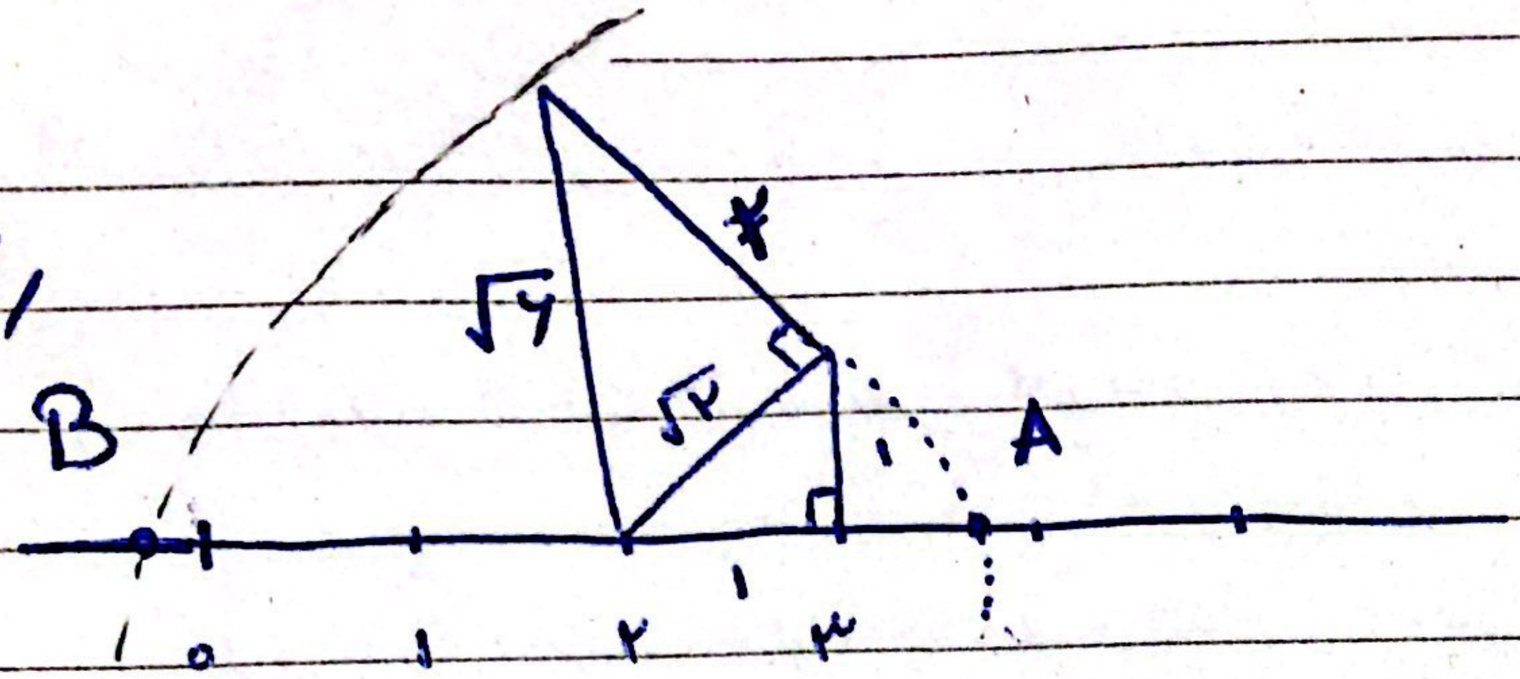

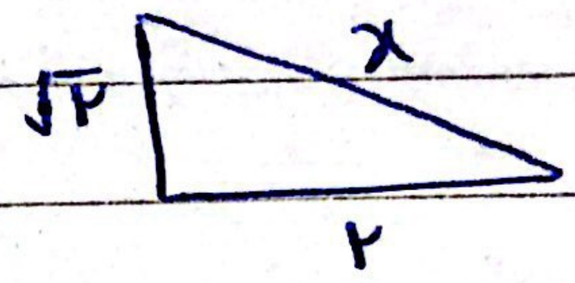

$x^2 = 2^2 + \sqrt{2}^2$

$x^2 = 4 + 2 = 6$

$x = \sqrt{6}$

$A = 2 + \sqrt{2}$

$B = 2 - \sqrt{6}$

$|AB| = A - B = 2 + \sqrt{2} - (2 - \sqrt{6}) = 2 + \sqrt{2} - 2 + \sqrt{6}$

$|AB| = \sqrt{2} + \sqrt{6}$

۸۱

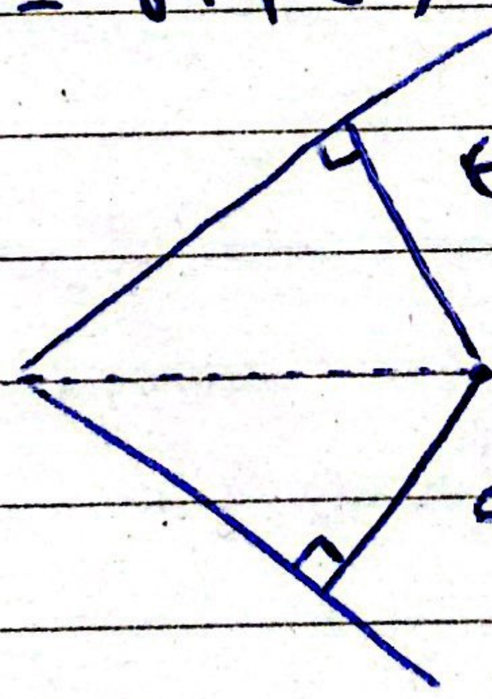

فاصله‌ی هر نقطه روی نیمساز از دو سر پاره خط یک اندازه است. $\overline{AB}$

$4x + 6 = 9x - 9$ $\quad 4x - 9x = -9 - 6 \quad -5x = -15$

$x = \frac{-15}{-5} = 3$

www.kanoon.ir

Scanned with CamScanner

۹/ برای پیدا کردن مرکز دایره کافی است نقطه‌ی برخورد عمود —

الف)

— منصف های دو وتر (غیر موازی) را به دلخواه رسم کنیم.

محل برخورد عمود منصف ها در داخل دایره مرکز دایره می باشد

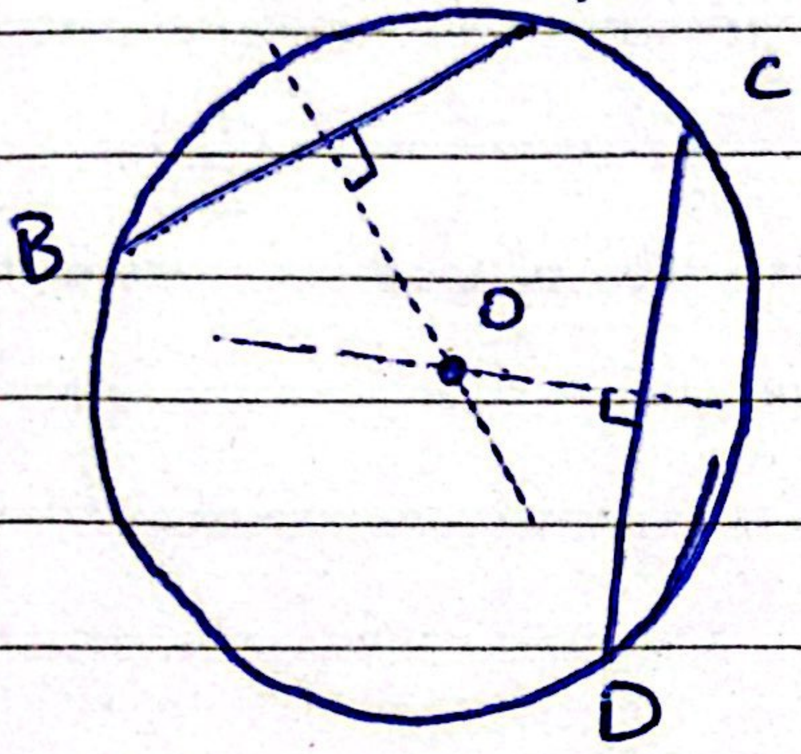

ب / ۹

بزرگترین وتر دایره = قطر = ۲۰

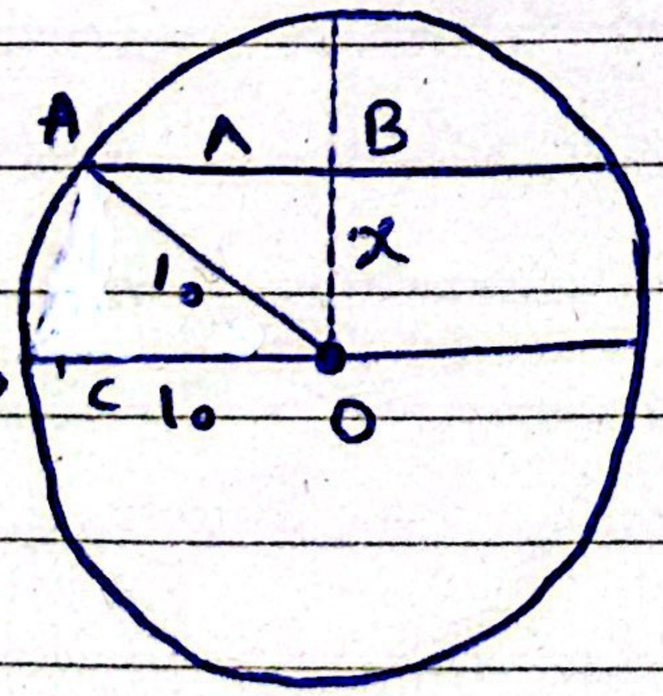

$$AB^2 + OB^2 = OA^2$$

$$8^2 + x^2 = 100 \qquad x^2 = 100 - 64$$

$$x^2 = 36 \longrightarrow x = 6 \text{ cm}$$

www.kanoon-ir

PILLNOTEBOOK

Scanned with CamScanner

۱۰/ $\triangle OCD$, $\triangle OBA$

$\hat{C} = \hat{B} = 90$

$O_1 = O_2$ متقابل به راس

زاویه‌ی $\triangle$ زاویه‌ی $\triangle$

$\triangle OCD \cong \triangle OBA$

$OC = OB = 2$

اجزا متناظر $\rightarrow$ $OD = OA$, $\hat{D} = \hat{A}$, $AB = CD$

۱۱/ اندازه‌ی یک زاویه $= \frac{(n-2) \times 180}{n}$

داخلی n ضلعی منتظم

زاویه داخلی ۶ ضلعی $= \frac{(6-2) \times 180^{30}}{6_{3}} = 120 = A$

زاویه داخلی ۵ ضلعی $= \frac{(5-2) \times 180^{36}}{5} = 108 = C$

$A + B + C + D = 360$ $\quad 120 + 48 + 108 + x = 360$

$276 + x = 360$ $\quad x = 84$

www.konkoon.ir

Scanned with CamScanner

۱۲)

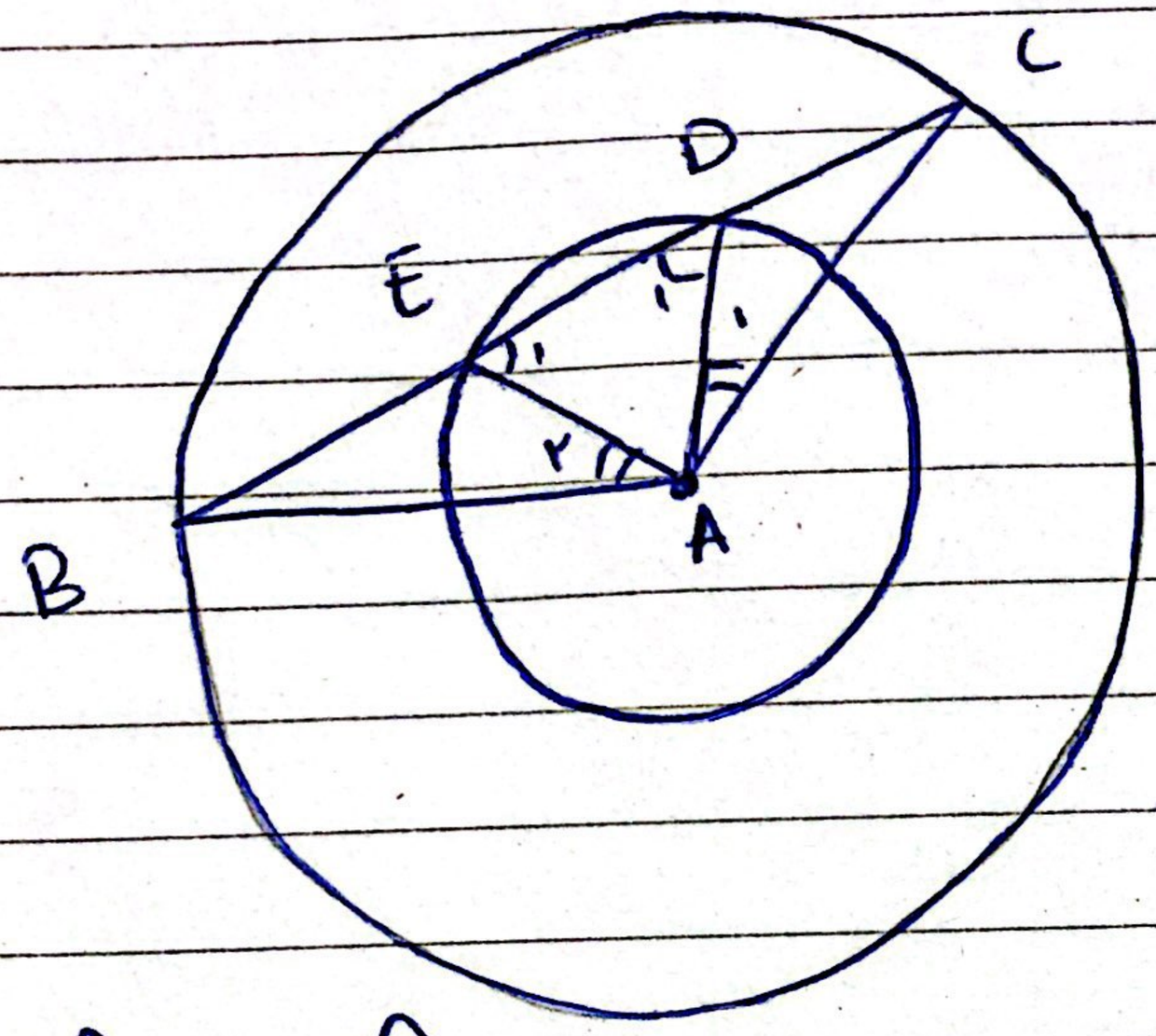

حکم : $EB = DC$

مثلث های ABC و DAE

متساوی الساقین هستند

پس $B = C$ و $E_1 = D_1$

با توجه به زاویه خارجی مثلث $A_1 = A_2$ مثلث های $\overset{\triangle}{EAB}$ و $\overset{\triangle}{DAC}$

با توجه به شعاع دایره به حالت فرزند هم نهشت هستند. پس :

$EB = DC$

۱۳) $\overset{\frown}{AC} = ۳۶۰ - ۳۲۰ = ۴۰$ مرکزی $\hat{O} = ۴۰$

$A = ۹۰$ $B = ۱۸۰ - (\underbrace{\cancel{۹۰ + ۴۰}}_{۱۳۰}) = ۵۰$

۱۴-

دسته	فراوانی	مرکز دسته	مرکز دسته × فراوانی
$۱۰ \leq x < ۱۲$	۴	۱۱	$۴ \times ۱۱ = ۴۴$
$۱۲ \leq x \leq ۱۴$	۲	۱۳	$۲ \times ۱۳ = ۲۶$
مجموع	۶		۷۰

$$\text{میانگین} = \frac{\text{مجموع (مرکز دسته × فراوانی)}}{\text{مجموع فراوانی}} = \frac{۷۰}{۶} = \frac{۳۵}{۳}$$

PILLNOTEBOOK

Scanned with CamScanner