بسمه تعالی

نام و نام خانوادگی:

نام پدر: تاریخ امتحان: ۱۴۰۲/۰۳/۰۶

پایه : هشتم — مرکز ملی پرورش استعدادهای درخشان و دانش پژوهان جوان — مدت امتحان: ۱۲۰دقیقه

نام درس: ریاضی — نوبت: دوم سال تحصیلی۱۴۰۲-۱۴۰۱ — تعداد سوال: ۱۳

نام دبیر: دبیرستان فرزانگان (دوره اول) شهرستان سمنان — تعداد صفحه: ۳

ردیف	نمره با عدد:	نمره با حروف :	نام دبیر: تاریخ و امضاء:	بارم

۱ — بارم: ۱

درستی یا نادرستی را مشخص کنید.

الف)حاصلضرب هر عدد گویا مخالف صفر در قرینه و معکوسش برابر ۱- است.

ب)هفت ضلعی منتظم مرکز تقارن دارد.

ج)فاصله مرکز دایره تا خطی $\frac{۱}{۳}$ شعاع دایره می باشد ، خط و دایره دو نقطه مشترک اند.

د)$-\sqrt{۳۷}$ بین دو عدد صحیح ۷ و ۸ می باشد.

۲ — بارم: ۲

کامل کنید.(با راه حل)

الف) اندازه هر زاویه خارجی ۱۲ ضلعی منتظم برابر است با .....

ب) در غربال ۱ تا ۱۰۰ ، ۵۲ اُمین عددی که خط می خورد، ..... می باشد.

ج) در خانواده ای که سه فرزند دارند احتمال آنکه فقط یک دختر داشته باشند .....می باشد.

د) حاصل $[۱۲۰ , ۲۴۰] \times (a , a+۱)$ ..... می باشد.

۳ — بارم: ۳

سوالات چهار گزینه ای : (با راه حل)

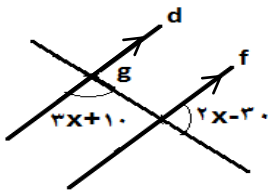

الف) در شکل روبرو $d \| f$ در این صورت g چند درجه است؟

۱) ۵۰ ۲) ۴۰ ۳) ۳۰ ۴) ۶۰

ب) به ازای چه مقدار از m مجموع دو بردار $\vec{a} = (m+۱)\vec{i} + ۲\vec{j}$ و $\vec{b} = ۲\vec{i} - m\vec{j}$ موازی محور عرض ها می باشد؟

۱) ۲ ۲) ۱ ۳) -۳ ۴) ۰

ج) قطر های یک لوزی ۱۸ و ۲۴ سانتی متر می باشد ، محیط لوزی چند سانتی متر است؟

۱) ۱۵ ۲) ۲۲۵ ۳) ۶۰ ۴) $\sqrt{۲۱۶}$

د) حاصل عبارت $\frac{n+n^۲}{n^۲+n^۳}$ کدام است؟ (صورت و مخرج را به صورت ضرب در آورید و سپس ساده کنید)

۱) $\frac{۱}{n}$ ۲) n ۳) $\frac{۱}{n^۲}$ ۴) $n^۲$

۴ — بارم: ۱

حاصل را در هر قسمت بیابید .

الف) $\frac{۱}{۳ \times ۷} + \frac{۱}{۷ \times ۱۱} + \frac{۱}{۱۱ \times ۱۵} + \cdots + \frac{۱}{۵۹ \times ۶۳}$

بارم: ۱/۲۵

ب) $(x+y)^۲ - ۲(۱+xy) =$

www-kanoon-ir

۵	الف) با توجه به شکل حاصل بردار $۲\vec{a} - \vec{b} + \vec{c}$ را بیابید. 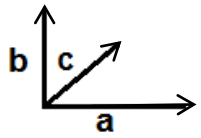 ب) در معادله مختصاتی زیر بردار $\vec{x}$ را بیابید . $۳\vec{i} - ۲\vec{j} + ۲\begin{bmatrix} -۱ \\ ۲ \end{bmatrix} = ۳\vec{x} - ۲\vec{i}$	۱/۵
۶	الف) عبارت زیر را به صورت عدد تواندار بنویسید. $\frac{۲^۷ + ۲^۷}{۱۶ \times ۲^۳} =$	۰/۷۵
	ب) حاصل عبارت زیر را بیابید. $\sqrt{۴۵ + \sqrt{۶ + ۲\sqrt{۱۶ + ۹}}} =$	۰/۷۵
	ج) اگر $۳^a = ۵$ باشد مقدار $۲۷^{a-۱}$ را بیابید.	۰/۷۵
	د) نقطه A نمایش چه عددی است؟ 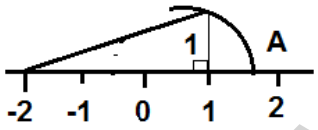 	۰/۵
۷	ثابت کنید هر نقطه روی نیمساز یک زاویه از دو ضلع آن به یک فاصله است؟	۱/۲۵
۸	ثابت کنید در هر مثلث متساوی الساقین میانه های وارد بر ساق ها با هم برابرند .	۱/۲۵
۹	با توجه به جدول میانگین را تا یک رقم اعشار به دست آورید.	۱/۵

دسته	فراوانی	متوسط دسته	فراوانی × متوسط دسته
$۵ \leq x < ۹$	۳		
$۹ \leq x \leq ۱۳$		۱۱	۵۵
مجموع			

www-kanoon-ir

بسمه تعالی

نام و نام خانوادگی:

نام پدر:

پایه : هشتم

نام درس: ریاضی

نام دبیر:

مرکز ملی پرورش استعدادهای درخشان و دانش پژوهان جوان

نوبت: دوم سال تحصیلی۱۴۰۲-۱۴۰۱

دبیرستان فرزانگان (دوره اول) شهرستان سمنان

تاریخ امتحان: ۱۴۰۲/۰۳/۰۶

مدت امتحان: ۱۲۰ دقیقه

تعداد سوال: ۱۳

تعداد صفحه: ۳

۱۰	با ارقام $\{۵ ، ۴ ، ۳ ، ۲ ، ۱\}$ که می خواهیم عدد سه رقمی بسازیم چقدر احتمال دارد فرد باشد (بدون تکرار).	۰/۷۵
۱۱	در شکل زیر AB مماس بر دایره و $\overset{\frown}{BE} = ۸۰$ استاندازه زاویه های خواسته شده را بنویسید. 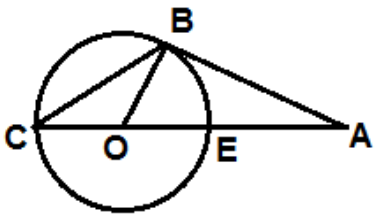 $\hat{A} =$ $\hat{B} =$ $B\hat{O}C =$ $\overset{\frown}{BCE} =$	۱
۱۲	الف) در شکل مقابل x را بیابید. 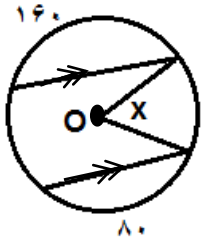 ب) در شکل روبرو مقدار y را بیابید. 	۰/۵ ۰/۵
۱۳	در دایره مقابل BC قطر دایره است و $\overset{\Delta}{ABC} \cong \overset{\Delta}{ODE}$ و $AB =$ شعاع دایره $= ۱cm$ با توجه به شکل اندازه های خواسته شده را بنویسید. 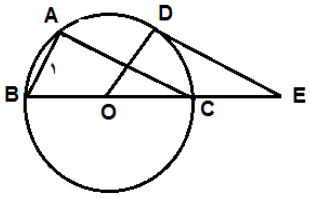 $\hat{E} =$ $\overline{DE} =$	۰/۷۵

www-kanoon-ir

کار زیبا خبر از بلندی همّت می دهد. امام علی (ع)

پرسیت زمانی فرد ۲۸۳۳ مهندسی عمران

بسمه تعالی

مرکز ملی پرورش استعدادهای درخشان و دانش پژوهان جوان

نام و نام خانوادگی:

نام پدر:

پایه : هشتم

نام درس: ریاضی

نام دبیر:

نوبت: دوم سال تحصیلی ۱۴۰۲-۱۴۰۱

دبیرستان فرزانگان (دوره اول) شهرستان سمنان

تاریخ امتحان: ۱۴۰۲/۰۳/۰۶

مدت امتحان: ۱۲۰دقیقه

تعداد سوال: ۱۳

تعداد صفحه: ۳

ردیف	نمره با عدد:	نمره با حروف :	نام دبیر: تاریخ و امضاء:	بارم

۱ درستی یا نادرستی را مشخص کنید. ۱

الف) حاصلضرب هر عدد گویا مخالف صفر در قرینه و معکوسش برابر ۱- است. ص

ب) هفت ضلعی منتظم مرکز تقارن دارد. غ

ج) فاصله مرکز دایره تا خطی $\frac{1}{3}$ شعاع دایره می باشد ، خط و دایره دو نقطه مشترک اند. ص

د) $-\sqrt{37}$ بین دو عدد صحیح ۷ و ۸ می باشد. غ

۲ کامل کنید.(با راه حل)

اندازه ی هر زاویه خارجی ۲ $= \frac{360}{12} = 30$

الف) اندازه هر زاویه خارجی ۱۲ ضلعی منتظم برابر است با ...۳۰...

ب) در غربال ۱ تا ۱۰۰ ، ۵۲ اُمین عددی که خط می خورد، ...۲۱... می باشد.

ج) در خانواده ای که سه فرزند دارند احتمال آنکه فقط یک دختر داشته باشند ...$\frac{3}{8}$... می باشد.

د) حاصل $[120, 240] \times (a, a+1)$ ...۲۴۰... می باشد.

۳ سوالات چهار گزینه ای : (با راه حل) ۳

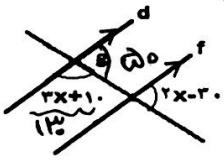

$2x-30+3x+10=180$

$5x-20=180$

$5x=200$

$x=40$

الف) در شکل روبرو $d \| f$ در این صورت g چند درجه است؟

۱) ۵۰ ۲) ۴۰ ۳) ۳۰ ۴) ۶۰

ب) به ازای چه مقدار از m مجموع دو بردار $\vec{a} = (m+1)\vec{i} + 2\vec{j}$ و $\vec{b} = 2\vec{i} - m\vec{j}$ موازی محور عرض ها می باشد؟

$a+b = \begin{bmatrix} m+3 \\ 2-m \end{bmatrix}$ $m+3=0$ $m=-3$

۱) ۲ ۲) ۱ ۳) ۳- ۴) ۰



ج) قطر های یک لوزی ۱۸ و ۲۴ سانتی متر می باشد ، محیط لوزی چند سانتی متر است؟

$x^2 = 81+144 = 225$

$x = 15$

۱) ۱۵ ۲) ۲۲۵ ۳) ۶۰ ۴) $\sqrt{216}$

محیط $= 4 \times 15 = 60$

د) حاصل عبارت $\frac{n+n^2}{n^2+n^3}$ کدام است؟ (صورت و مخرج را به صورت ضرب در آورید و سپس ساده کنید)

$\frac{n(1+n)}{n^2(1+n)} = \frac{1}{n}$

۱) $\frac{1}{n}$ ۲) n ۳) $\frac{1}{n^2}$ ۴) n^2

۴ حاصل را در هر قسمت بیابید . ۱

الف) $\frac{1}{3\times7} + \frac{1}{7\times11} + \frac{1}{11\times15} + \cdots + \frac{1}{59\times63}$ $\Rightarrow 4A = \frac{1}{3} - \cancel{\frac{1}{7}} + \cancel{\frac{1}{7}} - \cancel{\frac{1}{11}} + \cancel{\frac{1}{11}} - \cancel{\frac{1}{15}} + \cdots + \cancel{\frac{1}{59}} - \frac{1}{63} =$

$4A = \frac{1}{3} - \frac{1}{63} = \frac{21-1}{63} = \frac{20}{63}$

$A = \frac{20}{63} \div 4 = \frac{5}{63}$

ب) $(x+y)^2 - 2(1+xy) =$ ۱/۲۵

$(x+y)(x+y) - 2(1+xy) = x^2+xy+xy+y^2-2-2xy$

$= x^2 + \cancel{2xy} + y^2 - 2 - \cancel{2xy} = x^2+y^2-2$

www.kanoon.ir

Scanned with CamScanner

۱/۵

...جه به شکل حاصل بردار $۲\vec{a}-\vec{b}+\vec{c}$ را بیابید.



ب) در معادله مختصاتی زیر بردار $\vec{x}$ را بیابید.

$$۳\vec{i}-۲\vec{j}+۲\begin{bmatrix}-۱\\۲\end{bmatrix}=۳\vec{x}-۲\vec{i}$$

$$\begin{bmatrix}۳\\-۲\end{bmatrix}+\begin{bmatrix}-۲\\۴\end{bmatrix}-\begin{bmatrix}-۲\\۰\end{bmatrix}=۳x$$

$$\begin{bmatrix}۳\\-۲\end{bmatrix}+\begin{bmatrix}-۲\\۴\end{bmatrix}=۳x+\begin{bmatrix}-۲\\۰\end{bmatrix} \qquad \begin{bmatrix}۳\\۲\end{bmatrix}=۳x \qquad x=\begin{bmatrix}۱\\۲/۳\end{bmatrix}$$

۰/۷۵ — ۶

الف) عبارت زیر را به صورت عدد تواندار بنویسید.

$$\frac{۲^۷+۲^۷}{۱۶\times ۲^۳}=\frac{۲\times ۲^۷}{۲^۴\times ۲^۳}=\frac{۲^۸}{۲^۷}=۲$$

۰/۷۵

ب) حاصل عبارت زیر را بیابید.

$$\sqrt{۴۵+\sqrt{\cancel{۶}^{۴}+۲\sqrt{\cancel{۱۶}^{۵}+۹}}}=\sqrt{۴۵+۴}=\sqrt{۴۹}=۷$$

$\sqrt{۱۶}$ ۴

۰/۷۵

ج) اگر $۳^a=۵$ باشد مقدار $۲۷^{a-۱}$ را بیابید.

$$(۳^۳)^{a-۱}=۳^{۳a-۳}=۳^{۳a}\div ۳^۳=\frac{۱۲۵}{۲۷}=\left(\frac{۵}{۳}\right)^۳$$

$$۳^{۳a}=۵^۳$$

$$۳^{۳a}=۱۲۵$$

۰/۵

د) نقطه A نمایش چه عددی است؟

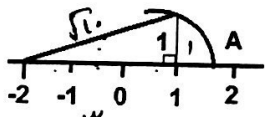

$$-۲+\sqrt{۱۰}$$

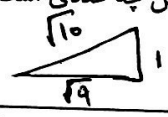

۱/۲۵ — ۷

ثابت کنید هر نقطه روی نیمساز یک زاویه از دو ضلع آن به یک فاصله است؟

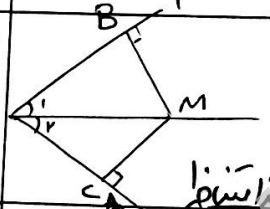

$\overset{\triangle}{AMB}$ و $\overset{\triangle}{AMC}$

AM ضلع مشترک (وتر)

$B=C=۹۰$

$A_۱=A_۲$

$\xrightarrow{\text{وز}} \overset{\triangle}{AMB}\cong\overset{\triangle}{ACM}$

$A_۱=A_۲$ | حرف

$MB=MC$ | حکم

$\xrightarrow{\text{اجزا متناظر}} BM=MC$

۱/۲۵ — ۸

ثابت کنید در هر مثلث متساوی الساقین میانه های وارد بر ساق ها با هم برابرند.

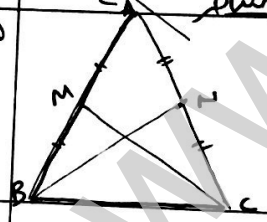

$\overset{\triangle}{ABN}$ و $\overset{\triangle}{AMC}$

$AN=AM$

$A=$ زاویه مشترک

$AC=AB$

$\xrightarrow{\text{ض ز ض}} \overset{\triangle}{ABN}\cong\overset{\triangle}{AMC}$

۱/۵ — ۹

با توجه به جدول میانگین را تا یک رقم اعشار به دست آورید.

دسته	فراوانی	متوسط دسته	فراوانی × متوسط دسته
$۵\le x<۹$	۳	۷	۲۱
$۹\le x\le ۱۳$	۵	۱۱	۵۵
مجموع	۸	—	۷۶

$$\text{میانگین}=\frac{\text{مجموع حد کردن دسته × فراوانی}}{\text{مجموع فراوانی}}$$

$$\text{میانگین}=\frac{۷۶}{۸}=۹/۵$$

www-kanoon-ir

Scanned with CamScanner

بسمه تعالی

...ی:

تاریخ امتحان: ۱۴۰۲/۰۳/۰۶

مرکز ملی پرورش استعدادهای درخشان و دانش پژوهان جوان

مدت امتحان: ۱۲۰ دقیقه

...: هشتم

نام درس: ریاضی

نوبت: دوم سال تحصیلی ۱۴۰۲-۱۴۰۱

تعداد سوال: ۱۳

نام دبیر:

دبیرستان فرزانگان (دوره اول) شهرستان سمنان

تعداد صفحه: ۳

۱۰	با ارقام {۵، ۴، ۳، ۲، ۱} که می خواهیم عدد سه رقمی بسازیم چقدر احتمال دارد فرد باشد (بدون تکرار). احتمال = مطلوب / کل = ۳۶/۶۰ = ۶/۱۰ کل اعداد = ۵ . ۴ . ۳ = ۶۰ اعداد فرد = ۳ . ۴ . ۳ = ۳۶	۰/۷۵
۱۱	در شکل زیر AB مماس بر دایره و $\overset{\frown}{BE} = ۸۰$ استاندازه زاویه های خواسته شده را بنویسید. 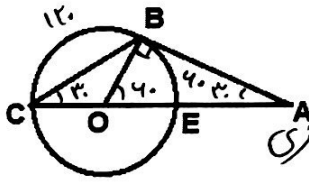 $\hat{A} = ۹۰ - (۹۰+۶۰) = ۳۰$ $\hat{B} = ۹۰$ مرکزی $B\hat{O}C = \overset{\frown}{BC} = ۱۲۰$ محاطی $\overset{\frown}{BCE} = \frac{\overset{\frown}{BE}}{۲} = \frac{۶۰}{۲} = ۳۰$	۱
۱۲	الف) در شکل مقابل x را بیابید. 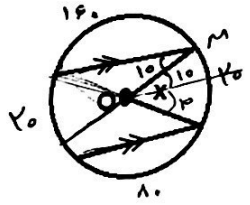 $x = ۲۰$ محاطی $M = \frac{۲۰}{۲} = ۱۰$	۰/۵
	ب) در شکل روبرو مقدار y را بیابید.  $y = ۵۰$	۰/۵
۱۳	در دایره مقابل BC قطر دایره است و $\overset{\Delta}{ABC} \cong \overset{\Delta}{ODE}$ و $AB =$ شعاع دایره $= ۱cm$ با توجه به شکل اندازه های خواسته شده را بنویسید. 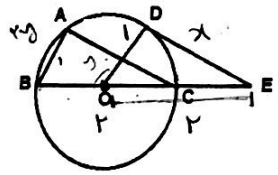 $\hat{E} = ۱$ $\overline{DE} = \sqrt{۳}$ $x^۲+۱ = ۴$ $x^۲ = ۳$ $x = \sqrt{۳}$	۰/۷۵

کار زیبا خبر از بلندی همت می دهد. امام علی (ع)

Scanned with CamScanner