بنام خدا

اداره آموزش و پرورش :شهرستان زابل	آزمون درس : ریاضی	کلاس : هشتم
دبیرستان دوره اول:	مدت امتحان : 90 دقیقه	تاریخ امتحان : 1403/03/
نام و نام خانوادگی :	نام طراح :	تعداد صفحه : 3 شماره صندلی :

ردیف	سـؤالات	بارم
1	گزینه صحیح را انتخاب کنید . ❖ حاصل ضرب هر دو عدد گویا در ..... آن عدد برابر یک می باشد . الف) مجذور ○ ب) معکوس ○ ج) قرینه ○ د) مکعب ○ ❖ اندازه هر زاویه داخلی کدام یک از چند ضلعی های منتظم 108° است . الف) 6 ضلعی ○ ب) 7 ضلعی ○ ج) 9 ضلعی ○ د) 5 ضلعی ○ ❖ اگر به مربع عددی 2 واحد اضافه کنیم حاصل 18 می شود . آن عدد کدام است ؟ الف) 3 ○ ب) 4 ○ ج) 5 ○ د) 6 ○ ❖ ربع عدد 4^9 کدام است ؟ الف) 4^8 ○ ب) 4^7 ○ ج) 1^9 ○ د) 4^5 ○	1
2	جمله های صحیح و غلط را مشخص کنید . ❖ حاصل $\sqrt{4\times100}$ – عددی صحیح است . درست ○ نادرست ○ ❖ مثلثی با ابعاد (3 و4 و 5) می تواند قائم الزاویه باشد . درست ○ نادرست ○ ❖ عدد $\sqrt{34}$ بین 6 و 7 قرار دارد . درست ○ نادرست ○ ❖ در برخی از احتمال ها شاید مقدار احتمال از یک بیشتر باشد . درست ○ نادرست ○	1
3	جاهای خالی را با عبارات مناسب پر کنید . ❖ به چند ضلعی که زاویه های آن کوچکتر از 180° باشد چند ضلعی ..... گفته می شود . ❖ در شکل مقابل نقطه A عدد ..... را نشان می دهد . ❖ در آمار ه تعداد داده های هر دسته ..... می گویند . ❖ شعاع دایره در نقطه تماس با خط مماس زاویه ..... می سازد . 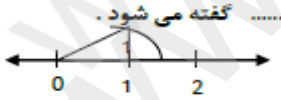	1
4	حاصل عبارتهای زیر را بدست آورید . الف) $\left[\left(-\frac{7}{12}\right)-\left(-\frac{5}{8}\right)\right]\div\left(+2\frac{1}{3}\right)=$ ب) $-25+7/2=$	1 0/5

www.kanoon.ir

5	الف) آیا در روش غربال عدد 40 اعداد با مضارب 4 خط می خورد ؟ چرا ؟ ب) اعداد اول بین 70 و 80 را بنویسید .	0/25 0/75
6	در شکل های زیر مقدار X را حساب کنید . (الف) 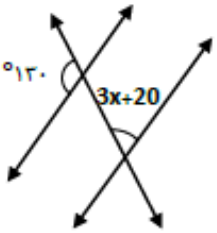 (ب) 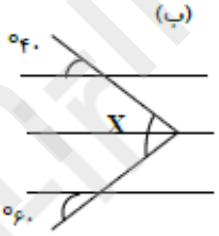 	1 0/5
7	الف) عبارت جبری زیر را ساده کنید . $(x-3)^2 =$ ب) عبارت صورت و مخرج را به صورت ضرب دو عبارت جبری تجزیه و سپس کسر را ساده کنید . $\frac{xy+5x}{2xy+10x} =$	0/75 1
8	الف) بردار حاصل جمع را در شکل مقابل رسم کنید .  ب) اگر a =- 2i+3j و b = 5a باشد مختصات بردار b را بدست آورید . ج) معادله مختصاتی مقابل را حل کنید . $\begin{bmatrix}3\\-5\end{bmatrix} + 2X = -6i + j$	0/5 0/5 1
9	نیم خط OX نیم سازه O است . چرا دو مثلث و هم نهشت اند ؟ حالت هم نهشتی را بنویسید . 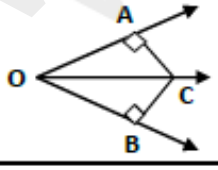 	1
10	در شکل زیر اگر بلندی دیوار 8 متر باشد و طول نردبان 10 متر باشد فاصله نردبان تا پای دیوار چقدر است ؟  	1

www.kanoon.ir

11	شکل زیر را با بردار انتقال $\begin{bmatrix}-3\\+2\end{bmatrix}$ انتقال دهید . 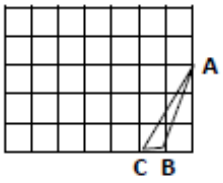	0/75
12	حاصل عبارت های را به صورت عدد توان دار بنویسید . الف) $\frac{(-18)^5\times(-18)^3}{2^8\times3^8}=$ ب) $3^4+3^4+3^4=$	0/75 0/25
13	مقدار تقریبی $\sqrt{73}$ را با رسم جدول تا یک رقم اعشار حساب کنید .	1/25
14	جدول زیر را کامل کنید سپس میانگین آن را حساب کنید . – میانگین حدود دسته | فراوانی | متوسط دسته | فراوانی X متوسط دسته $1\le X<3$ | | | 18 $3\le X<5$ | 6 | 4 | جمع | | ////////// | 42	1/25
15	احتمال اینکه در پرتاب دو سکه ، هر دو سکه پشت بیاید چقدر است ؟ (با نوشتن تمام حالتهای ممکن جواب دهید .)	0/75
16	زاویه و کمان های خواسته شده را بدست آورید . (الف) 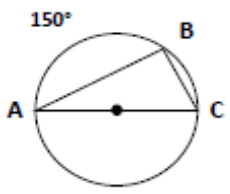 $\hat{C}=$ $\hat{B}=$ $\widehat{AC}=$ $\widehat{BC}=$ $\hat{A}=$ (ب) 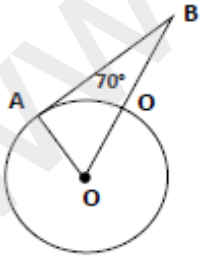 $\hat{O}=$ $\hat{B}=$	1/25 0/5
17	با توجه به شکل زیر وضعیت خط و دایره را توضیح دهید . 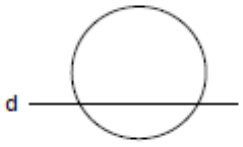	0/5

نمره به عدد : نمره به حروف :

www-karnoon-ir

نمونه سوالی . رشته فیزیک .

سوال ①

- گزینه ج ا

- (ب) $\frac{(n-2)\times 180}{n} = 108 \rightarrow n = 5$

- (ب) $n^2 + 2 = 18 \rightarrow n^2 = 16 \rightarrow n = 4$

- (الف) $4^8 = 4^{-1} \times 4^9 = \frac{1}{4} \times 4^9$

سوال ②

- صحیح

- صحیح

- صحیح

- غلط (اقبال همواره بین ۵ و ۱۰ است)

سوال ③

- خیر طبق محک

- $\sqrt{2}$

- فرد ارائه

- 90° (قاعده)

(الف) $\left(\left(-\frac{7}{12} + \frac{5}{8}\right)\right) \div \left(2\frac{1}{3}\right) = \left(\frac{1}{24}\right) \div \left(\frac{7}{3}\right) = \frac{1}{56}$

$-\frac{7}{12} + \frac{5}{8} = \frac{-14+15}{24} = \left(\frac{1}{24}\right)(\div)\left(\frac{7}{3}\right) = \frac{1}{24} \times \frac{3}{7} = \frac{3}{24 \times 7} = \frac{1}{168} = \frac{1}{56}$

(ب)

$-25 + 71.2 = -25 + \frac{72}{10} = \frac{-250 + 72}{10} = -\frac{178}{10} = -17.8$

سوال ⑤

(الف) خیر - زیرا مرحله ای که شروع می شود ابتدا ضارب ۲ را ضرب زنیم، اعداد ضارب ۴ را هم تا حل می شود ضرب ضرب!

(ب) ۷۱ ، ۷۳ ، ۷۹

سوال ⑥

(الف)

$180 - 130 = 50 \rightarrow 50 = 3x + 20 \rightarrow 50 - 20 = 3x \Rightarrow 30 = 3x \rightarrow x = 10$

(ب)

$x = 50 + 50 = 100$

سوال ۷ :

(الف) $(x-۴)^۲ = (x-۴)(x-۴) = x^۲ - ۴x - ۴x + ۱۶ = x^۲ - ۸x + ۱۶$

(ب)

$$\frac{۹y + ۵۰x}{۲۰y + ۱۰x} = \frac{x(y+۵)}{۲x(y+۵)} = \frac{۹}{۲x} = \boxed{\frac{۱}{۲}}$$

سوال ۸ :

(الف)



(ب) $\vec{a} = -۲\vec{i} + ۳\vec{j}$, $\vec{b} = ۵\vec{a}$

$$\vec{b} = ۵(-۲\vec{i} + ۳\vec{j}) = -۱۰\vec{i} + ۱۵\vec{j} = \vec{b}$$

(ج) $\begin{bmatrix} ۴ \\ -۵ \end{bmatrix} + ۲\begin{bmatrix} a \\ b \end{bmatrix} = -۷\vec{j}$ $\rightarrow$ $۴ + ۲a = -۷$ $\rightarrow$ $۲a = -۹ \rightarrow a = \boxed{-\frac{۹}{۲}}$

$X = \begin{bmatrix} a \\ b \end{bmatrix}$ $\begin{bmatrix} ۴ \\ -۵ \end{bmatrix} + \begin{bmatrix} ۲a \\ ۲b \end{bmatrix} = \begin{bmatrix} -۷ \\ ۱ \end{bmatrix}$, $-۵ + ۲b = ۱$ $\rightarrow$ $۲b = +۶ \rightarrow \boxed{b = +۳}$

$$X = \begin{bmatrix} a \\ b \end{bmatrix} = \begin{bmatrix} -\frac{۹}{۲} \\ ۳ \end{bmatrix}$$ ✓

سوال ۹

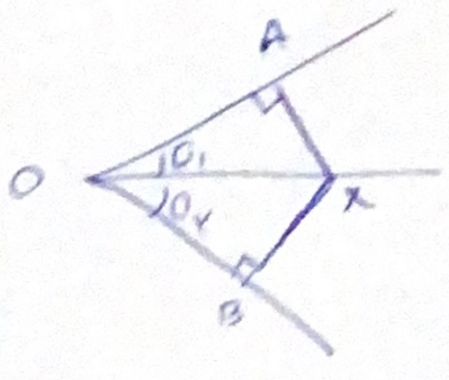

$\hat{O}_۱ = \hat{O}_۲$, $\hat{A} = \hat{B} = ۹۰^\circ$, $\overline{Ox} = \overline{Ox}$ مشترک $\xrightarrow{\text{زاویه}}$ $\triangle OAx \cong \triangle OBx$ $\rightarrow$ $\overline{Ax} = \overline{Bx}$, $\overline{OA} = \overline{OB}$

سوال ۱۰

قاعده فیثاغورس $a^۲ + b^۲ = c^۲$

$x^۲ + ۸^۲ = ۱۰^۲$

$x^۲ + ۶۴ = ۱۰۰ \rightarrow x^۲ = ۱۰۰ - ۶۴ = ۳۶$

$\boxed{x = ۶}$ فاصله نردبان تا پای دیوار ۶ متر است.

سوال ۱۱

انتقال تحت بردار $\begin{bmatrix} -۳ \\ ۴ \end{bmatrix}$

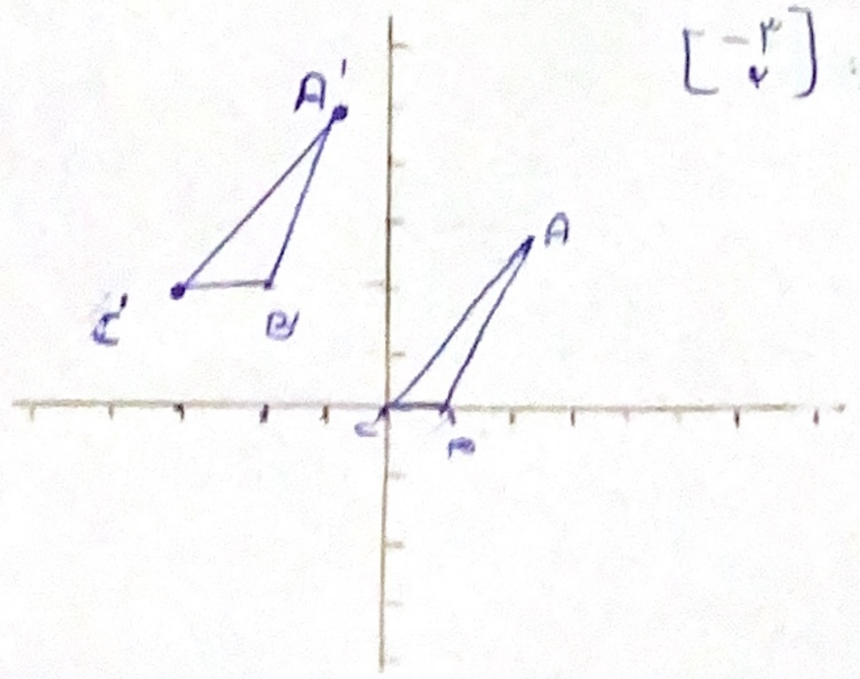

سوال ۱۲

الف) $\frac{(-۱۸)^۵ \times (-۱۸)^۳}{۲^۸ \times ۳^۸} = \frac{(-۱۸)^۸}{(۶)^۸} = \left(\frac{-۱۸}{۶}\right)^۸ = (-۳)^۸$

ب) $۳^۴ + ۳^۴ + ۳^۴ = ۳ \times ۳^۴ = ۳^۵$

سوال ۱۳

$\sqrt{۶۴} < \sqrt{۷۳} < \sqrt{۸۱}$

$۸ < \sqrt{۷۳} < ۹$

عدد	۸٫۱	۸٫۲	۸٫۳	۸٫۴	۸٫۵	۸٫۶
جذر	۶۵٫۶۱	۶۷٫۲۴	۶۸٫۸۹	۷۰٫۵۶	۷۲٫۲۵	۷۳٫۹۶

$\sqrt{۷۳} \simeq ۸٫۵$

سوال ۱۴

حدود	فراوانی	مرکز دسته	فراوانی × مرکز دسته
$۱ \leq x < ۳$	۲	۹	۱۸
$۳ \leq x < ۵$	۶	۴	۲۴
جمع	۸		۴۲

میانگین $= \frac{(۲ \times ۹) + (۶ \times ۴)}{۸} = \frac{۱۸ + ۲۴}{۸} = \frac{۴۲}{۸} = \boxed{\frac{۲۱}{۴}}$

سوال ۱۵

حالت ۱ ← {(پ ، پ)} : فضای نمونه‌ی مورد نظر

حالت ۴ ← {(ر ، ر) (پ ، ر) (ر ، پ) (پ ، پ)} : فضای کل نمونه

$\boxed{\text{احتمال} : \frac{۱}{۴}}$

سوال ۱۶ الف) $\hat{A} = \frac{۳۰}{۲} = ۱۵^\circ$ $\hat{C} = \frac{۱۵۰^\circ}{۲} = ۷۵^\circ$

$\hat{B} = ۹۰^\circ = \frac{۱۸۰^\circ}{۲}$

$\widehat{AC} = ۱۸۰^\circ$

$\widehat{BC} = ۱۸۰^\circ - ۱۵۰^\circ = ۳۰^\circ$

ب) $\boxed{\hat{O} = ۷۰^\circ}$

$\hat{B} = ۱۸۰^\circ - (۷۰^\circ + ۹۰^\circ) = ۱۸۰^\circ - ۱۶۰^\circ = \boxed{۲۰^\circ}$

سوال ۱۷ خط و دایره دو نقطه برخورد دارند یعنی در حالت متقاطع قرار گرفته اند و دایره و خط در دو نقطه مشترک یکدیگر را قطع می‌کنند