اداره کل آموزش وپرورش استان کردستان اداره آموزش وپرورش شهرستان سروآباد نام آموزشگاه: شهید رجایی	محل مهر آموزشگاه	نام درس: ریاضی
نام و نام خانوادگی :	تعداد سؤال: ۱۴	پایه : هشتم / رشته : عمومی
	تاریخ امتحان: ۱۴۰۳/۳/۱۳	تعداد صفحه: ۳
زمان امتحان : ۸۰ دقیقه	ساعت شروع:	پاسخنامه نیاز: دارد ☐ ندارد ☐
		شماره صفحه: ۱

ردیف	سوالات	نمره
۱	جای خالی را با کلمات یا اعداد مناسب پر کنید؟. الف : بین هر دو عدد صحیح روند ..... عدد گویا وجود دارد. ب : مجموع زاویه های داخلی یک هفت ضلعی..... درجه است. ج: حاصل ضرب هر عدد با معکوس آن عدد برابر است با ..... است. د: در دسته بندی داده های حاصل از یک بررسی آماری به تعداد اعضای هر دسته ..... آن دسته می گویند.	۲
۲	درستی یا نادرستی جملات زیر را مشخص کنید ؟ الف) هر عدد منفی به توان یک عدد زوج برسد حاصل عددی مثبت است . ( ) ب) تمام اعداد اول فرد هستند. ( ) ج) دو خط عمود بر یک خط با هم موازیند.( ) د) از برابری سه زاویه در دو مثلث می توان نتیجه گرفت آن دو مثلث هم نهشت هستند .( )	۲
۳	گزینه درست را انتخاب کنید	۲
	A) حاصل عبارت $\sqrt{۹ + ۱۶}$ برابر است با؟ الف)۵ ب) ۵ و-۵ ج) -۵ د) ۲۵	۰.۵
	B) کدام یک از اعداد زیر نسبت به ۱۵ اول است؟ الف) ۳۶ ب) ۱۸ ج) ۴۲ د) ۱۷	۰.۵
	C) خط مماس بر دایره در نقطه ی تماس با شعاع دایره زاویه چند درجه تشکیل می دهد؟ الف) ۶۰ درجه ب) ۸۰ درجه ج) ۹۰ درجه د) ۱۸۰ درجه	۰.۵
	D) در کدام عبارت جمله متشابه با $۴ab^۲$ وجود دارد؟ الف) $۴ab$ ب) $-۵ab^۲$ ج) $۵a + b^۲$ د) $-۴ba$	۰.۵
۴	A) عبارت جبری زیر را به صورت ضرب دو عبارت جبری بنویسید؟(تجزیه کنید) $۱۲ab^۲ + ۸ ba^۲ =$	۰.۵
	B) حاصل عبارت زیر را بدست آورید؟ $(۲a - ۳)\ (۲a + ۳) =$	۰.۷۵
	C) معادله روبرو را حل کنید؟ $x + \frac{۱}{۴} = x - ۳$	۱

www-kanoon.ir

اداره کل آموزش وپرورش استان کردستان اداره آموزش وپرورش شهرستان سروآباد نام آموزشگاه: شهید رجایی	محل مهر آموزشگاه	**نام درس: ریاضی**
نام و نام خانوادگی :	**تعداد سؤال: ۱۴**	**پایه : هشتم** / **رشته : عمومی**
	تاریخ امتحان ۱۴۰۳/۳/۱۳:	تعداد صفحه: ۳
زمان امتحان : ۸۰ دقیقه	**ساعت شروع:**	**پاسخنامه نیاز:** دارد ☐ ندارد ☐
		شماره صفحه: ۲

ردیف	سوالات	نمره
۵	اگر بردار $\overrightarrow{a}$ برابر $۵\vec{i}+۳\vec{j}$ باشد . و بردار $\vec{b}$ برابر $\begin{bmatrix}۲\\-۴\end{bmatrix}$ باشد: لف) مختصات بردار $\vec{a}$ را بنویسید؟ ب) مختصات بردار $\vec{c}=۲\vec{a}-\vec{b}$ را بدست آورید؟	۱.۵
۶	**در شکل مقابل حاصل جمع را به صورت برداری بدست آورید؟** 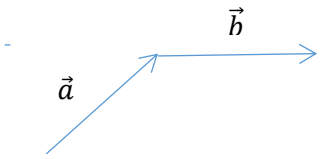	۰.۷۵
۷	**در شکل مقابل M وسط پاره خط DA قرار دارد. دلیل همنهشتی دو مثلث AMB و DMC و اضلاع متناظر را بنویسید؟** 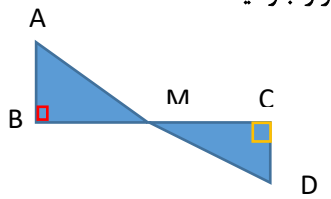	۱.۵
۸	**حاصل عبارت های زیر را به صورت عددی توان دار به دست آورید؟** الف) $۲^{۶}\times۳^{۶}\times(۶^{۳})^{۲}=$ ب) $۲۷^{۶}\div۳^{۶}=$ ج) $۸^{۲}\times۲^{۳}=$ د) $\frac{x^{۷}\times y^{۴}}{x^{۳}\times y^{۲}}=$	۲
۹	داخل یک کیسه ۶ مهره سیاه و ۵ مهره سفید و ۴مهره آبی وجود دارد.بدون نگاه کردن داخل کیسه مهره،یک مهره خارج می کنیم: الف) احتمال اینکه مهره خارج شده آبی باشد چقدر است ؟ ب) احتمال اینکه مهره خارج شده سیاه یا سفید باشد چقدر است ؟	۱.۵
۱۰	با استفاده از قضیه فیثاغورس اندازه ضلع b را بدست آورید؟ 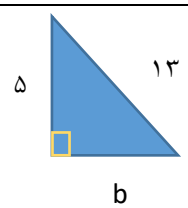	۱

www-kanoon-ir

اداره کل آموزش وپرورش استان کردستان اداره آموزش وپرورش شهرستان سروآباد نام آموزشگاه: شهید رجایی	محل مهر آموزشگاه	نام درس: ریاضی	
نام و نام خانوادگی :	تعداد سؤال: ۱۴	پایه :	رشته : عمومی
		تاریخ امتحان: ۱۴۰۳/۳/۱۳	تعداد صفحه: ۳
زمان امتحان : ۸۰ دقیقه	ساعت شروع:	پاسخنامه نیاز: دارد ☐ ندارد ☐	شماره صفحه: ۳

ردیف	سوالات	نمره
۱۱	در متوازی الضلاع زیر مقدار X را بدست آورید؟ 	۰.۷۵
۱۲	در شکل زیر O مرکز دایره و کمانCB برابر ۶۰ درجه است،اندازه زاویه ها و کمان خواسته شده را بنویسید؟ 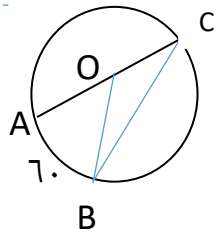 $\widehat{AOB}$= $\widehat{ACB}$= $\widehat{BC}$=	۰.۷۵
۱۳	حاصل عبارت های زیر را بدست آورید؟ الف) $(-\frac{۲}{۶})+(\frac{۳}{۹})=$ ب) $(-\frac{۴}{۱۲})\div(-\frac{۸}{۹})=$ ج) $\sqrt{۷۵}=$	۱.۲۵
۱۴	با روش غربال اعداد اول بین ۱ تا ۳۰ را بدست آورید؟	۰.۷۵
	موفق باشید	۲۰

www-kanoon-ir

پاسخنامه آزمون ریاضی ترم ۲ پایه هشتم

مهدی سهامی سلطانی

مدرسه شهید رجایی

NOTE | Date: / /

۱- الف) بی‌شمار ب) ۹۰۰

ج) یک (۱) د) فراوانی

۲- الف) درست ب) نادرست

ج) درست د) نادرست

۳- A) گزینهٔ «الف» B) گزینهٔ «د»

C) گزینهٔ «ج» D) گزینهٔ «ب»

۴- A) $12ab^2 + 8ba^2 = 4ab(3b+2a)$

B) $(2a-3)(2a+3) = 4a^2 - 9$

C) $x + \frac{1}{4} = x - 3$ $x - x = 0 = -3 - \frac{1}{4}$

$-3{,}25 = 0$ X → سوال ایراد دارد

۵- الف) $\vec{a} = \begin{bmatrix} 5 \\ 3 \end{bmatrix}$

ب) $\vec{c} = 2\begin{bmatrix} 5 \\ 3 \end{bmatrix} - \begin{bmatrix} 2 \\ -4 \end{bmatrix} = \begin{bmatrix} 10 \\ 6 \end{bmatrix} - \begin{bmatrix} 2 \\ -4 \end{bmatrix} = \begin{bmatrix} 8 \\ 10 \end{bmatrix}$

۶-



www.karoon.ir

Scanned with CamScanner

~~BM = MC~~ ۷-

$\overline{AM} = \overline{DM}$ M وسط DA

$\hat{M}_1 = \hat{M}_2$ زوایای متقابل به رأس

$\hat{A} = \hat{D}$ زیرا زوایای $\hat{B}$ و $\hat{C}$ و $\hat{M}_1$ و $\hat{M}_2$ باهم برابر می باشند

$\xrightarrow{\text{زض ز}} \overset{\triangle}{AMB}$

$\overline{BM} = \overline{MC}$ $\overline{AM} = \overline{DM}$ $\overline{AB} = \overline{CD}$

۸- الف) $2^6 \times 3^6 \times (6^3)^2 = 2^6 \times 3^6 \times 6^6 = (2 \times 3 \times 6)^6 = 36^6$

ب) $27^6 \div 3^6 = (\frac{27}{3})^6 = 9^6$

ج) $8^2 \times 2^3 = (2^3)^2 \times 2^3 = 2^6 \times 2^3 = 2^9$

د) $\frac{x^7 \times y^4}{x^3 \times y^2} = x^4 \times y^2$

۹- الف) $\frac{4}{15} = \frac{4}{4+5+6} = \frac{\text{تعداد مهره های آبی}}{\text{تعداد کل مهره ها}} =$ احتمال آبی

ب) $\frac{11}{15} = \frac{6+5}{15} = \frac{\text{تعداد مهره های سیاه و سفید}}{\text{تعداد کل مهره ها}} =$ احتمال سیاه یا سفید

www.kanoon.ir

Scanned with CamScanner

۱۰ـ $b^2 = 169 - 25 = 144$ $\quad 5^2 + b^2 = 13^2$

$b = \sqrt{144} = 12$

۱۱ـ $x = 3$ $\quad 5x = 15$ $\quad 7x - 5 = 2x + 10$

۱۲ـ $A\hat{C}B = \frac{60}{2} = 30^\circ$ $\quad A\hat{O}B = 60^\circ$

$\overset{\frown}{BC} = 180 - 60 = 120^\circ$

۱۳ـ الف) $\left(-\frac{2}{6}\right) + \left(\frac{3}{9}\right) = -\frac{1}{3} + \frac{1}{3} = 0$

ب) $\left(-\frac{4}{12}\right) \div \left(-\frac{8}{9}\right) = \frac{1}{\cancel{3}} \times \frac{\overset{3}{\cancel{9}}}{8} = \frac{3}{8}$

ج) $\sqrt{75} = \sqrt{3} \times \sqrt{25} = 5\sqrt{3}$ نه مرکب

۱۴ـ

نه اول ~~۱~~	اول ۲	اول ۳	زوج ~~۴~~	اول ۵	زوج ~~۶~~	اول ۷	زوج ~~۸~~	مضرب ۳ ~~۹~~	زوج ~~۱۰~~
اول ۱۱	زوج ~~۱۲~~	اول ۱۳	زوج ~~۱۴~~	مضرب ۳ ~~۱۵~~	زوج ~~۱۶~~	اول ۱۷	زوج ~~۱۸~~	اول ۱۹	زوج ~~۲۰~~
مضرب ۳ ~~۲۱~~	زوج ~~۲۲~~	اول ۲۳	زوج ~~۲۴~~	مضرب ۵ ~~۲۵~~	زوج ~~۲۶~~	مضرب ۳ ~~۲۷~~	زوج ~~۲۸~~	اول ۲۹	زوج ~~۳۰~~

اعداد اول بین ۱ تا ۳۰: ۲ و ۳ و ۵ و ۷ و ۱۱ و ۱۳ و ۱۷ و ۱۹ و ۲۳ و ۲۹

Scanned with CamScanner