Kanoon.ir

شما با دانلود این نمونه سوال، کد تخفیف خرید کتاب از سایت کانون بوک دریافت می کنید.

برای دریافت کد جایزه خود، عدد 33 را به سر شماره 90008451 ارسال کنید.



تمرین بیشتر نمونه سوالات امتحانی با کتاب های پرتکرار

همین حالا جایزه خود را دریافت کنید.

kanoonBook.ir

www.kanoon.ir

"باسمه تعالی"

نام ونام خانوادگی	ادارهٔکل آموزش و پرورش استان گیلان	تاریخ امتحان: ۱۴۰۳/ ۱۲ /۱۲
	مدیریت آموزش و پرورش شهرستان تالش	تعداد صفحات: ۲ صفحه
نام آموزشگاه: دبیرستان غیر دولتی یکان	سؤالات امتحان درس ریاضی	مدت امتحان: ۷۵ دقیقه
پایهٔ: هشتم		ساعت شروع:

ردیف	سؤالات	نمره
	ی درست را با ✓ و جمله های نادرست را با × مشخص کنید. عدد ۴ و ۹ نسبت به هم اول هستند. ☐ اعداد اول فرد هستند. ☐ خط عمود بریک خط با هم موازیند. ☐ ع دو عدد زوج عددی زوج است. ☐ ی الاضلاع محور تقارن دارد ولی مرکز تقارن ندارد. ☐ عدد صحیح ، یک عدد گویاست. ☐	۱/۵
	ي را کامل کنید. کوس کسر $۲\frac{۱}{۳}-$ ، کسر ..... است. ده ضلعي منتظم ..... محور تقارن دارد. گترین عدد صحیح منفي ، عدد ..... است. عدد اول زوج ، عدد ..... می باشد خط عمود بر يك خط با هم ..... هستند. ی دارای ..... محور تقارن است.	۱/۵
	حور داده شده یک جمع با عددهای گویا بنویسید. 	۱
	عبارات زیر را به دست آورید. $۳-\left(۲-\left(۱-۷\right)\right)=$ $\left(-\frac{۳}{۵}\right)\div\left(-\frac{۲}{۵}+\frac{۵}{۶}\right)=$ $\left(-\frac{۳}{۸}\right)-\frac{۵}{۲}=$ $۳\frac{۱}{۳}\times\left(-\frac{۳}{۵}\right)=$	۲
	ی ۱ تا ۱۰۰ را نوشته و غربال کرده ایم. به سوالات زیر پاسخ دهید: ین عددی که خط می خورد چیست؟ ن عددی که توسط ۳ خط می خورد چند است؟ ۷۷ به عنوان مضرب کدام عدد خط می خورد؟	۰/۷۵
	داد اول را مشخص کنید : ۷۹ , ۶۹ , ۵۹ , ۴۹ ۹۱ اول است یا مرکب؟ ..... چرا؟(با راه حل کامل) موع دو عدد اول ۲۵ است . آن دو عدد را پیدا کنید.(همراه با توضیح)	۰/۷۵
	وابط بین سه خط راست a ، b و c به صورت زیر نشان داده شده است ، نتیجهٔ موردنظر را بنویسید . $\left.\begin{array}{l} a \parallel b \\ c \perp a \end{array}\right\} \Longrightarrow \cdots .$ مناسب نیز رسم کنید.)	

www-kanoon-ir

"باسمه تعالی"

نام ونام خانوادگی	ادارهٔکل آموزش و پرورش استان گیلان	تاریخ امتحان: ۱۴۰۳/ ۱۲ /۱۲
	مدیریت آموزش و پرورش شهرستان تالش	تعداد صفحات: ۲ صفحه
نام آموزشگاه: دبیرستان غیر دولتی یکان	سؤالات امتحان درس ریاضی	مدت امتحان: ۷۵ دقیقه
پایهٔ: هشتم		ساعت شروع:

ردیف	سؤالات	نمره
	ضلعی منتظم را تعریف کنید. زاویه داخلی شش ضلعی منتظم چند درجه است؟(با راه حل) ه هر زاویه خارجی یک ده ضلعی منتظم را پیدا کنید	۲
	ر شکل های زیر مقدار x را به دست آورید. 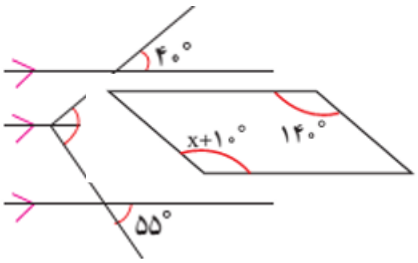 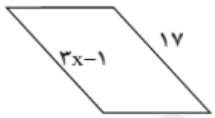 زه زاویه خواسته شده را حساب کنید. 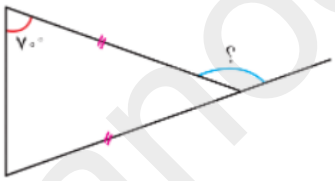 	۲
	۱ تا ۵۰ را بنویسید و با به کار بردن روش الگوریتم غربال ، دور اعداد اول خط بکشید.	۲
	بارت جبری جمله nام الگوی عددی زیر را بنویسید ۱ ,۴ , ۹, ۱۶, ۲۵ , ... ه دوازدهم این الگو چند است؟	۲
	شکل مقابل را به صورت یک عبارت جبری بیان کنید : 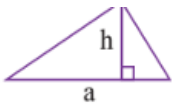 	۰/۵
	بارت کلامی زیر را *به صورت جبری* بنویسید. هر عدد به توان یک برابر است با خود همان عدد. ..... رت های جبری زیر را ساده کنید $\frac{۳}{۲}a(۴b) =$ $۳(۲x-۱)+۲(x+۳) =$ $۳y(۲x-۵y) =$ $(۲x-۳y)(x+۱) =$ ر عددی عبارت جبری $۳ax-۵b$ را به ازای $a=۲$ و $b=۱$, $x=0$ بدست آورید.	۲

www-kanoon-ir

"باسمه تعالی"

نام ونام خانوادگی	ادارهٔکل آموزش و پرورش استان گیلان	تاریخ امتحان: ۱۲/ ۱۲ /۱۴۰۳
	مدیریت آموزش و پرورش شهرستان تالش	تعداد صفحات: ۲ صفحه
نام آموزشگاه: دبیرستان غیر دولتی یکان	سؤالات امتحان درس ریاضی	مدت امتحان: ۷۵ دقیقه
پایهٔ: هشتم		ساعت شروع:

ردیف	سؤالات	نمره
	به رابطه بین y و x جدول را کامل کنید $y=-2x+3$: x: ۳، ۰، -۴، -۱ — y: ۰ $y=x+5$: x: ۴، ۰، -۷، -۵ — y:	۲
	جمع کل نمرات	۲۰

** موفق باشید **
یزدانی

نمره به عدد	نمره به حروف	نام و نام خانوادگی دبیر مربوطه و امضاء