" باسمه تعالی"

نام و نام خانوادگی :	ادارهٔ آموزش و پرورش آستانه اشرفیه	تعداد صفحات: ۳ صفحه - صفحه ۱
نام آموزشگاه : شهدای عملیات محرم	سؤالات امتحان ریاضیات دانش آموزان پایهٔ هشتم دورهٔ اول متوسطه	مدت امتحان: ۹۰ دقیقه
کلاس :	دی ماه سال ۱۴۰۳ — تاریخ امتحان : ۱۴۰۳/۱۰/۸	ساعت شروع: ۹ صبح

" یاد خدا آرامش بخش قلب هاست "

ردیف	سؤالات	نمره
۱	**درستی یا نادرستی عبارت های زیر را مشخص کنید.** صحیح ☐ غلط ☐ الف) عدد (۷+)- یک عدد طبیعی است. ب) در روش غربال عدد ۱۰ زودتر از عدد ۹ خط می خورد. ☐ ☐ ج) چهارضلعی منتظم همان مستطیل است. ☐ ☐ د) نمایش جبری اعداد زوج به صورت $2n$ درست است. ☐ ☐	۱
۲	**گزینهٔ درست را انتخاب کنید.** ۲-۱) عدد صفر در کدام یک از مجموعه های عددی زیر قرار ندارد؟ الف : گویا ☐ ب: صحیح ☐ ج: حسابی ☐ د: طبیعی ☐ ۲-۲) در روش غربال در مرحله خط زدن مضرب های عدد ۷ ، کدام عدد برای اولین بار خط می خورد؟ الف : ۷ ☐ ب: ۱۴ ☐ ج: ۴۹ ☐ د: ۷۰ ☐ ۲-۳) با کدام یک از شکل های زیر نمی توان به تنهایی یک سطح را کاشی کاری کرد؟ الف : مربع ☐ ب: ۵ ضلعی منتظم ☐ ج: لوزی ☐ د: ۶ ضلعی منتظم ☐ ۲-۴) حاصل عبارت $(2a^2x^7)(3ax)$ برابر ..... است. الف : $6a^3x^8$ ☐ ب: $6a^2x^7$ ☐ ج: $5a^3x^8$ ☐ د: $6(ax)^{14}$ ☐	۲
۳	**پاسخ مناسب را از بین دو گزینه مربوطه در سمت چپ انتخاب کنید و در جاهای خالی سمت راست قرار دهید.**	۱/۲ ۵

سمت راست	سمت چپ	
حاصل ۲ × ۵ + ۱۰ برابر ..... است.	۲۰	۳۰
..... از مضرب های عدد ۳ ، اول است.	فقط یکی	هیچکدام
پنج ضلعی منتظم مرکز تقارن	دارد	ندارد
مجموع زاویه های خارجی ۱۲ ضلعی منتظم ..... درجه است.	۱۸۰۰	۳۶۰
جمله های جبری x^2 و $2x$ متشابه	هستند	نیستند

ردیف	سؤالات	نمره
۴	**در جای خالی کلمه یا عبارت مناسب قرار دهید.** الف) حاصلضرب هر عدد غیر از صفر در ..... برابر ۱ می شود. ب) مجموع دو عدد اول ۹۹ شده است. این دو عدد ..... و ..... هستند. ج) ..... چهار ضلعی است که مرکز تقارن دارد ولی محور تقارن ندارد. د) خروجی ماشین عدد ساز مقابل عدد ..... است. ورودی : ۳ → ۲ ⇒ ۷ → خروجی	۱/۲ ۵

نمره صفحه	جمع ۵/۵

ادامه سوالات در صفحه دوم

ارزشیابی تکوینی		ارزشیابی پایانی		میانگین		نام و نام خانوادگی دبیر و امضا
عدد	حروف	عدد	حروف	عدد	حروف	

www.kanoon.ir

CamScanner

نام و نام خانوادگی :	اداره آموزش و پرورش آستانه اشرفیه	تعداد صفحات: ۳ صفحه – صفحه ۲
نام آموزشگاه : شهدای عملیات محرم	سوالات امتحان ریاضیات دانش آموزان پایه هشتم دوره اول متوسطه	مدت امتحان: ۹۰ دقیقه
کلاس :	دی ماه سال ۱۴۰۲ — تاریخ امتحان : ۱۴۰۲/۱۰/۱۰	ساعت شروع: ۹ صبح

" یاد خدا آرامش بخش قلب هاست "

ردیف	سؤالات	نمره
۵	اعداد صحیح کوچکتر از ۵– را روی محور نشان دهید و آنها را بنویسید.	۱
۶	حاصل عبارت زیر را به ساده ترین صورت بنویسید. $\left[\left(+\frac{۱}{۶}\right)+\left(-\frac{۱}{۴}\right)\right]\times(-۳-۴-۵)=$	۱/۵
۷	مجموع اعداد ۱ تا ۱۰۰ را به دست آورید. $۱+۲+۳+\cdots+۹۹+۱۰۰=$	۱
۸	برای جزکت داده شده یک جمع بنویسید. 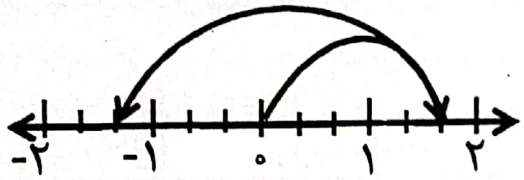	۱
۹	با روش تقسیم تعیین کنید عدد ۱۲۷ اول است یا مرکب؟ $\sqrt{۱۲۷}\simeq$ ۱۲۷ را باید بر اعداد ..... تقسیم کنیم.	۱
۱۰	با توجه به تعریف متوازی الاضلاع ، شکل هایی که متوازی الاضلاع اند را با ☑ مشخص کنید. 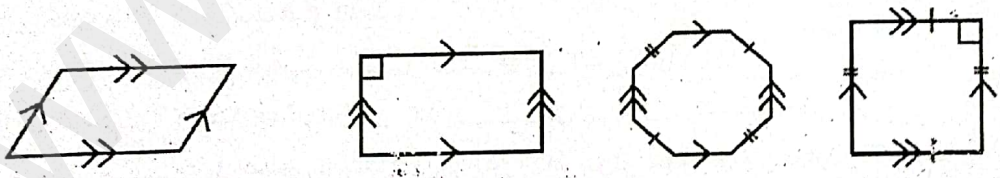	۱
۱۱	اندازه ی زاویه ی مجهول را در هر قسمت به دست آورید. 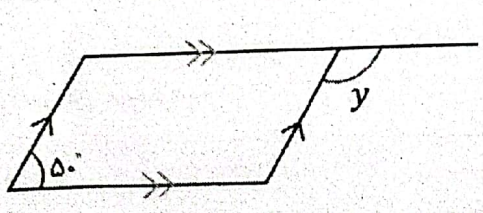 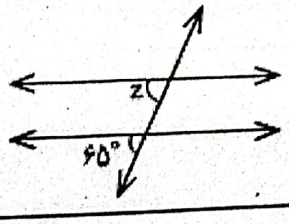	۱

نمره صفحه	جمع ۷/۵

ادامه سوالات در صفحه سوم

www-kanoon-ir

CamScanner

نام و نام خانوادگی :	ادارهٔ آموزش و پرورش آستانه اشرفیه	تعداد صفحات: ۳ صفحه - صفحه ۳
نام آموزشگاه : شهدای عملیات محرم	سؤالات امتحان ریاضیات دانش آموزان پایهٔ هشتم دورهٔ اول متوسطه	مدت امتحان: ۹۰ دقیقه
کلاس :	دی ماه سال ۱۴۰۲ — تاریخ امتحان: ۱۴۰۳/۱۰/۸	ساعت شروع: ۹ صبح

" یاد خدا آرامش بخش قلب هاست "

ردیف	سؤالات	نمره
۱۲	برای عبارت مقابل شکل بکشید جای خالی را کامل کنید و نتیجه را به فارسی بنویسید. $\left.\begin{matrix} a \parallel b \\ c \perp b \end{matrix}\right\} \Rightarrow \cdots$ اگر خطی بر یکی از دو خط موازی عمود شود	۱
۱۳	اندازه دو زاویه داخلی یک مثلث ۷۰ و ۵۰ درجه است. الف : اندازه زاویه سوم چند درجه است؟ ب : مجموع همه زاویه های داخلی و خارجی این مثلث چند درجه است؟	۱
۱۴	مجموع زاویه های داخلی یک ۳۲ ضلعی منتظم چند درجه است؟	۰/۷۵
۱۵	عبارت زیر را به صورت حاصل ضرب بنویسید. (فاکتورگیری کنید.) $ax + ۳a = \cdots(\cdots + \cdots)$	۰/۷۵
۱۶	جمله های دو عبارت را درهم ضرب و سپس تا حد امکان ساده کنید. $(a + ۱)(a + ۵) =$	۱
۱۷	با توجه به رابطه ی x و y جاهای خالی جدول مقابل را با عدد مناسب کامل کنید. $y = ۲x - ۱$ $\begin{array}{c\|c} x & y \\ \hline ۲ & ..... \\ ..... & ۷ \end{array}$	۱
۱۸	فقط یکی از معادله های زیر را حل کنید و مقدار x را به دست آورید. $۳(x - ۶) = ۲(۱ - x)$ $\frac{۱}{۳}x - \frac{۳}{۴} = \frac{۳}{۱۲}$	۱/۵

نمره صفحه	جمع ۷

*** دانش آموز عزیز دقت کن سوالی از قلم نیافتاده باشد.***

CamScanner