باسمه تعالی

اداره کل آموزش وپرورش فارس

اداره سنجش

مدیریت آموزش و پرورش شهرستان آباده

آموزشگاه غیر دولتی شمس تبریزی

(مهر آموزشگاه)

نام

نام خانوادگی

نام پدر

شماره دانش آموزی

نام درس ریاضی

نوبت امتحانی : دی ماه ۱۴۰۳

پایه هشتم شعبه

تاریخ امتحان : ۴۰۳/۱۰/۹

ساعت شروع : ۹/۳۰ صبح

مدت امتحان ۹۰ دقیقه صفحه یک

تصحیح	نام ونام خانوادگی دبیر :	نمره به عدد:	تجدید نظر	نام ونام خانوادگی دبیر :	نمره به عدد:
	تاریخ وامضاء:	نمره به حروف:		تاریخ وامضاء:	نمره به حروف:

ردیف	« لطفاً پاسخ سوالات را روی همین برگ بنویسید » یا لطیف	نمره
۱	درستی یا نادرستی عبارات زیر را مشخص کنید : الف : ک م م دو عدد که ب م م آنها یک است برابر با حاصلضرب دو عدد است ○ ب : قرینه و معکوس $-1\frac{2}{4}$ برابر با $+1\frac{4}{2}$ است . ○ ج : محیط یک مستطیل به طول $3x+2$ و عرض x برابر با $8x+4$ است ○ د : $-5j-i$ برحسب مختصات نقطه برابر با $\begin{bmatrix}-5\\-1\end{bmatrix}$ است . ○	۲
۲	جای خالی را کامل کنید : الف : بین دو عدد -4 و $+3$ ، ..... عدد طبیعی وجود دارد. ب : دو خط ..... یک خط با هم موازیند. ج : اندازهٔ هر زاویه خارجی یک ۱۰ ضلعی منتظم برابر با ..... است . د : مقدار عددی عبارت $3y-x$ به ازای $x=-1$ و $y=3$ برابر با عدد ..... است .	۲
۳	گزینه درست را انتخاب کنید : الف : کدام عدد نسبت به عدد ۷۵ اول است . a. ۴۲ b. ۳۵ c. ۶۴ d. ۹۱ ب : بعد از تجزیه حاصل عبارت $\frac{x-1}{x^2-x}$ برابر با کدام گزینه است ؟	۲

www.kanoon.ir

Scanned with CamScanner

باسمه تعالی

اداره کل آموزش وپرورش فارس

اداره سنجش

مدیریت آموزش و پرورش شهرستان آباده

آموزشگاه غیر دولتی شمس تبریزی

(مهر آموزشگاه)

نام

نام خانوادگی

نام پدر

شماره دانش آموزی

نام درس ریاضی

نوبت امتحانی : دی ماه ۱۴۰۳

پایه هشتم شعبه

تاریخ امتحان : ۴۰۳/۱۰/۹

ساعت شروع : ۹/۳۰ صبح

مدت امتحان ۹۰ دقیقه صفحه یک

تصحیح	نام ونام خانوادگی دبیر :	نمره به عدد:	تجدید نظر	نام ونام خانوادگی دبیر :	نمره به عدد:
	تاریخ وامضاء:	نمره به حروف:		تاریخ وامضاء:	نمره به حروف:

ردیف	« لطفاً پاسخ سوالات را روی همین برگ بنویسید »	نمره

x ○ a $\quad \frac{1}{x}$ ○ b $\quad \frac{1}{x^2}$ ○ c $\quad x^2$ ○ d

ج : جمله $-7a^2b^2$ با کدام جمله متشابه هست ؟

$-7ab$ ○ a $\quad 3a^2b$ ○ b $\quad -a^2b^2$ ○ c $\quad$ گزینه‌های a و c ○ d

د : حاصل $-3\begin{bmatrix}-3\\-4\end{bmatrix}+2\begin{bmatrix}3\\4\end{bmatrix}$ برحسب بردارهای یکه i و j برابر است با

$15i-20j$ ○ a $\quad -20i+15j$ ○ b $\quad 20j+15i$ ○ c $\quad 15j-20i$ ○ d

۴ حاصل عبارت روبرو را بدست آورید. ۱/۵

الف : $\left(\frac{2}{3}-\frac{2}{5}\right)\div\left(\frac{-8}{35}\right)=$

ب : $+8-(3\times6\div2-1)=$

۵ الف : برای حرکت بردارها روی محور یک حاصل جمع بنویسید. ۱

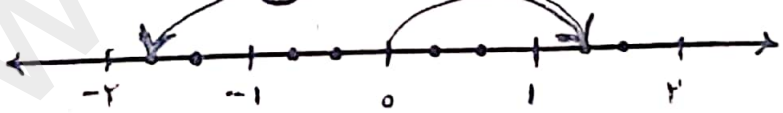

— + — = —

ب : کسر مقابل را ساده کنید :

$$\frac{-39\times60}{-24\times(-65)}=$$

www-kanoon-ir

Scanned with CamScanner

بسمه تعالی

نام
نام خانوادگی
نام پدر
شماره دانش آموزی
نام درس ریاضی

اداره کل آموزش وپرورش فارس
اداره سنجش
مدیریت آموزش و پرورش شهرستان آباده
آموزشگاه غیر دولتی شمس تبریزی
(مهر آموزشگاه)

نوبت امتحانی : دی ماه ۱۴۰۳
پایه هشتم شعبه
تاریخ امتحان : ۱۰/۹/۱۴۰۳
ساعت شروع : ۹/۳۰ صبح
مدت امتحان ۹۰ دقیقه صفحه ۲

نام ونام خانوادگی دبیر :	نمره به عدد:	نام ونام خانوادگی دبیر :	نمره به عدد:
تاریخ وامضاء:	نمره به حروف:	تاریخ وامضاء:	نمره به حروف:

ردیف | « لطفاً پاسخ سوالات را روی همین برگ بنویسید » | نمره

۶ در پرسش غربال اعداد بین ۱ تا ۱۰۰ به سوالات زیر پاسخ دهید. (۲)

الف : آیا عدد ۹۳ در این غربال خط می خورد چرا؟

ب : اولین مضرب عدد ۳ که برای بار اول خط می خورد کدام عدد است؟

ج : دو عدد اول و دو عدد مرکب بین ۵۰ تا ۶۰ نام ببرید.

۷ الف : عبارت جبری زیر را ساده کنید: $3(x-2y)-(2x+y)=$ (۲)

ب : عبارت زیر را تجزیه کنید، $12x^2y-4x=$

۸ معادله زیر را حل کنید. $\frac{4}{3}x-3=\frac{1}{2}x$ (۱)

۹ بردارهای $\vec{a}$ و $\vec{b}$ و $\vec{c}$ مفروض است، مطلوب است بردار $\vec{d}=2\vec{b}-\vec{c}+\vec{a}$ را از نقطه مشخص شده رسم نمائید. (۱)

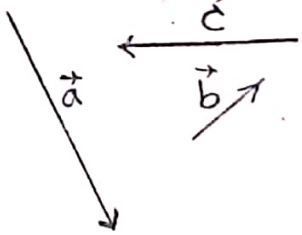

شروع

www.kanoon.ir

Scanned with CamScanner

باسمه تعالی

نام
نام خانوادگی
نام پدر
شماره داوطلب آموزی

اداره کل آموزش وپرورش فارس
اداره سنجش
مدیریت آموزش و پرورش شهرستان آباده
آموزشگاه غیر دولتی شمس تبریزی
(مهر آموزشگاه)

نوبت امتحانی : دی ماه ۱۴۰۳

پایه هشتم شعبه
تاریخ امتحان : ۴۰۳/۱۰/۹
ساعت شروع : ۹/۳۰ صبح
مدت امتحان ۹۰ دقیقه تعداد صفحه یک

نام درس ریاضی

نام و نام خانوادگی دبیر :	نمره به عدد:		نام و نام خانوادگی دبیر :	نمره به عدد:
تاریخ و امضاء:	نمره به حروف:		تاریخ و امضاء:	نمره به حروف:

« لطفاً پاسخ سوالات را روی همین برگ بنویسید »

ردیف | | نمره

۱۰ الف : با توجه به شکل مقدار مجهول را بیابید :

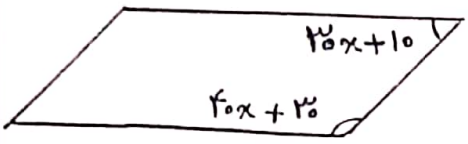

۲

ب : اگر $d_1 \parallel d_2$ باشد و m مورب مقدار y را بیابید :

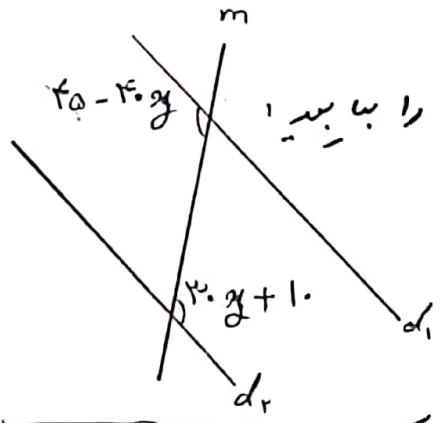

۱۱ اندازهٔ زاویه داخلی را در یک ۱۲ ضلعی منتظم محاسبه کنید :

۱

۱۲ اگر $A=\begin{bmatrix}-۲\\۱\end{bmatrix}$ و $B=۳j-۳i$ مختصات بردار $\vec{x}=۲A+۳B$ را بدست آورید :

۱

۱۳ معادله مختصاتی زیر را برحسب بردارهای یکه نرمال حل نمائید :

$$(j-۳i)۲=\vec{x}-۵j+\begin{bmatrix}-۵\\۴\end{bmatrix}-۴i$$

۱

۱۴ نتیجه گیری رابطه مقابل را با رسم شکل کامل کنید :

$$\begin{cases} b \parallel c \\ a \perp b \end{cases} \Rightarrow$$

۰/۵

Scanned with CamScanner