نام و نام خانوادگی :	بسمه تعالی	تاریخ : ۱۶/ ۱۰ / ۱۴۰۳
کلاس :	دبیرستان هیئت امنایی امام خمینی منطقه ۵ تهران	زمان : ۸۰ دقیقه
نام دبیر :	آزمون ترم اول درس شیرین ریاضیات پایه هشتم	

۱- درستی و یا نادرستی عبارت های زیر را مشخص کنید . (۲ نمره)

الف) ۱۱۹ عددی مرکب است . ☐ درست ☐ نادرست

ب) دو عددِ طبیعیِ متوالی ، همواره نسبت به هم اولند . ☐ درست ☐ نادرست

ج) در هر لوزی ، ضلع های روبرو موازی اند . ☐ درست ☐ نادرست

د) $۸ab^۲$ و $۸a^۲b$ جملات متشابه هستند . ☐ درست ☐ نادرست

۲ – جاهای خالی را با اعداد و کلمات مناسب پر کنید . (۲ نمره)

الف) قرینهٔ معکوسِ عددِ $-۲\frac{۲}{۳}$ ، برابر با _____ است .

ب) به هر عددکه بتوان به صورت کسر نوشت ، یک عددِ _____ می گویند .

ج) مجموع دو عدد اول ، ۹۹ شده است . حاصل ضربِ آنها مساوی _____ است .

د) در روش غربالِ اعداد ۱ تا ۵۰ ، آخرین عددی که خط می خورد ، عددِ _____ است .

۳ – عددی بنویسید که شمارنده های اول آن فقط ۲ و ۷ و ۵ باشد . (۰/۵ نمره)

۴ – نوعی متوازی الاضلاع است که قطرهایش بر هم عمودند . آنرا نام برده و رسم کنید . (۱ نمره)

۵ – در هر سوال ، گزینهٔ صحیح را مشخص کنید . (۱ نمره)

الف) حاصل ضربِ هر عدد صحیحِ غیر صفر در قرینهٔ معکوسش ، مساوی _____ است .

۱ ۱	۲ ۱-	۳ خودِ آن عدد	۴ صفر

ب) اندازهٔ زاویهٔ رأس در مثلث متساوی الساقین ۴۸ درجه است . اندازهٔ زاویهٔ مجاور قاعده _____ درجه است .

۱ ۸۴	۲ ۹۶	۳ ۴۸	۴ ۶۶

https://blekr.math84.com

۶ – الف) حاصل مجموعه اعداد زیر را با نوشتن راه حل بدست آورید . (۱ نمره)

$$۲۲ + ۲۵ + ۲۸ + ۳۱ + \cdots + ۱۳۶ + ۱۳۹ =$$

ب) حاصل عبارات زیر را با نوشتن راه حل بدست آورید . (۲ نمره)

$$\frac{۳۸}{۳} \div \left(\frac{-۱}{۵} + \frac{۵}{۶}\right) =$$

$$-۱۶ - ۷ \times (-۴) \div (-۲) =$$

۷– الف) عبارت جبری روبه رو را ساده کنید . (۱ نمره)

$$(۳x - ۴)^۲ =$$

ب) عبارت زیر را تجزیه کرده و به ساده ترین صورت ممکن بنویسید . (فاکتورگیری) (۱ نمره)

$$\frac{m^۲ - mn}{nm^۲ - mn^۲} =$$

ج) چرا مجموع دو عددِ فرد ، عددی زوج است ؟ (۱ نمره)

۸ – معادلهٔ روبرو را حل کنید . (۱/۵ نمره)

$$\frac{۱}{۲} - \frac{۲x - ۱}{۴} = \frac{-۳}{۴}$$

۹ – با توجه به شکل ها ، مقدار مجهول را بیابید. (۱/۵ نمره)

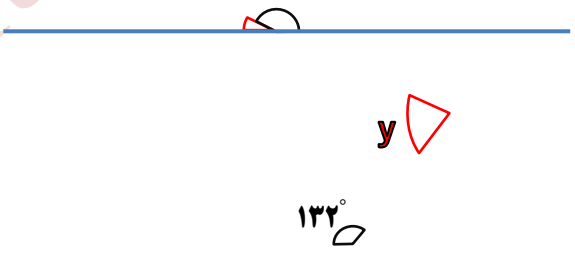

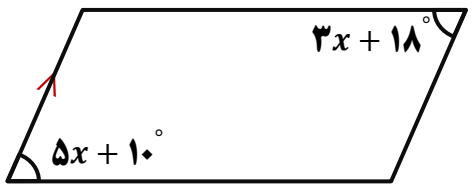

https://blekidmath84.kdm

۱۰- اندازهٔ هر یک از زاویه های داخلیِ یک چند ضلعی منتظم ۱۴۴ درجه است . این شکل ، چند ضلعی است ؟ (۱ نمره)

۱۱ - الف) با توجه به بردار های داده شدهٔ روبرو ، بردارِ حاصل جمع (برآیند) را رسم کنید . (۰/۷۵ نمره)

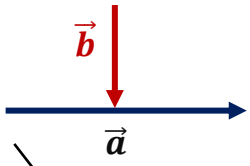

ب) بردار داده شده را روی امتداد های رسم شده تجزیه کنید . (۰/۷۵ نمره)

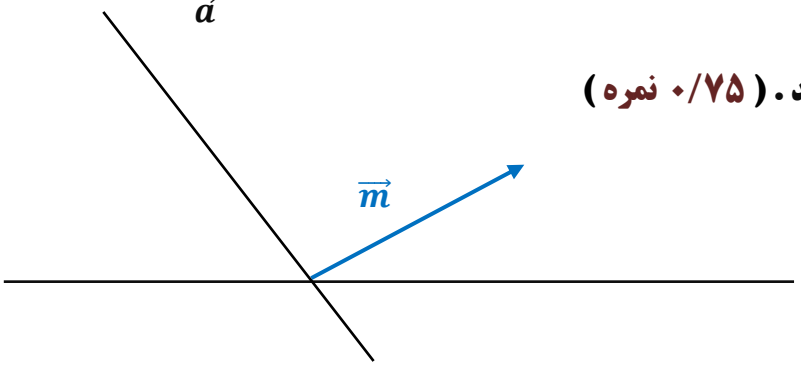

۱۲ – با توجه به بردارهای $\vec{a}=\begin{bmatrix}۳\\-۲\end{bmatrix}$ و $\vec{b}=-۴\vec{i}+۳\vec{j}$ ، مختصاتِ بردار $\vec{x}$ را به دست آورید . (۱ نمره)

$\vec{x}=۲\vec{a}-۳\vec{b}$

۱۳ - برای بردارهای شکلِ زیر ، یک جمعِ برداری و یک جمعِ مختصاتی بنویسید . (۱ نمره)

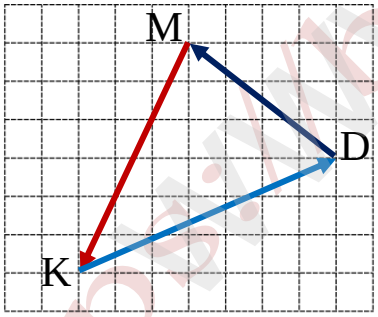

جمعِ برداری :

جمعِ مختصاتی :



زندگی به من یاد داده ، برای داشتن آرامش و آسایش ، امروز را با خدا قدم بردارم و فردا را به اوبسپارم

صفحهٔ سوم . نام و نام خانوادگی دانش آموز : کلاس :

http://www.kazemdarabi.com

پاسخ نامه آزمون

۱- درستی و یا نادرستی عبارت های زیر را مشخص کنید . (۲ نمره)

الف) ۱۱۹ عددی مرکب است . بر ۷ بخشپذیر است ■ درست □ نادرست

ب) دو عددِ طبیعیِ متوالی ، همواره نسبت به هم اولند . ■ درست □ نادرست

ج) در هر لوزی ، ضلع های روبرو موازی اند . ■ درست □ نادرست

د) $8ab^2$ و $8a^2b$ جملات متشابه هستند . □ درست ■ نادرست

۲ – جاهای خالی را با اعداد و کلمات مناسب پر کنید . (۲ نمره)

الف) قرینهٔ معکوسِ عددِ $-2\frac{2}{3}$ ، برابر با ___ $\frac{3}{8}$ ___ است . $\frac{3}{8}$ ⟸ قرینهٔ معکوس ⟸ $-2\frac{2}{3} = -\frac{8}{3}$

ب) به هر عددکه بتوان به صورت کسر نوشت ، یک عددِ ___ گویا ___ می گویند .

ج) مجموع دو عدد اول ، ۹۹ شده است . حاصل ضربِ آنها مساوی ___ ۱۹۴ ___ است . $97 \times 2 = 194$

د) در روش غربالِ اعداد ۱ تا ۵۰ ، آخرین عددی که خط می خورد ، عددِ ___ ۴۹ ___ است .

۳ – عددی بنویسید که شمارنده های اول آن فقط ۲ و ۷ و ۵ باشد . (۰/۵ نمره) $7 \times 2 \times 5 = 70$

۴ – نوعی متوازی الاضلاع است که قطرهایش بر هم عمودند . آنرا نام برده و رسم کنید . (۱ نمره)

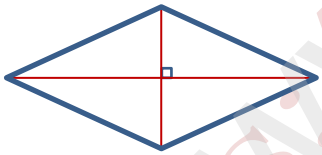

لوزی

۵ – در هر سوال ، گزینهٔ صحیح را مشخص کنید . (۱ نمره)

الف) حاصل ضربِ هر عدد صحیحِ غیر صفر در قرینهٔ معکوسش ، مساوی _____ است .

۱ ۱ ■ ۲ ۱- ۳ خودِ آن عدد ۴ صفر

ب) اندازهٔ زاویهٔ رأس در مثلث متساوی الساقین ۴۸ درجه است . اندازهٔ زاویهٔ مجاور قاعده _____ درجه است .

۱ ۸۴ ۲ ۹۶ ۳ ۴۸ ■ ۴ ۶۶

اندازهٔ هر زاویه مجاور قاعده $= \frac{180 - 48}{2} = \frac{132}{2} = 66^\circ$

https://www.kiarmaths4k.com

۶ – الف) حاصل مجموعه اعداد زیر را با نوشتن راه حل بدست آورید . (۱ نمره)

$$۲۲ + ۲۵ + ۲۸ + ۳۱ + \cdots + ۱۳۶ + ۱۳۹ = ۳۲۲۰$$

$$\left(\frac{\text{جمله اول} + \text{جمله آخر}}{۲}\right)\left(\frac{\text{جمله اول} - \text{جمله آخر}}{\text{فاصله}} + ۱\right) = \left(\frac{۱۳۹ + ۲۲}{۲}\right)\left(\frac{۱۳۹ - ۲۲}{۳} + ۱\right) = \left(\frac{۱۶۱}{۲} \times ۴۰\right) = ۳۲۲۰$$

ب) حاصل عبارات زیر را با نوشتن راه حل بدست آورید . (۲ نمره)

$$\frac{۳۸}{۳} \div \left(\frac{-۱}{۵} + \frac{۵}{۶}\right) = \frac{۳۸}{۳} \div \left(\frac{-۱ \times ۶}{۵ \times ۶} + \frac{۵ \times ۵}{۶ \times ۵}\right) = \frac{۳۸}{۳} \div \left(\frac{-۶ + ۲۵}{۳۰}\right) = \frac{۳۸}{۳} \div \frac{۱۹}{۳۰} = \frac{۳۸}{۳} \times \frac{۳۰}{۱۹} = ۲۰$$

$$-۱۶ - ۷ \times (-۴) \div (-۲) = -۱۶ + ۲۸ \div (-۲) = -۱۶ - ۱۴ = -۳۰$$

۷– الف) عبارت جبری روبه رو را ساده کنید . (۱ نمره)

$$(۳x - ۴)^۲ = (۳x - ۴)(۳x - ۴) = ۹x^۲ - ۱۲x - ۱۲x + ۱۶ = ۹x^۲ - ۲۴x + ۱۶$$

ب) عبارت زیر را تجزیه کرده و به ساده ترین صورت ممکن بنویسید . (فاکتورگیری) (۱ نمره)

$$\frac{m^۲ - mn}{nm^۲ - mn^۲} = \frac{m(m-n)}{nm(m-n)} = \frac{m}{nm} = \frac{۱}{n}$$

ج) چرا مجموع دو عددِ فرد ، عددی زوج است ؟ (۱ نمره)

فرد

۸ – معادلهٔ روبرو را حل کنید . (۱/۵ نمره)

$$\frac{۱}{۲} - \frac{۲x - ۱}{۴} = \frac{-۳}{۴}$$

$$۴ \times \left(\frac{۱}{۲} - \frac{۲x - ۱}{۴} = \frac{-۳}{۴}\right)$$

$$۲ - (۲x - ۱) = -۳$$

$$۲ - ۲x + ۱ = -۳$$

$$-۲x = -۶ \quad \Rightarrow x = \frac{-۶}{-۲} = ۳$$

۹ – با توجه به شکل ها ، مقدار مجهول را بیابید. (۱/۵ نمره)

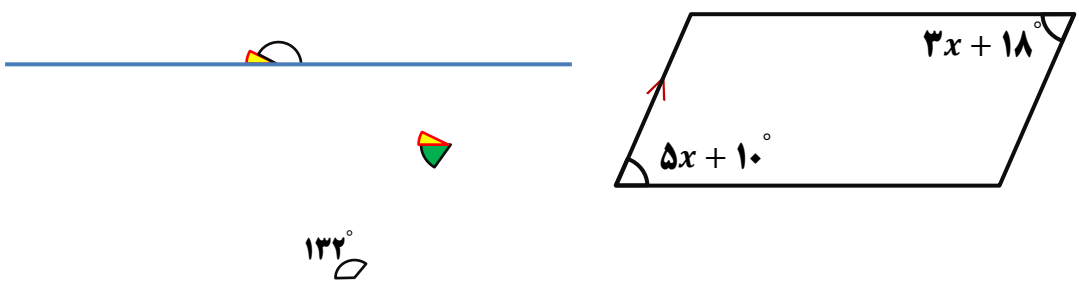

https://www.ekamath84.com

۱۰– اندازهٔ هر یک از زاویه های داخلیِ یک چند ضلعی منتظم ۱۴۴ درجه است . این شکل ، چند ضلعی است ؟ (۱ نمره)

۳۶ = ۱۴۴ – ۱۸۰ = زاویهٔ داخلی – ۱۸۰ = اندازهٔ هر زاویهٔ خارجی n ضلعی منتظم

۱۱ – الف) با توجه به بردار های داده شدهٔ روبرو ، بردارِ حاصل جمع (برآیند) را رسم کنید . (۰/۷۵ نمره)



ب) بردار داده شده را روی امتداد های رسم شده تجزیه کنید . (۰/۷۵ نمره)

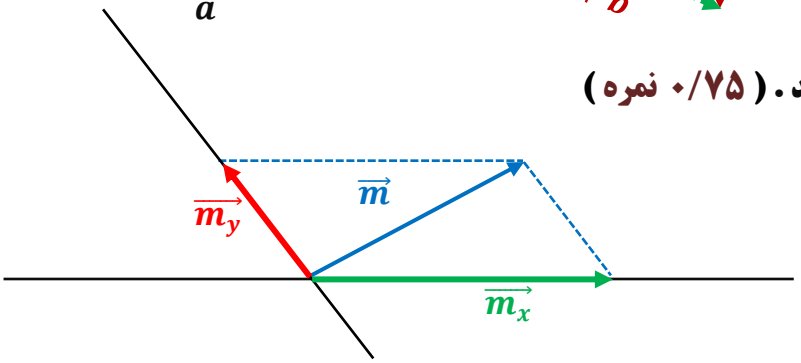

۱۲ – با توجه به بردارهای $\vec{a}=\begin{bmatrix}۳\\-۲\end{bmatrix}$ و $\vec{b}=-۴\vec{i}+۳\vec{j}$ ، مختصاتِ بردار $\vec{x}$ را به دست آورید . (۱ نمره)

$$\vec{a}=\begin{bmatrix}۳\\-۲\end{bmatrix} \quad و \quad \vec{b}=-۴\vec{i}+۳\vec{j}=-۴\begin{bmatrix}۱\\۰\end{bmatrix}+۳\begin{bmatrix}۰\\۱\end{bmatrix}=\begin{bmatrix}-۴\\۰\end{bmatrix}+\begin{bmatrix}۰\\۳\end{bmatrix}=\begin{bmatrix}-۴\\۳\end{bmatrix}$$

$$\vec{x}=۲\vec{a}-۳\vec{b}=۲\begin{bmatrix}۳\\-۲\end{bmatrix}-۳\begin{bmatrix}-۴\\۳\end{bmatrix}=\begin{bmatrix}۶\\-۴\end{bmatrix}+\begin{bmatrix}۱۲\\-۹\end{bmatrix}=\begin{bmatrix}۱۸\\-۱۳\end{bmatrix}$$

۱۳ – برای بردارهای شکلِ زیر ، یک جمعِ برداری و یک جمعِ مختصاتی بنویسید . (۱ نمره)

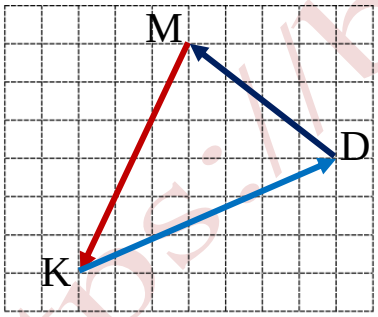

جمعِ برداری : $\overrightarrow{KD}+\overrightarrow{DM}+\overrightarrow{MK}=۰$

جمعِ مختصاتی : $\begin{bmatrix}۷\\۳\end{bmatrix}+\begin{bmatrix}-۴\\۳\end{bmatrix}+\begin{bmatrix}-۳\\-۶\end{bmatrix}=\begin{bmatrix}۰\\۰\end{bmatrix}$



زندگی به من یاد داده ، برای داشتن آرامش و آسایش ، امروز را با خدا قدم بردارم و فردا را به اوبسپارم

https://bie.ir/math84kdm