Kanoon.ir

شما با دانلود این نمونه سوال، کد تخفیف خرید کتاب از سایت کانون بوک دریافت می کنید.

برای دریافت کد جایزه خود، عدد 33 را به سر شماره 90008451 ارسال کنید.



تمرین بیشتر نمونه سوالات امتحانی با کتاب های پرتکرار

همین حالا جایزه خود را دریافت کنید.

kanoonBook.ir

www.kanoon.ir

نام و نام خانوادگی:		باسمه تعالی وزارت آموزش و پرورش اداره کل آموزش و پرورش استان خراسان جنوبی مدیریت آموزش وپرورش شهرستان طبس دبیرستان: واعظ طبسی	نام درس	ریاضی	محل مهر آموزشگاه
نام پدر:			تاریخ امتحان	۱۴۰۳/۱۰/۸	
پایه : هشتم	شعبه کلاس:۸۰۲		تعداد صفحه: ۲	تعداد سوال: ۱۵سوال	
شماره صندلی:	رشته: عمومی		زمان شروع: ۹:۳۰ صبح	وقت: ۷۰ دقیقه	

نام ونام خانوادگی دبیر : علی مفتاح	نمره پس از تجدید نظر	نام ونام خانوادگی
نمره به عدد ☐ امضاء	نمره به عدد ☐	
نمره به حروف ☐	نمره به حروف ☐ امضاء	

	سوالات (دانش آموزان وداوطلبان عزیز ضمن عرض خیرمقدم ،سئوالات زیر رابه دقت بخوانید وبا توکل به خدا وبا آرامش خاطر پاسخ کامل دهید.)	بارم
۱	جملات درست را با √ و جملات نادرست را با ×مشخص کنید. الف) عدد π گویا است. ◯ ب) عدد ۵۰۰۱ عددی اول است .◯ ج)در مستطیل قطرها مساوی هستند. ◯ د)مجموع زاویه های خارجی مثلث ۱۸۰درجه است.◯	۱
۲	جاهای خالی را با اعداد یا کلمات مناسب پر کنید . ❖ مجموع دو عدد اول ۶۹ است آن دو عدد ..... و ..... هستند . ❖ دو خط عمود بر یک خط با هم .....هستد. ❖ تنها عدد گویا که معکوس ندارد ..... است . ❖ مجموع زاویه‌های خارجی هر ۸ ضلعی ..... درجه است .	۱
۳	با توجه به محور زیر یک جمع بنویسید . 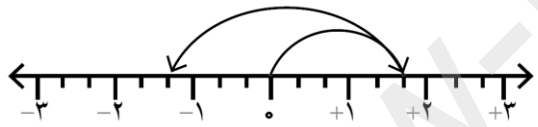 <br( ) + ( ) = ( )	۱
۴	حاصل هر عبارت را بدست آورید . $۴+\frac{۲}{۵}=$ $(۲\times(-۳-۵))=$ $۲\frac{۱}{۵}\div\left(-\frac{۷}{۵}\right)=$ $-\frac{۵}{۶}-\left(-\frac{۲}{۳}\right)=$	۲
۵	به روش غربال اعداد ۱تا۴۰ را بنویسید و اعداد اول بین آن هارا مشخص کنید.	۱.۵
۶	اندازه هر زاویه داخلی ۱۰ضلعی منتظم را با نوشتن فرمول بدست آورید.(نوشتن فرمول الزامی است) فرمول =	۱
۷	با توجه به شکل b را بدست آورید. 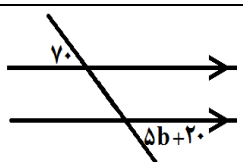 	۱.۵

www-kanoon-ir

نام و نام خانوادگی:	باسمه تعالی وزارت آموزش و پرورش اداره کل آموزش و پرورش استان خراسان جنوبی مدیریت آموزش وپرورش شهرستان طبس دبیرستان: واعظ طبسی	نام درس	ریاضی	محل مهر آموزشگاه
نام پدر:		تاریخ امتحان	۱۴۰۳/۱۰/۸	
پایه : هشتم / شعبه کلاس:۸۰۲		تعداد صفحه: ۲	تعداد سوال: ۱۵سوال	
شماره صندلی: / رشته: عمومی		زمان شروع: ۹:۳۰ صبح	وقت: ۷۰ دقیقه	

۸	الف) جملهٔ nاُم دنبالهٔ داده شده را نوشته و جملهٔ ۲۰۰ اُم آن را محاسبه کنید ..... ۵،۸،۱۱،۱۴ ب)مساحت هر یک از شکل های زیر را به صورت عبارت جبری بنویسید و در صورت امکان ساده کنید. 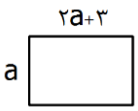 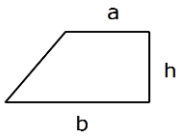	۲
۹	کسر زیر را تا حد امکان ساده کنید. $\frac{a^2b-ab^2}{a^3b^2-a^2b^3}=$	۱/۵
۱۰	مقدار هر عبارت را به ازاء عددهای داده شده حساب کنید. و جدول را کامل کنید. y=-۴x x | y -۱۲ | | ۷ y=۲x-۵ x y ۰ ۳	۲
۱۱	عبارت جبری زیر را ساده کنید. $(2x+7)(2x-7)=$	۱
۱۲	عبارت را تجزیه کنید. $۵ax-۱۰x^{۲}=$	۱
۱۳	یک قسمت ازبشقاب به شکل چندضلعی منتظم و شکسته را داریم. تعداد ضلع ها نامشخص است اما یک زاویه آن ۱۴۴درجه است.تعداد اضلاع را با نوشتن فرمول و راه حل بدست آورید.	۱/۵
۱۴	ثابت کنید مجموع دوعدد فرد، همیشه زوج است.	۱
۱۵	طول ضلع یک لوزی $2x-3$ است.اگر محیط آن ۱۰۸ باشد، x رابدست آورید.	۱
	آرزومند آرزوهای زیبای شما..... (مفتاح)	۲۰