Kanoon.ir

شما با دانلود این نمونه سوال، کد تخفیف خرید کتاب از سایت کانون بوک دریافت می کنید.

برای دریافت کد جایزه خود، عدد 33 را به سر شماره 90008451 ارسال کنید.



تمرین بیشتر نمونه سوالات امتحانی با کتاب های پرتکرار

همین حالا جایزه خود را دریافت کنید.

kanoonBook.ir

www.kanoon.ir

نام و نام خانوادگی: نام پدر: شماره کارت: تعداد صفحات: ۲	باسمه تعالی اداره آموزش و پرورش استان خوزستان اداره آموزش و پرورش ناحیه ۲ اهواز دبیرستان غیردولتی پسرانه دوره اول حجت «عج» **امتحانات نوبت اول** سال تحصیلی ۱۴۰۴-۱۴۰۳	نام درس: ریاضی کلاس: هشتم تاریخ امتحان: ۱۴۰۳/۱۰/۱۵ ساعت امتحان: ۱۰ صبح مدت امتحان: ۹۰ دقیقه
نمره با عدد: نمره با حروف: نام دبیر: شهریاری امضاء دبیر:	نمره تجدیدنظر با عدد: با حروف: نام دبیر: شهریاری امضاء دبیر:	مهر و امضاء مدیر دبیرستان:

ردیف	پرسشنامه	بارم
۱	**درستی یا نادرستی عبارت های زیر را مشخص کنید:** الف) مربع نوعی لوزی است. ص ☐ غ ☐ ب) کوچکترین عدد اول زوج 4 می باشد. ص ☐ غ ☐ پ) محیط مربع $P = 4a$ می باشد. ص ☐ غ ☐	۰/۵ ۰/۵ ۰/۵
۲	**جاهای خالی را با عبارت مناسب پر کنید:** الف) بزرگ ترین عدد اول یک رقمی ..... می باشد. ب) مجموع زاویه های داخلی مثلث ..... می باشد.	۰/۵ ۰/۵
۳	**گزینه مناسب را انتخاب کنید:** * کدام گزینه با دیگر گزینه ها متشابه نیست؟ الف) $-2xy$ ☐ ب) yx ☐ ج) $3xy$ ☐ د) $4xy^2$ ☐ * تعداد قطرهای یک 4 ظلعی را بدست آورید؟ الف) 90 ☐ ب) 120 ☐ ج) 80 ☐ د) 60 ☐ * مجموع دو عدد اول 13 شده است. آن دو عدد کدامند؟ الف) 14 و 1 ☐ ب) 9 و 4 ☐ ج) 11 و 2 ☐ د) 12 و 3 ☐	۰/۵ ۰/۵ ۰/۵
۴	حاصل عبارت های زیر را بدست آورید؟ الف) $26 \div 2 - 5 \times 2 =$ ب) $\frac{6}{3} \div \frac{18}{12} =$ پ) $-\frac{2}{4} - \frac{3}{5} =$	۰/۵ ۰/۵ ۰/۵
۵	معادله های زیر را حل کنید؟ الف) $\frac{4}{5}x - \frac{3}{2} = \frac{1}{4}$ ب) $6(5x - 4) = 2x + 3$	۱ ۱
۶	عبارت های جبری زیر را تا حد امکان ساده کنید؟ الف) $14x^2 - 13x + 12 - 10x^2 + 3x - 12 =$ ب) $(5x - 4)(6x + 3) =$ ج) $4(2a - 3) + 3a - 4 =$	۱ ۱ ۱

www.kanoon.ir
REDMI NOTE 8
AI QUAD CAMERA
Scanned with CamScanner

۷	با توجه به شکل های زیر مقدار x را بدست آورید: ب) 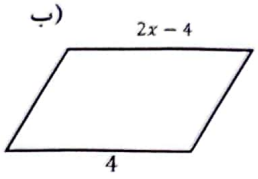 پ) 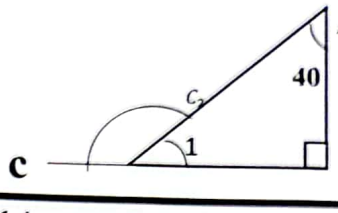 	۳ الف) 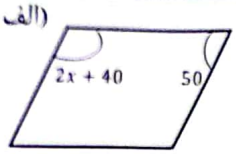
۸	اندازه و مجموع یکی از زاویه های 14 ضلعی منتظم را بدست آورید؟	۱/۵
۹	مشخص کنید که عدد 91 اول است یا مرکب؟	۱/۵
۱۰	اعداد اول بین 35 تا 10 را بنویسید؟	۱/۲۵

REDMI NOTE 8
AI QUAD CAMERA

Scanned with CamScanner