Kanoon.ir

شما با دانلود این نمونه سوال، کد تخفیف خرید کتاب از سایت کانون بوک دریافت می کنید.

برای دریافت کد جایزه خود، عدد 33 را به سر شماره 90008451 ارسال کنید.



تمرین بیشتر نمونه سوالات امتحانی با کتاب های پرتکرار

همین حالا جایزه خود را دریافت کنید.

kanoonBook.ir

www.kanoon.ir

باسمه تعالي

نام و نام خانوادگي : **اداره کل آموزش وپرورش استان چهار محال وبختیاری** **نام درس: ریاضی هشتم**

نام پدر : **اداره آموزش و پرورش شهرستان فلارد** **نوبت امتحانی: دی ماه**

نام کلاس : **آموزشگاه : نبوت مالخلیفه** **تاریخ امتحان: ۱۵ / ۱۰ /۱۴۰۳**

تعداد صفحه : ۲ **تعداد سوال : ۱۰** **وقت : دقیقه** **ساعت شروع:**

شماره صندلی: **طراح:**

نمره به عدد :..... نمره به حروف:..... امضاء

:.....

ردیف	« شرح سؤالات »	نمره
۱	**-حاصل عبارت های زیر را بدست آورید** $(-۶) + (-۷) =$ $-۴ - ۱۲ =$ $(-۶) \times (-۲۰) =$ $۲۰۰ \div ۲۰ =$	۲
۲	**- حاصل عبارت های زیر را بدست آورید** $(-۱\frac{۱}{۲}) \times (-۳\frac{۱}{۳}) =$ $(-\frac{۷}{۹}) \times (-\frac{۲۸}{۲۷}) =$ $(\frac{۲}{۶} - \frac{۳}{۶} - \frac{۴}{۶} + \frac{۷}{۶}) \times (-\frac{۶}{۳}) =$	۲
۳	**- شمارنده های اعداد داده شده را بدست آورید** **(۲۴ , ۲۷)** **(۱۸ , ۱۲)**	۲
۴	**- اعداد اول از ۲۰ تا ۴۰ را بنویسید**	۲
۵	**- زوایه های زیر را بدست آورید** 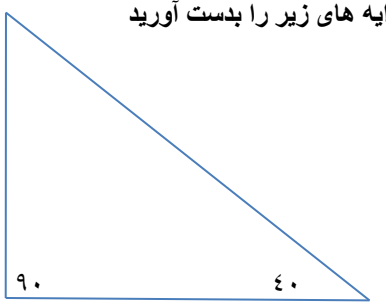 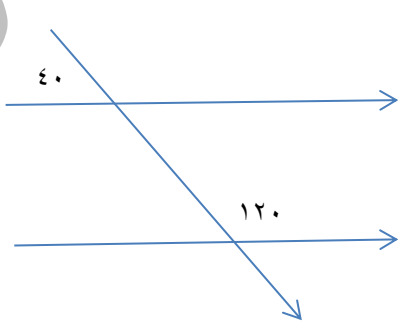	۲

اداره آموزش و پرورش شهرستان فلارد

٦	**- مجموع زاویه های هر یک از چند ضلعی های زیر را محاسبه کنید** **الف) هفت ضلعی ب) دوازده ضلعی**	٢
٧	**- عبارت های جبری زیر راساده کنید** $(a+٣)(a+٣)=$ $(٢x-٣y)(٢x-٣y)=$	٢
٨	**معادله های زیر را حل کنید** $-\frac{٣}{٨}X+٦=\frac{١}{٦}$ $\frac{١}{٢}-\frac{٢x-١}{٧}=$ $٣x-\frac{٢}{٣}=٦x+٣$	٢
٩	**- مختصات بردار های زیر را بدست آورید** 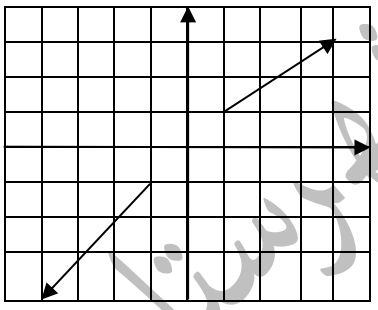	٢
١٠	**- طرف دیگر تساوی های زیر را بنویسید** $\vec{A}=\begin{pmatrix}٣\\٧\end{pmatrix}=$ $\vec{c}=\begin{pmatrix}\\\end{pmatrix}=-٢i+٦j$ $\vec{b}=\begin{pmatrix}\\\end{pmatrix}=٣i+٦j$	٢

اداره آموزش وپرورش شهرستان فلارد