Kanoon.ir

شما با دانلود این نمونه سوال، کد تخفیف خرید کتاب از سایت کانون بوک دریافت می کنید.

برای دریافت کد جایزه خود، عدد 33 را به سر شماره 90008451 ارسال کنید.



تمرین بیشتر نمونه سوالات امتحانی با کتاب های پرتکرار

همین حالا جایزه خود را دریافت کنید.

kanoonBook.ir

www.kanoon.ir

نمره با عدد: نمره باحروف: نام دبیر : آقای هفت سوارانی امضاء دبیر: تاریخ: نمره تجدید نظر:	مدیریت آموزش وپرورش ناحیه 3کرج دبیرستـان شهیـد آیـــت سال تحصیلی 1403-1404 مهر امتحانات شماره صندلی : نام : نام خانوادگی: نام درس: ریاضی تعداد صفحات: 3 پایه/ رشته: هشتم مدت امتحان: 90 دقیقه تاریخ امتحان: 1403/10/8 تعداد کل سوالات: 13	

1	درستی یا نادرستی عبارات زیر را مشخص کنید. الف) مرکز تقارن همان محور تقارن است. ب) مجموع دو عدد فرد، عددی فرد است. پ) بین $\frac{1}{2}$ و $\frac{1}{3}$ بی شمار عدد گویا وجود دارد. ت) مجموع زاویه های خارجی مستطیل برابر 360 درجه است.	1
2	جا های خالی را با کلمه مناسب پر کنید. الف) عبارت جبری $2x-3$ به ازای $x=2$ برابر ..... است. ب) مجموع یک عدد فرد با یک عدد زوج ، عددی ..... است پ) تنها عددی که معکوس ندارد، عدد ..... است. ت) کوچکترین عدد اول ، عدد ..... می باشد.	1
3	به کمک محور حاصل عبارت زیر را بدست آورید. $2\frac{2}{3}-3\frac{1}{3}=$	1
4	حاصل عبارت های زیر را بدست آورید. $1)\ \frac{2}{3}-\frac{1-\frac{1}{3}}{1+\frac{1}{4}}=$ $2)\ \frac{3}{12}-\frac{6}{14}\times\frac{7}{18}\div\left(\frac{2}{5}\times\frac{20}{4}\right)=$	2

www-kanoon.ir

نمره با عدد: نمره باحروف: نام دبیر : آقای هفت سوارانی امضاء دبیر: تاریخ: نمره تجدید نظر:	مدیریت آموزش وپرورش ناحیه 3کرج دبیرستـان شهیـد آیــت سال تحصیلی 1403-1404 مهر امتحانات شماره صندلی : نام : نام خانوادگی: نام درس: ریاضی تعداد صفحات: 3 پایه/ رشته: هشتم مدت امتحان: 90 دقیقه تاریخ امتحان: 1403/10/8 تعداد کل سوالات: 13	

5	اعداد اول 1 تا 28 را مشخص کنید و مراحل غربال را توضیح دهید.	2
6	اعداد زیر را به عوامل اول تجزیه کنید. الف) 84 ب) 110	1
7	حاصل عبارت های زیر را بدست آورید. الف) $(105 \text{ و } 126) =$ ب) $(63 \text{ و } 36) =$	2.5
8	مجموع زاویه های داخلی و اندازه هر زاویه داخلی و خارجی یک 9 ضلعی منتظم چند درجه است؟	1.5

www-kanoon-ir

نمره با عدد: نمره باحروف: نام دبیر : آقای هفت سوارانی امضاء دبیر: تاریخ: نمره تجدید نظر:	مدیریت آموزش وپرورش ناحیه 3کرج دبیرستـان شهیـد آیـــت سال تحصیلی 1403-1404 مهر امتحانات شماره صندلی : نام : نام خانوادگی: نام درس: ریاضی تعداد صفحات: 3 پایه/ رشته: هشتم مدت امتحان: 90 دقیقه تاریخ امتحان: 1403/10/8 تعداد کل سوالات: 13	

9	با توجه به شکل های زیر مقدار x را بدست آورید. 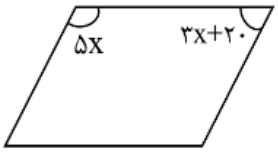 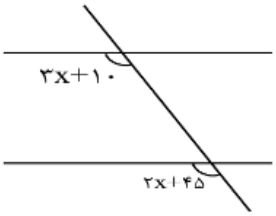	2
10	مقدار x را محاسبه کنید. 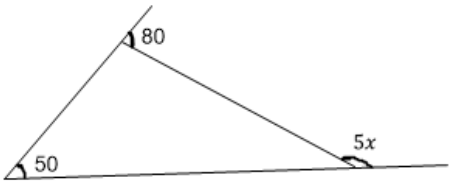	1
11	عبارت های جبری زیر را ساده کنید. الف) $(3x-2)(3x+2)=$ ب) $4(x+2y)-3(2x-y)=$	2
12	عبارت های زیر را تجزیه و در صورت امکان ساده کردن ، ساده کنید. الف)$8x^3yc^4+16c^3y^2x=$ ب) $\frac{ab-ac}{ab+ac}=$	2
13	معادله زیر را حل کنید. $\frac{2}{9}x-\frac{1}{6}=-\frac{2}{3}x+2$	1
	موفق و سربلند باشید جمع نمره	20