Kanoon.ir

شما با دانلود این نمونه سوال، کد تخفیف خرید کتاب از سایت کانون بوک دریافت می کنید.

برای دریافت کد جایزه خود، عدد 33 را به سر شماره 90008451 ارسال کنید.



تمرین بیشتر نمونه سوالات امتحانی با کتاب های پرتکرار

همین حالا جایزه خود را دریافت کنید.

kanoonBook.ir

www.kanoon.ir

نام : نام خانوادگی : نام پدر: نام دبیر : هنردار نام درس : ریاضی تعداد سوالات : ۱۷ سوال	باسمه تعالی اداره کل آموزش و پرورش استان فارس کارشناسی سنجش و ارزشیابی تحصیلی مدیریت آموزش و پرورش ناحیه ۱ شیراز **دبیرستان غیر دولتی نور خرد (متوسطه اول)**	نوبت امتحانی: دی ماه ۱۴۰۳ پایه : هشتم تاریخ امتحان : ۱۵ /۱۰/ ۱۴۰۳ ساعت شروع : ۸ صبح مدت امتحان : ۹۰ دقیقه تعداد صفحه :۳

تصحیح اول	نام و نام خانوادگی دبیر : تاریخ و امضا :	نمره به عدد: نمره به حروف :	تجدید نظر	نام و نام خانوادگی دبیر : تاریخ و امضا :	نمره به عدد : نمره به حروف :

ردیف	سوالات	بارم
۱	درستی و نادرستی عبارات زیر را مشخص کنید. ☐ مقدار عددی $y=2x+1$ به ازای $y=0$ برابر $\frac{-1}{2}$ است. ☐ اندازه هر زاویه خارجی یک پنج ضلعی منتظم ۱۰۸ درجه است. ☐ دو خط عمود بر یک خط با یکدیگر موازی‌اند. ☐ اگر a عددی اول باشد تمام مضربهای آن اول است.	۱
۲	جای خالی را با عبارت مناسب پر کنید: الف) مجموع زوایای خارجی یک شش ضلعی منتظم .....درجه است. ب)تنها عددی که معکوس ندارد.....است. پ)دو بردار هم‌راستا، هم‌جهت و هم‌اندازه را دو بردار .....می‌نامند. ت)اگر خطی بر یکی از دو خط موازی عمود باشد .....است.	۱
۳	با کدام کاشی منتظم زیر به تنهایی نمی‌شود یک سطح را کاشی کرد؟ ☐ الف)شش ضلعی ☐ ب)پنج ضلعی ☐ پ)چهار ضلعی ☐ ت)سه ضلعی قطرهای کدام شکل عمود منصف یکدیگر است؟ ☐ الف)مستطیل ☐ ب)مربع ☐ پ)لوزی ☐ ت)گزینه ب و پ در شکل زیر کدام بردار، بردار حاصل جمع است؟ ☐ $\vec{b}$ ☐ $\vec{c}$ ☐ $\vec{d}$ ☐ $\vec{e}$ 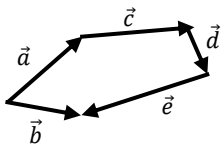	۱/۵
۴	حاصل عبارتهای زیر را بدست آورید: $-(۲\times۱۳+۱۲\div۶-۵)=$ $\left(\frac{۳}{۱۵}+\frac{۱}{-۳}\right)\div\left(-\frac{۳}{۶}\times\frac{-۱}{۳}\right)=$	۱/۵

www.kanoon.ir

نام :	باسمه تعالی	نوبت امتحانی: دی ماه ۱۴۰۳
نام خانوادگی :	اداره کل آموزش و پرورش استان فارس	پایه : هشتم
نام پدر:	کارشناسی سنجش و ارزشیابی تحصیلی	تاریخ امتحان : ۱۵ /۱۰/ ۱۴۰۳
نام دبیر : هنردار	مدیریت آموزش و پرورش ناحیه ۱ شیراز	ساعت شروع : ۸ صبح
نام درس : ریاضی	**دبیرستان غیر دولتی نور خرد (متوسطه اول)**	مدت امتحان : ۹۰ دقیقه
تعداد سوالات : ۱۷ سوال		تعداد صفحه :۳

تصحیح اول	نام و نام خانوادگی دبیر : / تاریخ و امضا :	نمره به عدد: / نمره به حروف :	تجدید نظر	نام و نام خانوادگی دبیر : / تاریخ و امضا : / نمره به عدد : / نمره به حروف :

۵	مقدارهای خواسته شده بدست آورید: (۷ ، ۸) = [۱۵و۴۵]= (۹ ، ۱۲) =	۰/۷۵
۶	آیا ۹۳ یک عدد اول است؟ چرا؟	۱
۷	در روش غربال اراتستن جهت غربال اعداد کمتر از ۱۵۰، خط زدن را با مضرب کدام عدد شروع و با مضرب کدام عدد تمام می‌کنیم؟	۰/۷۵
۸	اگر a‖b و b‖c آنگاه چه نتیجه‌ای می‌توان گرفت؟	۰/۵
۹	مقدارx وy را بدست آورید $\begin{bmatrix} ۲x+۱ \\ ۳y-۲ \end{bmatrix} + \begin{bmatrix} ۳ \\ -۵ \end{bmatrix} = \begin{bmatrix} ۰ \\ ۲ \end{bmatrix}$	۱
۱۰	با توجه به رابطه x و y جدول را کامل کنید: y= ۲ x -۴ x | -۱ ۰ ۱ ..... y | ۰	۱
۱۱	بردار $\hat{a}$ ، $\hat{b}$ را تجزیه کنید: 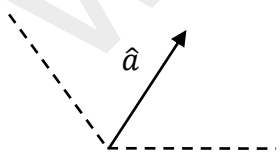 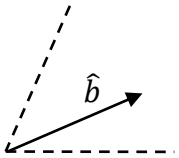	۱
۱۲	در شکل زیر یک ۶ ضلعی منتظم و یک ۳ ضلعی منتظم در یک ضلع مشترک هستند اندازه‌ی زاویه a را بدست آورید؟ 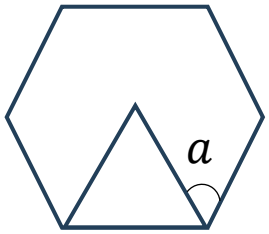 $\hat{a} =$	۱

www-kanoon-ir

نام : نام خانوادگی : نام پدر: نام دبیر : هنردار نام درس : ریاضی تعداد سوالات : ۱۷ سوال	باسمه تعالی اداره کل آموزش و پرورش استان فارس کارشناسی سنجش و ارزشیابی تحصیلی مدیریت آموزش و پرورش ناحیه ۱ شیراز **دبیرستان غیر دولتی نور خرد (متوسطه اول)**	نوبت امتحانی: دی ماه ۱۴۰۳ پایه : هشتم تاریخ امتحان : ۱۵ /۱۰/ ۱۴۰۳ ساعت شروع : ۸ صبح مدت امتحان : ۹۰ دقیقه تعداد صفحه :۳

تصحیح اول	نام و نام خانوادگی دبیر : تاریخ و امضا :	نمره به عدد: نمره به حروف :	تجدید نظر	نام و نام خانوادگی دبیر : تاریخ و امضا :	نمره به عدد : نمره به حروف :

۱۳	چهارضلعی ABCD یک متوازی الاضلاع و خط CE امتداد یافته‌ی ضلع BC است مقادیر خواسته شده بدست آورید: 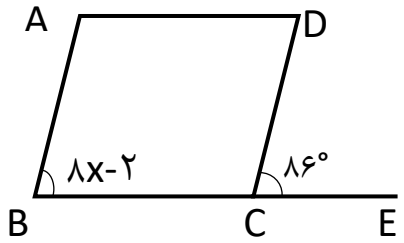 $X =$ $\hat{A} =$	۱/۵
۱۴	معادله‌ی زیر را حل کنید: $\frac{۲x}{۲}+\frac{۳x}{۴}=\frac{۱}{۸}$ $\frac{۴x+۲}{۳}=\frac{x-۱}{۲}$	۲
۱۵	عبارتهای جبری زیر را ساده کنید: $(۲x+y)(۲x-y)=$ $۲x(x+۳y)-۳y(۲x-y)$	۱/۵
۱۶	عبارتهای جبری زیر را به صورت حاصل جمع دو عبارت جبری بنویسید: $۴□^{۳}y^{۲}+۶□^{۴}y^{۲}-۸□^{۲}y^{۴}=$ $\frac{ax^{۲}-xa^{۲}}{a^{۳}x^{۴}-a^{۴}x^{۳}}$	۱/۵
۱۷	برای شکل زیر یک جمع برداری و یک جمع مختصاتی بنویسید: 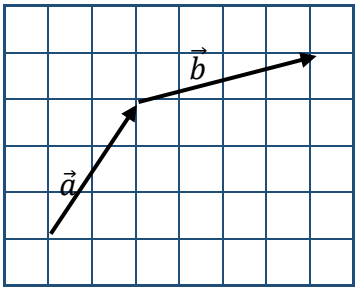 	۱/۵
	موفق باشید.	۲۰

www-kanoon-ir

نام : نام خانوادگی : نام پدر: نام دبیر : هنردار نام درس : ریاضی تعداد سوالات : ۱۷ سوال	باسمه تعالی اداره کل آموزش و پرورش استان فارس کارشناسی سنجش و ارزشیابی تحصیلی مدیریت آموزش و پرورش ناحیه ۱ شیراز **دبیرستان غیر دولتی نور خرد (متوسطه اول)**	نوبت امتحانی: دی ماه ۱۴۰۳ پایه : هشتم تاریخ امتحان : ۱۵ /۱۰/ ۱۴۰۳ ساعت شروع : ۸ صبح مدت امتحان : ۹۰ دقیقه تعداد صفحه :۳

تصحیح اول	نام و نام خانوادگی دبیر : تاریخ و امضا :	نمره به عدد: نمره به حروف :	تجدید نظر	نام و نام خانوادگی دبیر : تاریخ و امضا :	نمره به عدد : نمره به حروف :