نام و نام خانوادگی :	بسمه تعالی	محل مهر آموزشگاه
نام پدر :	اداره کل آموزش و پرورش استان مرکزی	نوبت امتحان : دی ماه
نام درس : ریاضی	مدیریت آموزش و پرورش شهرستان دلیجان	پایه : هشتم
نام و نام خانوادگی دبیر : زهرا صفری	دبیرستان غیر دولتی مهدیه دوره اول متوسطه	مدت امتحان : ۹۰ دقیقه
شماره صفحه :	سال تحصیلی : ۱۴۰۳-۱۴۰۲	تاریخ امتحان : ۱۴۰۲/۱۰/۹

ردیف	شرح سوالات	بارم
۱	جملات درست را با علامت ✓ و نادرست را با علامت × مشخص کنید . الف) هر عدد صحیح یک عدد گویا است . ☐ ب) لوزی با زاویه قائمه یک چهارضلعی منتظم است . ☐ ج) دو خط موازی با یک خط عمود برهم عمود هستند . ☐ د) هیچ عدد اولی بر ۲۳ بخش پذیر نیست . ☐	۱
۲	جاهای خالی را با عدد یا عبارت مناسب کامل کنید . الف) اگر مجموع دو عدد اول ، عددی فرد باشد ، عدد کوچکتر عدد ..... است . ب) حاصل ضرب هر عدد گویای غیر صفر در معکوس آن برابر با ..... می باشد . ج) متوازی الاضلاعی که زاویه قائمه دارد ..... نام دارد . د) کوچکترین عدد طبیعی دو رقمی که فقط یک شمارنده اول دارد عدد ..... است .	۱
۳	در هر سوال گزینه صحیح را انتخاب کنید . A : کدام شکل هم محور و هم مرکز تقارن دارد ؟ الف : متوازی الاضلاع ☐ ب) مثلث متساوی الساقین ☐ ج) هشت ضلعی منتظم ☐ د) ۵ضلعی منتظم ☐ B : دو واحد بیشتر از قرینه معکوس عدد ۱/۹- کدام است . الف) $-\frac{۱۰}{۹}$ ☐ ب) $۲\frac{۱}{۹}$ ☐ ج) $\frac{۲۸}{۱۹}$ ☐ د) $\frac{۴۸}{۱۹}$ ☐ C : اگر تعداد اعداد اول کوچکتر از هشتاد ، ۲۲ تا باشد تعداد اعداد مرکب کوچکتر از هشتاد چندتاست ؟ الف) ۵۵ ☐ ب) ۵۶ ☐ ج) ۵۷ ☐ د) ۵۸ ☐ D : در روش غربال برای پیدا کردن اعداد اول کوچکتر از ۱۰۰ کدام عدد زیر زودتر خط می خورد ؟ الف) ۷۷ ☐ ب) ۵۱ ☐ ج) ۴۹ ☐ د) ۸۷ ☐	۱
۴	الف) حاصل عبارت زیر را بدست آورید . $\frac{۷}{۲۴} \div (-۲\frac{۱}{۲} + ۱\frac{۱}{۳})$ ب) داخل مربع عدد مناسب قرار دهید تا تساوی برقرار باشد . $۵\frac{۱}{۳} \times \square = -۲$	۲

www-kanoon.ir

۵	عددهای بین ۱ تا ۱۰۰ را نوشته و غربال کرده ایم . با توجه به آن به سوالات زیر پاسخ دهید . الف) اولین عددی که خط می خورد را بنویسید . ب) اولین مضرب عدد ۷ که خط می خورد (اولین بار) کدام عدد است ؟ ج) عدد ۸۷ با مضرب کدام عدد اول خط می خورد ؟ د) دومین مضرب ۵ که خط می می خورد (اولین بار) کدام عدد است ؟	۱
۶	الف) عبارت جبری روبرو را ساده کنید . $(5x-2)^2-(10x^2+4)$ ب) مقدار عددی عبارت جبری $-a^2+b$ را به ازای $a=-3$ و $b=-2$ بدست آورید .	۲
۷	طرف دوم تساوی زیر را با رسم شکل مناسب کامل کنید . $\left.\begin{matrix} m \perp n \\ e \parallel n \end{matrix}\right\} \Longrightarrow$	۰/۷۵
۸	الف) دو عدد مرکب بنویسید که نسبت به ۳۰ اول باشند . ب) بررسی کنید عدد ۱۵۷ مرکب است یا اول ؟ (با ارائه راه حل)	۱/۵
۹	الف) مجموع زاویه های داخلی یک n ضلعی منتظم ۱۰۸۰ درجه است . تعداد ضلع های این چند ضلعی را مشخص کنید . (نوشتن فرمول الزامیست) ب) اندازه هر زاویه خارجی ۲۰ ضلعی منتظم را بدست آورید .	۱/۵

www-kanoon-ir

۱۰	عبارت جبری روبرو را تجزیه کنید . $۴۵x^{۳}y^{۲}-۱۵x^{۲}y^{۲}+۱۰xy$	۱/۵
۱۱	معادله مقابل را حل کنید . $\frac{x}{۲}+\frac{۱}{۳}=\frac{x+۱}{۶}$	۱/۲۵
۱۲	محیط و مساحت مربعی به ضلع $۳a^{۲}$ را به صورت عبارت جبری بنویسید . P = S =	۱
۱۳	در هر شکل اندازه های مجهول را بدست آورید . 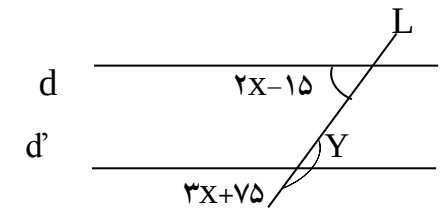 X = Y = d ll d' و L مورب 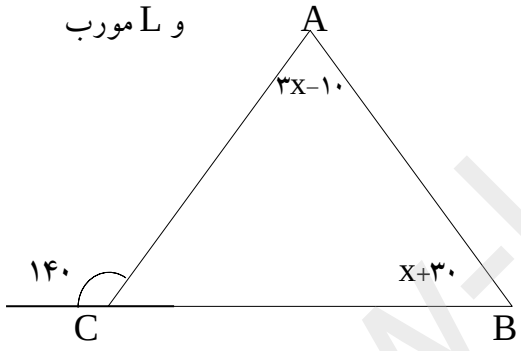 $\hat{B}$ = $\hat{X}$ =	۲
۱۴	الف) مقدار a را در تساوی روبرو بدست آورید . $\frac{-۱۴}{۳۵}=\frac{-۱۶}{a}$ ب) در مربع علامت + و − را طوری قرار دهید تا حاصل کمترین مقدار ممکن شود و سپس حاصل را بنویسید . −۵ □ −۲۸ □ +۷۰	۱/۵
۱۵	الف) چهار ضلعی نام ببرید که قطرها عمود منصف یکدیگر باشند . ب) مجموع زاویه های خارجی هشت ضلعی منتظم ..... درجه است .	۱
نمره با عدد :	نمره با حروف : نام و نام خانوادگی مصحح : تاریخ و امضاء	
جمع	«موفق و پیروز باشید»	۲۰

www.kanoon.ir

«بسمه تعالی» پاسخنامه سوالات ریاضی پایه: هشتم

۱- الف) درست ب) درست ج) نادرست د) نادرست (هر مورد ۰/۲۵ نمره)

۲- الف) عدد ۲ ب) عدد یک ج) مستطیل د) ۱۱ (هر مورد ۰/۲۵ نمره)

۳- A: ج B: د C: ب D: ب (هر مورد ۰/۲۵ نمره)

۴-

$$\left(-\frac{5}{2}+\frac{4}{3}\right)\div\left(\frac{7}{24}\right)=\left(\frac{-15+8}{6}\right)\div\frac{7}{24}=\left(-\frac{7}{6}\right)\times\frac{24}{7}$$

(۰/۵ نمره) (۰/۵ نمره) (۰/۲۵ نمره)

$$=-4$$ (۰/۲۵ نمره)

ب) $\frac{16}{3}\times\left(-\frac{6}{16}\right)=-2$ (۰/۵ نمره)

۵- الف) ۴ ب) $7^2=49$ ج) ۳ د) ۳۵ (هر مورد ۰/۲۵ نمره)

۶) الف)

$$(5x-2)^2=(5x-2)(5x-2)=25x^2-10x-10x+4$$

(۰/۵ نمره)

$$=25x^2-20x+4$$ (۰/۲۵ نمره)

$$25x^2-20x+\cancel{4}-10x^2-\cancel{4}=20x+15x^2$$

(۰/۵ نمره) (۰/۲۵ نمره)

ب)

$$-(-3)^2+(-2)=-9-2=-7$$

(۰/۲۵ نمره) (۰/۲۵ نمره)

۷-

$m\perp e$ (۰/۲۵ نمره)

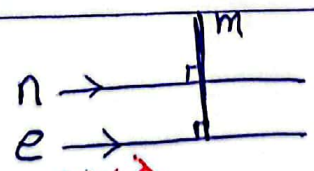

(۰/۵ نمره)

۸- الف) $(30,49)=1$ (۰/۲۵ نمره) $(30,77)=1$ (۰/۲۵ نمره)

ب) $\sqrt{157}\simeq 12/\ldots$ $(2,3,5,7,11)$

$157 \div 2 = 78$ ، $157 \div 3 = 52$

$157 \div 5 = 31$ ، $157 \div 7 = 22$ ، $157 \div 11 = 14$

پس عدد ۱۵۷ عدد اول است (۱ نمره)

www-kanoon-ir

$\frac{\text{۳۶۰}}{\text{۲۰}} = ۱۸$ (۵ نمره)

۹- مجموع زاویه‌های داخلی n ضلعی منتظم $(n-۲)\times ۱۸۰^\circ$ (۲۵ نمره)

$(n-۲)\times ۱۸۰^\circ = ۱۰۸۰^\circ$ (۲۵ نمره)

$۱۸۰n - ۳۶۰^\circ = ۱۰۸۰^\circ$ (۲۵ نمره)

$۱۸۰n = ۱۴۴۰^\circ$

$\boxed{n=۸}$ (۲۵ نمره)

۱۰-

$۵xy(۹x^۲y - ۳xy + ۲)$ (۲۵ نمره)

$\frac{۴۵x^۳y^۲}{۵xy} = ۹x^۲y$ (۲۵ نمره)

$\frac{۱۵x^۲y^۲}{۵xy} = ۳xy$ (۲۵ نمره)

$\frac{۱۰xy}{۵xy} = ۲$ (۲۵ نمره)

۱۱-

$۶(\frac{x}{۲} + \frac{۱}{۳} = \frac{x+۱}{۹})$

$۳x + ۲ = x + ۱$ (۵ نمره)

$۳x - x = -۲ + ۱$

$۲x = -۱$

$\boxed{x = -\frac{۱}{۲}}$ (۲۵ نمره)

$[۲,۳,۹] = ۹$

$\frac{۳}{x}(\frac{x}{x}) = ۳x$ (۵ نمره)

$\frac{۱}{x}(\frac{x+۱}{x}) = x+۱$

$\frac{۲}{x} \times \frac{۱}{۳} = ۲$

۱۲-

$P = ۴(۳a^۲) = ۱۲a^۲$ (۵ نمره)

$S = (۳a^۲)(۳a^۲) = ۹a^۴$ (۵ نمره)

۱۳-

$۲x - ۱۵ + ۳x + ۷۵ = ۱۸۰$

$۲x + ۳x = -۷۵ + ۱۵ + ۱۸۰$

$۵x = ۱۲۰$ (۵ نمره)

$x = \frac{۱۲۰}{۵} = ۲۴$ (۲۵ نمره)

$y = ۲ \times ۲۴ - ۱۵ = ۳۳$ (۲۵ نمره)

$۳x - ۱۰ + x + ۳۰ = ۱۴۰$

$۳x + x = ۱۰ - ۳۰ + ۱۴۰$

$۴x = ۱۲۰$ (۵ نمره)

$\hat{B} = ۳۰^\circ + ۳۰^\circ = ۶۰^\circ$ (۲۵ نمره)

www.kanoon.ir

۱۴-

الف) $\alpha = \dfrac{-\cancel{۱۶}^{۸} \times \cancel{۳۵}^{۵}}{-\cancel{۱۴}_{\cancel{۲}\,۱}} = +۴۰$

۷۵ نمره

ب) $-۵ \boxed{+} -۲۸ \boxed{-} +۷۰ = -۵ -۲۸ -۷۰ = -۱۰۳$

۲۵ نمره ۲۵ نمره ۲۵ نمره

۱۵- الف) لوزی ۵ نمره

ب) ۳۶۰ درجه ۵ نمره