ردیف	به نام خدا آزمون ریاضی کلاس هشتم دبیرستان غیردولتی نواندیشان وقت: 80 دقیقه	نام ونام خانوادگی	شعبه	بارم

نمره آزمون :

1 جملات درست رابا ✓ ونادرست رابا ✗ مشخص کنید: 1

الف) هرعددطبیعی حداقل یک شمارنده اول دارد. ☐ ب) صفرعددی گویاست. ☐

ج) مثلث متساوی الساقین سه محورتقارن دارد. ☐ د) دوخط عمودبریک خط باهم موازی اند. ☐

2 جای خالی رابه طورصحیح کامل کنید: الف) تنهامضرب اول هفت،عدد . . . . . است. 1

ب) متوازی الاضلاعی که درآن قطرهابرهم عمودهستند، . . . . . است.

ج) ک.م.م دوعددنسبت به هم اول،مساوی . . . . . آن دوعدداست.

د) اندازه هرزاویه داخلی یک هشت ضلعی منتظم، . . . . . درجه است.

3 گزینه صحیح رامشخص کنید: A) کدام یک ازشکلهای زیرمرکزتقارن ندارد؟ 1

الف) متوازی الاضلاع ☐ ب) دایره ☐ ج) مستطیل ☐ د) مثلث متساوی الاضلاع ☐

B) مجموع زوایای داخلی یک پنج ضلعی گوژ،کدام است؟

الف) 640° ☐ ب) 360° ☐ ج) 540° ☐ د) 720° ☐

C) کدام دوعددنسبت به هم اول هستند؟

الف) 12 و 15 ☐ ب) 15 و 16 ☐ ج) 25 و 15 ☐ د) 45 و 15 ☐

D) اگربخواهیم سطحی رافقط بایک نوع شکل کاشی کاری کنیم،ازکدام شکل می توان استفاده کرد؟

الف) 5ضلعی منتظم ☐ ب) 6 ضلعی منتظم ☐ ج) 7 ضلعی منتظم ☐ د) 8 ضلعی منتظم ☐

4 برای محور زیر،یک تساوی جمع بنویسید: 0/75

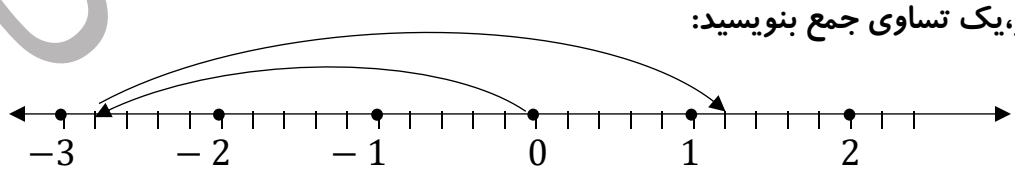

محل امضاءیانظریه اولیاءمحترم: 0/25

بارم	شعبه	نام ونام خانوادگی	به نام خدا 1402 /10/23 آزمون ریاضی کلاس هشتم دبیرستان غیردولتی نواندیشان وقت: 80 دقیقه	ردیف

0/75 1 1/25	حاصل رابانوشتن راه حل کامل بدست آورید: $\frac{-42\times(-72)\times 8}{-64\times(-36)} =$ $7+10+13+\ldots+73 =$ $\frac{-15}{35} \div \frac{24}{14} =$ $\qquad$ $\frac{12}{35} + \frac{-9}{14} =$	5
0/5	حاصل ضرب دوعدداول 91 شده است.آن دوعددرابنویسید:	6
1/5	به روش غربال اعداداول از 51 تا 100 راپیداکنید:(مراحل کارنوشته شود) 51 52 53 54 55 56 57 58 59 60 61 62 63 64 65 66 67 68 69 70 71 72 73 74 75 76 77 78 79 80 81 82 83 84 85 86 87 88 89 90 91 92 93 94 95 96 97 98 99 100	7
1/75	باروش تشخیص تعیین کنیدکه عدد 173 اول است یامرکب؟(باراه حل)	8
1/5	درغربال اعداد 1 تا 100 به سوالات زیرپاسخ دهید: الف) اولین عددی که خط می خورد . . . . . است. ب) آخرین عددی که خط می خورد . . . . . است. ج) عدد 35،بامضربهای عدد . . . . . خط می خورد. د) تمام مضربهای 7 راکه درمرحله حذف مضارب 7 برای اولین بارخط می خورندبنویسید:	9

ردیف	به نام خدا آزمون ریاضی کلاس هشتم دبیرستان غیردولتی نواندیشان وقت: 80 دقیقه	1402 /10/23 نام ونام خانوادگی	شعبه	بارم
10	درمتوازی الاضلاع روبرومقادیر x و y راپیداکنید: 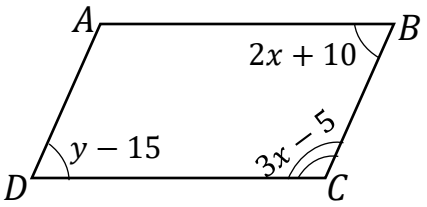 			2
11	مقدار x رابیابید: 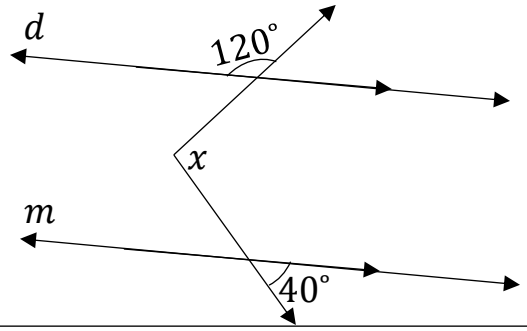 			1
12	جمله n ام الگوی عددی $9, 13, 17, 21, \ldots$ رابنویسید:			0/5
13	الف) حاصل عبارت روبرورابدست آورید: $(2a-3b)^2 =$ ب) عبارت روبروراتجزیه کنید: $12a^2x^3 - 18a^4x =$			1/5 1/5
14	معادله روبروراحل کنید: $\frac{x-1}{2} - \frac{5x}{3} = \frac{7}{6}$			1/5

ردیف	به نام خدا آزمون ریاضی کلاس هشتم دبیرستان غیردولتی نواندیشان وقت: 80 دقیقه	نام ونام خانوادگی	شعبه	بارم
	1402 /10/23			

سوال جایزه

1 مقدارعددی عبارت روبرورابه ازای $x = -\frac{3}{2}$ و $y = 2$ بدست آورید: $\frac{12x^2-4xy}{51xy-17y^2} =$ 0/5

2 اندازه هرزاویه داخلی یک n ضلعی منتظم یازده برابرهرزاویه خارجی آن است. 0/5

باراه حل کامل n رابدست آورید:

3 درنمایش اعشاری کسر $\frac{13}{37}$ اختلاف رقمهای بیستم وپنجاه وهفتم اعشاری رابدست آورید: 0/5

موفق وخندان باشید:حسینی

www.kahanlaw.com

ردیف	به نام خدا 1402 /10/23 آزمون ریاضی کلاس هشتم دبیرستان غیردولتی نواندیشان وقت: 80 دقیقه	نام ونام خانوادگی	شعبه	بارم

نمره آزمون:

1 جملات درست را با ✓ ونادرست را با ✗ مشخص کنید:

الف) هرعددطبیعی حداقل یک شمارنده اول دارد. ✗

ب) صفرعددی گویاست. ✓

ج) مثلث متساوی الساقین سه محورتقارن دارد. ✗

د) دوخط عمودبریک خط باهم موازی اند. ✓

1

2 جای خالی رابه طورصحیح کامل کنید:

الف) تنهامضرب اول هفت،عدد ۷ است.

ب) متوازی الاضلاعی که درآن قطرهابرهم عمودهستند، لوزی است.

ج) ک.م.م دوعددنسبت به هم اول،مساوی حاصل ضرب آن دوعداداست.

د) اندازه هرزاویه داخلی یک هشت ضلعی منتظم، ۱۳۵ درجه است.

1

3 گزینه صحیح رامشخص کنید:

A) کدام یک ازشکلهای زیرمرکزتقارن ندارد؟

الف) متوازی الاضلاع ☐ ب) دایره ☐ ج) مستطیل ☐ د) مثلث متساوی الاضلاع ☒

B) مجموع زوایای داخلی یک پنج ضلعی گوژ،کدام است؟

الف) 640° ☐ ب) 360° ☐ ج) 540° ☒ د) 720° ☐

C) کدام دوعددنسبت به هم اول هستند؟

الف) 12 و 15 ☐ ب) 15 و 16 ☒ ج) 25 و 15 ☐ د) 45 و 15 ☐

D) اگربخواهیم سطحی رافقط بایک نوع شکل کاشی کاری کنیم،ازکدام شکل می توان استفاده کرد؟

الف) 5ضلعی منتظم ☐ ب) 6 ضلعی منتظم ☒ ج) 7 ضلعی منتظم ☐ د) 8 ضلعی منتظم ☐

1

4 برای محور زیر،یک تساوی جمع بنویسید:

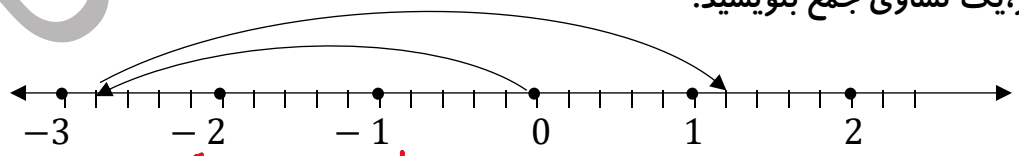

$-2\frac{4}{5}+4=1\frac{1}{5}$

0/75

محل امضاءیانظریه اولیاءمحترم:

0/25

ردیف	به نام خدا آزمون ریاضی کلاس هشتم دبیرستان غیردولتی نواندیشان وقت: 80 دقیقه	1402 /10/23	نام ونام خانوادگی	شعبه	بارم

5 حاصل رابانوشتن راه حل کامل بدست آورید:

0/75

$$\frac{-\cancel{42}^{7}\times(-\cancel{72}^{\cancel{9}\,3})\times\cancel{8}^{1}}{-\cancel{64}_{\cancel{8}\,1}\times(-\cancel{36}_{\cancel{9}\,2})}=+\frac{21}{2}$$

1

$$7+10+13+\ldots+73=\frac{23}{2}(7+73)=\frac{23}{\cancel{2}_{1}}\times\cancel{80}^{40}=920$$

$$\text{تعداد}=\frac{73-7}{3}+1=23$$

1/25

$$\frac{-15}{35}\div\frac{24}{14}=\frac{-\cancel{15}^{\cancel{3}\,1}}{\cancel{35}_{\cancel{7}\,1}}\times\frac{\cancel{14}^{\cancel{2}\,1}}{\cancel{24}_{\cancel{12}\,4}}=-\frac{1}{4}\qquad \frac{12}{35}+\frac{-9}{14}=\frac{24-45}{70}=\frac{-21}{70}=\frac{-3}{10}$$

۷ و ۱۳

6 حاصل ضرب دوعدداول 91 شده است.آن دوعددرابنویسید: 0/5

7 به روش غربال اعداداول از 51 تا 100 راپیداکنید:(مراحل کارنوشته شود) 1/5

~~51~~	~~52~~	53	~~54~~	~~55~~	~~56~~	~~57~~	~~58~~	59	~~60~~
61	~~62~~	~~63~~	~~64~~	~~65~~	~~66~~	67	~~68~~	~~69~~	~~70~~
71	~~72~~	73	~~74~~	~~75~~	~~76~~	~~77~~	~~78~~	79	~~80~~
~~81~~	~~82~~	83	~~84~~	~~85~~	~~86~~	~~87~~	~~88~~	89	~~90~~
~~91~~	~~92~~	~~93~~	~~94~~	~~95~~	~~96~~	97	~~98~~	~~99~~	~~100~~

۱) $2^2=4<100$ مضارب ۲ را خط می زنیم

۲) $3^2=9<100$ 〃 ۳ 〃 〃 〃

۳) $5^2=25<100$ 〃 ۵ 〃 〃 〃

۴) $7^2=49<100$ 〃 ۷ 〃 〃 〃

۵) $11^2=121>100$ اعداد باقی مانده اولند

8 باروش تشخیص تعیین کنیدکه عدد 173 اول است یامرکب؟(باراه حل) 1/75

۱۷۳ | ۲ بخش پذیر نیست

۱۷۳ | ۳ بخش پذیر نیست

۱۷۳ | ۵ بخش پذیر نیست

۱۷۳ | ۷ ، ۲۴ ، ۱۴ ، ۳۳ ، ۲۸ ، ۵

۱۷۳ | ۱۱ ، ۱۵ ، ۱۱ ، ۳ ، ۵۵ ، ۸

۱۷۳ | ۱۳ ، ۱۳ ، ۱۳ ، ۴۳ ، ۳۹ ، ۴

$17^2=289>173$

⇓

۱۷۳ اول است

9 درغربال اعداد 1 تا 100 به سوالات زیرپاسخ دهید: 1/5

الف) اولین عددی که خط می خورد ..یک.. است. ب) آخرین عددی که خط می خورد ..۹۱.. است.

ج) عدد 35،بامضربهای عدد ..۵.. خط می خورد.

د) تمام مضربهای 7 راکه درمرحله حذف مضارب 7 برای اولین بارخط می خورندبنویسید:

۴۹ ، ۷۷ ، ۹۱

بارم	شعبه	نام ونام خانوادگی	به نام خدا 1402 /10/23 آزمون ریاضی کلاس هشتم دبیرستان غیردولتی نواندیشان وقت: 80 دقیقه	ردیف
2	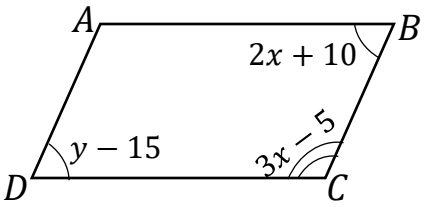		درمتوازی الاضلاع روبرومقادیر x و y راپیداکنید: $2x+10+3x-5=180$ $5x+5=180$ $5x=180-5$ $5x=175$ $x=\frac{175}{5}=35$ $2x+10=2\times35+10=80$ $\Downarrow$ $y-15=80$ $y=80+15$ $y=95$	10
1	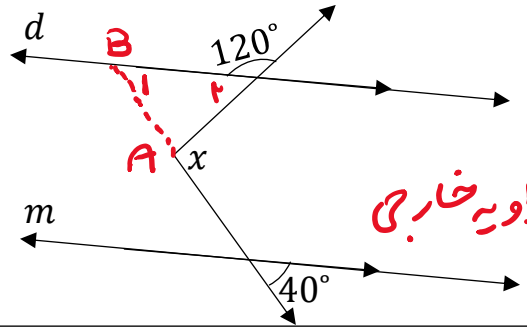		مقدار x رابیابید: $d \parallel m$ و $\overset{\text{مورب}}{AB} \Rightarrow \hat{1}=40^\circ$ $\hat{2}=180^\circ-120^\circ=60^\circ$ زاویه خارجی $\hat{x}=60^\circ+40^\circ=100^\circ$	11
0/5	$4n+5$		جمله n ام الگوی عددی $9, 13, 17, 21, \ldots$ رابنویسید:	12
1/5	$(2a-3b)^2=(2a-3b)(2a-3b)$ $=4a^2-6ab-6ab+9b^2=4a^2-12ab+9b^2$		الف) حاصل عبارت روبرورابدست آورید:	13
1/5	$12a^2x^3-18a^4x=6a^2x(2x^2-3a^2)$		ب) عبارت روبروراتجزیه کنید:	
1/5	$\frac{x-1}{2}-\frac{5x}{3}=\frac{7}{6}$ $\xrightarrow{\times 6}$ $3x-3-10x=7$ $-7x=7+3$ $-7x=10$ $x=-\frac{10}{7}$		معادله روبروراحل کنید:	14

بارم	شعبه	نام ونام خانوادگی	به نام خدا 1402 /10/23 آزمون ریاضی کلاس هشتم دبیرستان غیردولتی نواندیشان وقت: 80 دقیقه	ردیف

سوال جایزه

1 مقدارعددی عبارت روبرورابه ازای $x=-\frac{3}{2}$ و $y=2$ بدست آورید: $\frac{12x^2-4xy}{51xy-17y^2}=\frac{4x\cancel{(3x-y)}}{17y\cancel{(3x-y)}}$ 0/5

$=\frac{4x}{17y}=\frac{\cancel{4}^{1}\times(-\frac{3}{\cancel{2}_{1}})}{17\times\cancel{2}_{1}}=\frac{-3}{17}$

2 اندازه هرزاویه داخلی یک n ضلعی منتظم یازده برابرهرزاویه خارجی آن است. 0/5

باراه حل کامل n رابدست آورید:

$\frac{(n-2)\times180}{n}=11\times\frac{360}{n}\xRightarrow{\times n}(n-2)\times180=11\times360$

$\xRightarrow{\div180} n-2=11\times2 \Rightarrow n=22+2 \Rightarrow n=24$

3 درنمایش اعشاری کسر $\frac{13}{37}$ اختلاف رقمهای بیستم وپنجاه وهفتم اعشاری رابدست آورید: 0/5

$13/0 \div 37 = 0/351 \Rightarrow \frac{13}{37}=0/\overline{351}$

$\begin{array}{r} 130 \\ 111 \\ \hline 190 \\ 185 \\ \hline 50 \\ 37 \\ \hline 13 \end{array}$

$20 \div 3 = 6$, 18, $2 \rightarrow$ رقم بیستم اعشار $=5$

$57 \div 3 = 19$, 3, 27, 27, $0 \rightarrow$ رقم ۵۷ ام اعشار $=1$

$5-1=4 \Leftarrow$



موفق وخندان باشید:حسینی

محمدالسماعیل حسینی