Kanoon.ir

شما با دانلود این نمونه سوال، کد تخفیف خرید کتاب از سایت کانون بوک دریافت می کنید.

برای دریافت کد جایزه خود، عدد 33 را به سر شماره 90008451 ارسال کنید.



تمرین بیشتر نمونه سوالات امتحانی با کتاب های پرتکرار

همین حالا جایزه خود را دریافت کنید.

kanoonBook.ir

www.kanoon.ir

شماره		نمره
	بسمه تعالی اداره کل آموزش و پرورش استان **مازندران** **اداره آموزش و پرورش منطقه بهنمیر** **نام و نام خانوادگی:** **پایه:هشتم** **نام دبیر: عباس زاده** **دبیرستان متوسطه اول غیرانتفاعی پسرانه ساعی** **۱۴۰۴-۱۴۰۵** **نام درس: ریاضی** **تاریخ آزمون: ۱۴۰۴/۰۸/۰۵** **مدت آزمون: ۳۰ دقیقه**	
۱	جای خالی را با عبارت مناسب کامل کنید. چندضلعی که همه ضلع‌ها و زاویه‌ها با هم برابرند ..... نام دارد.	۲
۲	)سه ضلعی منتظم چه نام دارد؟	۲
۳	امشخص کنید در کدامیک از شکل های زیر، نقطه ی داده شده مرکز تقارن است. 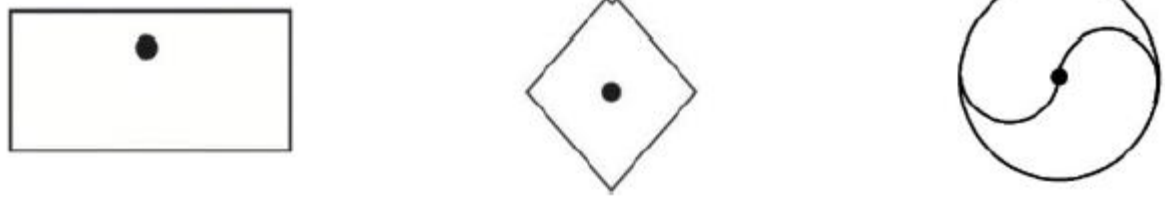 (الف) (ب) (ج)	۲
۴	)شکل مقابل ۶ ضلعی منتظم است. الف) محور تقارن‌های آن را رسم کنید. ب) آیا این شکل مرکز تقارن دارد؟ 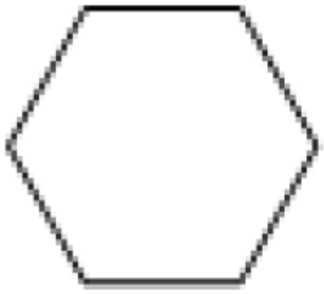	۳
۵	)جای خالی را با عبارت مناسب پر کنید. چند ضلعی منتظم که چهار محور تقارن دارد ..... نام دارد.	۱
۶	اکدام یکی از شکل‌های زیر چند ضلعی می‌باشد؟ 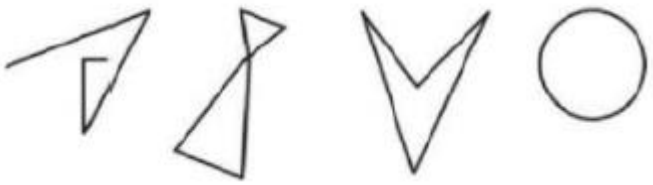	۱