Kanoon.ir

درخت تو گر بار دانش بگیرد

به زیر آوری چرخ نیلوفری را

شما با دانلود این نمونه سوال، کد تخفیف خرید کتاب از سایت کانون بوک دریافت می کنید

برای دریافت کد جایزه خود، عدد 33 را به سر شماره 90008451 ارسال کنید.

kanoonBook.ir

www.kanoon.ir

نام: نام خانوادگی: نام پدر: نام آموزشگاه: اندیشه نو پایه: هشتم	وزارت آموزش و پرورش اداره کل آموزش وپرورش استان سیستان وبلوچستان اداره آموزش و پرورش منطقه چابهار کارشناسی سنجش و ارزشیابی تحصیلی مهر آموزشگاه	نوبت ارزشیابی: مهر ماه تاریخ: ۱۴۰۳/۰۸/۰۱ نام درس: ریاضی نام دبیر: فهیمه راشکی مدت امتحان: تعدادصفحات:۲

ردیف	متن سوالات	بارم
۱	جملات زیر را کامل کنید. کوچکترین عدد منفی یک رقمی برابر .....است. حاصل ضرب هر کسر در معکوسش برابر.....است. به هر عدد که بتوان به صورت $\frac{a}{b}$ نوشت و b≠۰ باشد عدد.....گوییم.	
۲	درستی و نادرستی عبارت های زیر را مشخص کنید. هر عدد گویا یک عدد طبیعی است. حاصل تقسیم هر عدد گویا بر یک برابر خود ان عدد است. حاصل عبارت(۵-)×۱۰- یک عدد منفی میشود.	
۳	با توجه به محور زیر یک جمع بنویسید . ( ) + ( ) = ( ) 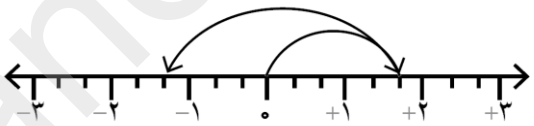	
۴	حاصل عبارت های زیر را بدست اورید. -۱۶÷۲×۳-٤= $\frac{-(+۲۰)}{-(-۴)}$= $-(+(\frac{۴}{۶}))$ -(+۱۲) (+۲) × (-۳ -۵) = ۶ × ۲ ÷ ۳ − (+۵)= −۲ + ۱۲ ÷ ۳= -۲۰÷۴×۲-۷+۹=	
۵	به کمک محور حاصل جمع مقابل را بنویسد. $-\frac{۲}{۳}+\frac{۷}{۳}$	

www-kanoon-ir

۶	حاصل عبارت های زیر را به دست اورید. $-\frac{۱۴}{۳}\times\frac{۲}{۹}=$ $-(\frac{۳}{۴})\div-(\frac{۴}{۶})=$ $\frac{۱۲}{۷}+\left(-\frac{۳}{۱۴}\right)=$ $+\frac{۳}{۴}+\frac{۲}{۴}-\frac{۷}{۴}-\frac{۱}{۴}\times(-\frac{۴}{۵})=$ $-\frac{۴}{۳}+\frac{۳}{۲}=$	
۷	نقاط زیر را روی محور نشان دهید. $+۱\ ,\ ۰\ ,-۲\frac{۲}{۳}\ ,\ -۲,\ \frac{۱}{۴}\ ,\ \frac{۱}{۲}$	
۸	کسر مقابل را از عدد مخلوط به کسر و از کسر به صورت عدد مخلوط بنویسید. $+\frac{۱۳}{۵}$ $-۱\frac{۲}{۴}$	
۹	طرف دیگر تساوی را بنویسید. معکوس $\frac{۳}{۵}$ = قرینه $\frac{۲}{۳}$ = قرینه ی قرینه ی $+۳$	
۱۰	عددهای زیر را از کوچک به بزرگ مرتب کن. $۰,-\frac{۳}{۵},\frac{۱}{۱۰},۲,-\frac{۳}{۵},\ \frac{۳}{۵}$	
	موفق و پیروز باشید	

نمره تصحیح اول	نمره تجدید نظر
نمره به عدد: نمره به حروف: نام ونام خانوادگی مصحح: تاریخ و امضاء:	نمره به عدد: نمره به حروف: نام ونام خانوادگی مصحح: تاریخ وامضاء:

www-kanoon-ir

بسم الله الرحمن الرحیم پاسخنامه آزمون محرم ماه هشتم دبیرستان اندیشه نو دبیر: طیبه راشکی

۱ ۹- ...۱... گویا

۲ غلط درست غلط

---

۳ $(1\frac{2}{3})+(-\frac{9}{3}) = -\frac{4}{3}$

---

۴ $\underbrace{6\times2}_{12}\div\underbrace{3}_{4}-(+5)=-1$ $\underbrace{-16\div2}_{-8}\times\underbrace{3}_{-24}-4=-28$ $(+2)\times(-3-5)=2\times-8=-16$

$\frac{-(+20)}{-(-4)}=-5$ $-2+\overbrace{12\div3}^{4}=2$ $-(+\frac{4}{6})=-\frac{4}{6}$ $\overbrace{-20\div4}^{-5}\times\overbrace{2}^{-10}-7+9=-8$ $-(+12)=-12$

---

۵ -



$-\frac{14}{3}\times\frac{2}{9}=\frac{-28}{27}$ $-(\frac{3}{4})\div-(\frac{4}{6})=+\frac{3}{4}\times\frac{6}{4}=\frac{18}{16}=\frac{9}{8}$ $\frac{12}{7}+(-\frac{3}{14})=\frac{24}{14}-\frac{3}{14}=\frac{21}{14}=\frac{3}{2}$

$\frac{3}{4}+\frac{2}{4}-\frac{7}{4}-\underbrace{\frac{1}{4}\times(-\frac{4}{5})}_{+\frac{1}{5}}=-\frac{2}{4}+\frac{1}{5}=\frac{-10+4}{20}=\frac{6}{20}=\frac{3}{10}$ $-\frac{4}{3}+\frac{3}{2}=\frac{-8+9}{6}=\frac{1}{6}$

۷

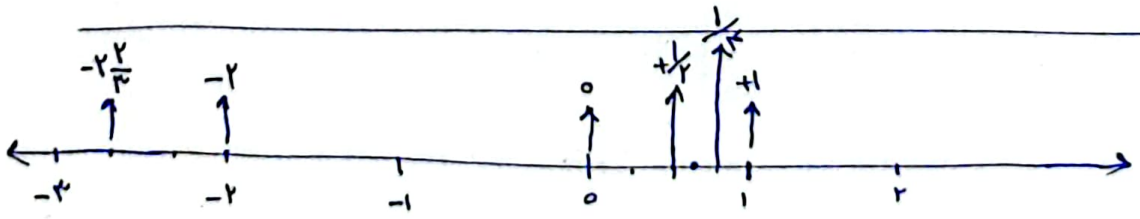

---

۸ $-(\frac{2}{4})^{+}=\frac{-6}{4}=\frac{-6}{4}$ $+\frac{13}{5}=2\frac{3}{5}$

---

۹ $\frac{5}{3}$ $-\frac{2}{3}$ $+3$

---

۱۰ 2 و $\frac{3}{5}$ و $\frac{1}{10}$ و 0 و $-\frac{3}{5}$