Kanoon.ir

شما با دانلود این نمونه سوال، کد تخفیف خرید کتاب از سایت کانون بوک دریافت می کنید.

برای دریافت کد جایزه خود، عدد 33 را به سر شماره 90008451 ارسال کنید.



تمرین بیشتر نمونه سوالات امتحانی با کتاب های پرتکرار

همین حالا جایزه خود را دریافت کنید.

kanoonBook.ir

www.kanoon.ir

وزارت آموزش و پرورش
اداره کل آموزش و پرورش استان اردبیل
مدیریت آموزش و پرورش ناحیه یک
معاونت آموزش ابتدایی

فعالیت یادگیری
مهر ماه ۱۴۰۴

نام و نام خانوادگی
پایه : سوم ابتدائی

ریاضی

الف) جمله های درست یا نادرست را با علامت ✓ مشخص کنید.

	درست	نادرست
۱ – خط تقارن ، شکل ها را به قسمت های مساوی تقسیم می کند..	✓	
۲ – سه شنبه اوّلین روز از ماه است.دومین سه شنبه هشتم ماه است.	✓	
۳ – در الگوی سه تا سه تا، عدد قبل از ۲۱ ، عدد ۱۸ است .		✓
۴ – در الگوی (۳۵ ، ۲۵ ، ۱۵ ، ۵) عدد ها ۱۰ تا ۱۰ تا اضافه شده اند.	✓	

ب) هر یک از زمان های ستون سمت راست را به موارد مربوطه وصل کنید.

ده	۱۹:۳۰
چهار و بیست دقیقه	۲۲:۰۰
هفت و نیم	۱۳:۱۵
یک و ربع	۱۶:۲۰

ج) پاسخ درست را با علامت ✓ مشخص کنید.

۱- در جای خالی چه عددی قرار می گیرد؟ ۸۰۰ ، ۶۰۰ ، ۴۰۰ ، ۲۰۰
الف) ۱۰۰۰ ب) ۳۰۰ ج) ۵۰۰ د) ۸۰۰

۲- در یک ساختمان در هر طبقه دو واحد وجود دارد ، ۳ طبقه ی آن چند واحد دارد؟
الف) ۲ ب) ۴ ج) ۶ د) ۸

۳ – در الگوی روبه رو عددها چند تا چند تا اضافه شده اند؟ ۳۰ ، ۲۴ ، ۱۸ ، ۱۲
الف) ۷ تا ۷ تا ب) ۵ تا ۵ تا ج) ۶ تا ۶ تا د) ۴ تا ۴ تا

۴- کدام یک از شکل های زیر خط تقارن ندارد؟
الف)  ب)  ج)  د) 

د) جاهای خالی را با اعداد مناسب پر کنید.

۱- برای درست کردن مکعب، باید ۶ ..... مربع کنار هم قرارگیرند .
۲- در الگوی ۵ تا ۵ تا سومین عدد ۱۵ ..... است.
۳- ساعت ۱۵ همان ۳ ..... بعد از ظهر است .

www.kanoon.ir

Scanned with CamScanner

فعالیت یادگیری

مهر ماه ۱۴۰۴

وزارت آموزش و پرورش
اداره کل آموزش و پرورش استان اردبیل
مدیریت آموزش و پرورش ناحیه یک
معاونت آموزش ابتدایی

نام و نام خانوادگی :

پایه : سوم ابتدائی

۵) به پرسش های زیر پاسخ دهید.

۱ – مغازه داری یک بسته کیک را ۳۰۰ ریال می خرد و ۳۵۰ ریال می فروشد . با کشیدن جدول نشان دهید که :

کیک	۱	۲	۳	۴	۵	۶
سود کیک	۵۰	۱۰۰	۱۵۰	۲۰۰	۲۵۰	۳۰۰

الف) با سود چند کیک ، می تواند یک بسته کیک بخرد؟

ب) با فروش ۴ کیک ، چند ریال سود می کند ؟

۲– حاصل جمع های زیر را به طور ذهنی به دست آورید.

۲+۶+۷+۴ = ۱۹

۱+۷+ ۶+۳ = ۱۷

۱+۹ + ۲ + ۸ = ۲۰

۳– برای دسته بندی شکل های زیر ، دو عبارت جمع بنویسید.

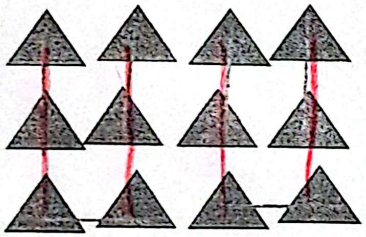

۲+۲+۲+۲+۲+۲ = ۱۲

۳+۳+۳+۳ =



۳+۳+۳+۳ = ۱۲

۴+۴+۴ = ۱۲

۴– جاهای خالی را با عدد مناسب کامل کنید.

۲۵		۱۳		۲۸
۲۵	+	۲۰	=	۴۵
۳۴		۴		۳۸

۵–شکل را به دو روش دسته بندی کنید و حاصل جمع را بنویسید .

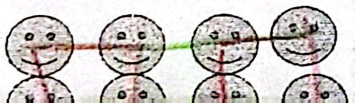

Scanned with CamScanner