Kanoon.ir

شما با دانلود این نمونه سوال، کد تخفیف خرید کتاب از سایت کانون بوک دریافت می کنید.

برای دریافت کد جایزه خود، عدد 33 را به سر شماره 90008451 ارسال کنید.



تمرین بیشتر نمونه سوالات امتحانی با کتاب های پرتکرار

همین حالا جایزه خود را دریافت کنید.

kanoonBook.ir

www.kanoon.ir

نام و نام خانوادگی: رزا علایی

پایه : سوم

وزارت آموزش و پرورش

اداره کل آموزش و پرورش استان اردبیل

معاونت آموزش ابتدایی

اداره تکنولوژی، گروه‌های آموزشی و بررسی محتوا

فعالیت یادگیری

مهرماه ۱۴۰۴

ریاضی

۱- دانش آموز فعالم، الگوی زیر را ادامه بده. توضیح بده چه رابطه ای در این الگو وجود دارد.



۲- دانش آموز زرنگم، علی هرعدد بیسکویت را ۵۵۰ ریال می خرد و ۶۰۰ ریال می فروشد. با توجه به اطلاعات داده شده جدول زیر را کامل کرده و سپس به سوالات پاسخ بده.



تعداد بیسکویت ها	۱	۲	۳	۴	۵
سودبیسکویت ها	۵۰	۱۰۰	۱۵۰	۲۰۰	۲۵۰

الف) اگر علی ۳ عدد بیسکویت بفروشد چقدر سود می کند؟ ۱۵۰ ریال

ب) چند عدد بیسکویت باید بفروشد تا ۲۵۰ ریال سود کند؟ ۵ بیسکویت

۳ - دانش آموز پر توانم، با توجه به کاری که هر ماشین انجام می دهد، در جاهای خالی اعداد مناسب بنویس.

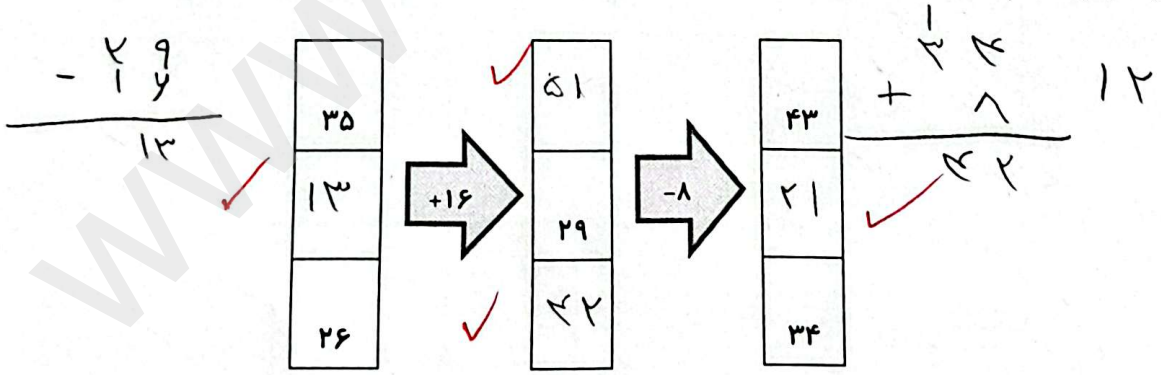







Scanned with CamScanner

نام و نام خانوادگی: رزا یلایی

پایه : سوم

وزارت آموزش و پرورش

اداره کل آموزش و پرورش استان اردبیل

معاونت آموزش ابتدایی

اداره تکنولوژی، گروه‌های آموزشی و بررسی محتوا

فعالیت یادگیری

مهرماه ۱۴۰۴

ریاضی

۴- دانش آموز باهوشم، اگرعلی ساعت ۴ و نیم بعد از ظهر به باشگاه برود. زمان باشگاه رفتن علی چه ساعتی است؟ ۱۶:۳۰

۵- دانش آموز خلاقم، با استفاده از خط کش، خط تقارن شکل زیر را بکش و سپس باسلیقه ی خودت به طورمتقارن رنگ بزن.

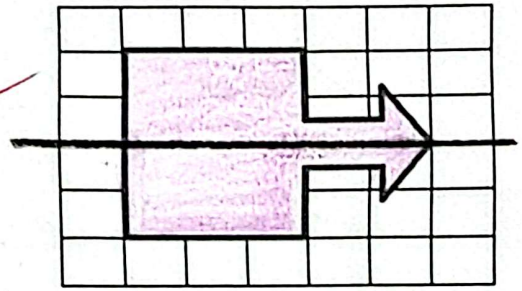

- حالا در صفحه شطرنجی پایین، به اختیار خودت شکلی بکش که تقارن داشته باشد و سپس تعداد مربع های کوچک را در شکل بشمارو بنویس.

- توضیح بده که چگونه به کمک خط تقارن می توان تعداد مربع های شکل را سریع تر پیدا کرد. هر طرف خط تقارن را می شماریم و آن ها را جمع می کنیم.

Scanned with CamScanner