Kanoon.ir

درخت تو گر بار دانش بگیرد

به زیر آوری چرخ نیلوفری را

شما با دانلود این نمونه سوال، کد تخفیف خرید کتاب از سایت کانون بوک دریافت می کنید

برای دریافت کد جایزه خود، عدد 33 را به سر شماره 90008451 ارسال کنید.

kanoonBook.ir

www.kanoon.ir

اداره کل آموزش و پرورش استان: تهران آموزش و پرورش شهرستان: تهران آموزشگاه: شهید عباس آذری ۱	نام: نام خانوادگی: نام پدر: نمره به عدد: با حرف: نام و نام خانوادگی دبیر: امضاء:

امتحانات داخلی دوره اول متوسطه — نوبت دوم — سال تحصیلی ۱۴۰۳-۱۴۰۲
پایه: هشتم — رشته: متوسطه اول — نام درس: مطالعات اجتماعی
تعداد سوال: — تعداد صفحه: ۲ — تاریخ: ۱۴۰۳/۰۱/۳۰ — زمان آزمون: ۶۰ دقیقه

ردیف	# دانش آموزان عزیز با توکل بر خدا و آرامش خاطر به سوالات زیر پاسخ دهید. #	بارم
فصل اول تا ششم	۱- ازطریق بخشش مال،علم و توانایی و وقت خود به کسانی که نیازمندند،یاری می رسانند. به این بخشش انفاق می گویند. صحیح ☐ غلط ☐	۰/۲۵ ۰/۲۵
	۲- هدف شرکت های تعاونی معمولا ..... و ایجاد رفاه و زندگی بهتر برای اعضای آن است.	۰/۲۵
	۳- وزیران توسط ..... معرفی می شوند و توسط ..... رأی اعتماد می گیرند و به عنوان وزیر کار خود را شروع می کنند.	۰/۵
	۴- یکی از مهم ترین وظایف قوه قضاییه ..... است.	۰/۲۵
	۵- عناصر ارتباط را نام ببرید.	۰/۷۵
	۶- دو مورد از ویژگی ها و دستاوردهای حکومت امام علی (ع) را نام ببرید.	۰/۵
	۷- کدام سلسله های ایرانی نقش چشم گیری در رونق وشکوفایی فرهنگ وتمدن ایرانی اسلامی داشتند و فرمانروایان آنها به علم و ادب علاقمند بودند. واحترام زیادی برای عالمان و ادیبان خود قائل بودند؟	۰/۵
فصل هفتم	۱- جاهای خالی را کامل کنید. لشکرکشی به هندوستان و تخریب معبد سومنات..... شکست رومیان در نبرد ملازگرد..... براندازی حکومت شیعه مذهب آل بویه ..... حکومت سلجوقیان را به اوج قدرت رساند.....	۱
	۲- یکی از وظایف مهم وزیران، تنظیم رابطه سلطان با خلیفه و دیگر فرمانروایان بود. صحیح ☐ غلط ☐	۰/۲۵
	۳- درابتدای دوره ی ..... نامه ها و فرمان های حکومتی و دفترهای دیوانی از عربی به فارسی تغییرکرد.	۰/۲۵
	۴- چرا پایه های حکومت خوارزمشاهیان چندان محکم نبود. (دومورد)	۰/۵
فصل هشتم	۱- حکومت تیموریان سرانجام باظهورحکومت صفاریان از میان رفت؟ صحیح ☐ غلط ☐	۰/۲۵
	۲- برجسته ترین دانشمند مسلمان ایرانی که رصدخانه مراغه را تأسیس کرد چه کسی بود؟ الف) خواجه نصیرالدین طوسی ☐ ب) خواجه نظام الملک طوسی ☐ ج) خواجه رشیدالدین فضل الله ☐ د) عطاالملک جوینی ☐	۰/۲۵
	۳- بنای ربع رشیدی توسط ..... و در شهر..... بناشد. الف) خواجه رشیدالدین- اصفهان ☐ ب) خواجه رشیدالدین- تبریز ☐ ج) خواجه نصیرالدین- اصفهان ☐ د) خواجه نصیرالدین- تبریز ☐	۰/۵
	۴- اقدامات غازان خان را بنویسید.(چهارمورد)	۱

کلاس هشتم | به نام خدا | تاریخ :

نام و نام خانوادگی : | دبیرستان ..... | امتحان ترم دوم علوم هشتم | زمان : ۷۵ دقیقه

توجه : لطفا ابتدا سؤال ها را با دقت خوانده سپس با خود کار آبی پاسخ دهید »

« صفحه سوم »

س) جای خالی را با کلمات مناسب کامل کنید :(۰/۵ نمره)

۱- به دندریت ها و آکسون ها ی بلند ..... گویند . (نورون - تار عصبی)

۲- برنج طلایی دارای ماده ای است که در بدن به ویتامین ..... تبدیل می شود .(A - B)

ش) پاسخ درست را مشخص کنید : (۱/۵ نمره)

۱) حفظ تعادل بدن در حالت های مختلف بر عهده کدام بخش از مغز است ؟

۱- مخ ☐ ۲-مخچه ☐ ۳- بصل النخاع ☐ ۴- نخاع ☐

۲)کدامیک از جانداران زیر به روش جوانه زدن تولید مثل می کند ؟

۱- قارچ ☐ ۲- خزه ☐ ۳- باکتری ☐ ۴- مخمر ☐

۳) در کدامیک از سنگ های زیر ممکن است فسیل وجود داشته باشد ؟

۱- سنگ آهک☐ ۲- بازالت ☐ ۳- گرانیت ☐ ۴- مرمر ☐

ص) پاسخ کامل دهید :

۱-دو کانی ملی نام ببرید . (۰/۵ نمره)

۲-تقسیم میوز چیست ؟ (۰/۵ نمره)

۳-قسمت های خواسته شده در شکل را نام گذاری کنید . (۱ نمره)

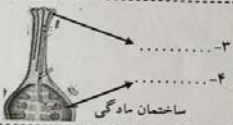



ض - جدول زیر را کامل کنید : (۱ نمره)

نوع سنگ	نحوه تشکیل
آذرین	.....
دگرگونی	.....

۷ - کار هورمون گلوکاگون در بدن بنویسید ؟ (۰/۵ نمره)

۸- ماه گرفتگی را با رسم شکل نشان دهید . (۰/۵ نمره)

« خداوند از ما نمی خواهد کارهای بزرگ انجام دهیم ، بلکه می خواهد کارهای کوچک را با عشقی بزرگ انجام دهیم »

« خدا را فراموش مکن »

« موفق باشید »

« صفحه دوم »

ب)

الف)

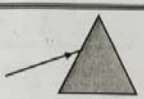



ج) ۱- شکل های روبرو مربوط به چه وسیله ای است ؟

۲- امتداد پرتوهای نور لیزرتابیده شده به وسیله را رسم کنید . (۱ نمره).

خ) در شکل زیر کره A پس از جدا شدن از کره B چه نوع بار الکتریکی پیدا می کند ؟ چرا ؟ (۰/۵ نمره)

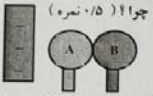

د) در مورد عنصر $_{9}^{19}F$ به سوالات پاسخ دهید :(۰/۵ نمره)

۱- نام عنصر : ۲- تعداد نوترون

ذ) سه روش برای ساختن آهن ربا نام ببرید (۰/۷۵ نمره)







ر) با توجه به شکل مشخص کنید کدام محیط « شیشه » و کدامیک « آب » می باشد ؟ چرا ؟ (۰/۷۵ نمره)



۱- .....

۲- .....

ز) برای کانی های زیر یک نمونه بنویسید . (۰/۷۵ نمره)

۱- کانی خوراکی : ۲- کانی نامهربان : ۳- کانی ملی :

ژ) مسائل زیر را حل کنید : « در حل مسائل نوشتن فرمول و یکا ضروری است و نمره دارد »

با توجه به شکل محاسبه کنید « آمپر سنج » چه عددی را نشان می دهد ؟(۰/۷۵ نمره)

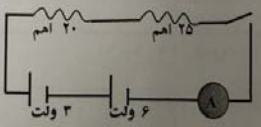

« داشتن احساس مسئولیت نعمتی است برای خود و جامعه»

« بقیه سوالات در صفحه سوم »

کلاس :
نام و نام خانوادگی :

به نام خدا
دبیرستان .....
امتحان ترم دوم علوم هشتم

تاریخ :
زمان : ۷۵ دقیقه

« توجه : لطفا ابتدا سؤال ها را با دقت خوانده سپس با خودکار آبی پاسخ دهید »

« صفحه اول »

الف) جای خالی را با کلمات مناسب کامل کنید : (۰/۷۵ نمره)

۱- در موتور الکتریکی ، انرژی الکتریکی تبدیل به انرژی ..... می شود .(شیمیایی - مکانیکی)

۲- تبدیل سنگهای کره زمین در اثر هوازدگی ، انجماد مواد مذاب ودگرگونی به یکدیگر را گویند.(چرخه سنگ- فرسایش)

۳- سنگ ..... در کنار چشمه های آهکی دیده می شود . (گرانیت - تراورتن)

ب) پاسخ درست را مشخص کنید : (۰/۷۵ نمره)

۱- کدامیک از مواد زیر مخلوط همگن (محلول) می باشد ؟

۱-خاک ☐ ۲- آلیاژ ☐ ۳- شیر ☐ ۴- آلیاژ طبیعی ☐

۲- کدام یک از مواد زیر در سلول های استخوانی وجود دارد ؟

۱-کلسیم ☐ ۲- فسفر ☐ ۳- پروتئین ☐ ۴- هر سه مورد ☐

۳- حسین در فاصله ۵۰ سانتی متری از آینه تخت قرار دارد ، فاصله حسین تا تصویرش در آینه چند متر است ؟

۱- ۵۰ ☐ ۲- ۱ ☐ ۳- ۰/۵ ☐ ۴- ۰/۲۵ ☐

پ) پاسخ کوتاه دهید : (۰/۵ نمره)

۱- موادی که سرعت واکنش شیمیایی را زیاد کرده اما خود دچار تغییر شیمیایی نمی شود را چه می نامند ؟

۲- چه عاملی میزان انحلال پذیری اکسیژن در آب را افزایش می دهد ؟

ت) با توجه به شکل جدول زیر را کامل کنید : (۰/۵ نمره)

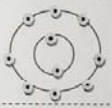

نام ذره	نماد شیمیایی	تعداد پروتون	بار ذره	تعداد الکترون
سدیم	Na	۱۱	۱-.....	۲-.....

ث) معادله نوشتاری زیر را کامل کنید . (۰/۵ نمره)

گرما و نور + ... + ... $\xrightarrow{\text{گرما}}$ اکسیژن + هیدرو کربن (نفت)

ج) راه های شناسایی کانی ها را فقط نام ببرید ؟ (۲ مورد) (۰/۵ نمره)

چ) با توجه به شکل زاویه بازتاب چند درجه است ؟ چرا ؟ (۰/۵ نمره)



« با یاد خدا دل ها آرام می گیرد »

« تکرار معجزه میکند »

« بقیه سؤالات در صفحه دوم »