Kanoon.ir

درخت تو گر بار دانش بگیرد

به زیر آوری چرخ نیلوفری را

شما با دانلود این نمونه سوال، کد تخفیف خرید کتاب از سایت کانون بوک دریافت می کنید

برای دریافت کد جایزه خود، عدد 33 را به سر شماره 90008451 ارسال کنید.

kanoonBook.ir

www.kanoon.ir

نام و نام خانوادگی:	سازمان آموزش وپرورش استان هرمزگان	
شعبه کلاس:	**مدیریت آموزش وپرورش قشم**	**تاریخ: ۱۴۰۴/۲/۲۲**
امتحان علوم هشتم	**دبیرستان دوره اول حضرت خدیجه(س)**	**وقت: ۸۰دقیقه**

نمره عملی..... نمره ی کتبی..... نمره ی نهایی.....

	آرامش و آسودگی خاطر سهم همیشگی دل های پاک شما عزیزان.....	**بارم**
جا خالی	**الف)جاهای خالی را با کلمات مناسب پر کنید.** **۱. به فاصله ی کانون تا اینه .....(فاصله ی کانونی – فاصله ی شکست)می گویند.** **۲. مرکز بینایی در قسمت.....(گیجگاهی _ پس سری)قشر مخ قرار دارد.** **۳. بخشی از دِنا و همان عامل تعیین کنندهٔ صفات..... (ژن _ محیط) است.** **۴. به اجسامی که نور تولید می کنند.....(شفاف – منیر) می گویند.**	**/۲۵** **/۲۵** **/۲۵** **/۲۵**
صحیح وغلط	**ب) جملات صحیح را با (ص) وجملات غلط را با (غ) مشخص کنید وجمله های غلط را تصحیح کنید.(از منفی کردن فعل خودداری کنید.)** **۱. سنگ های هالیت و تراورتن از سنگ های دگرگونی هستند.( )** **۲. تقسیم میوز برای رشد و ترمیم بدن انجام می شود. ( )** **۳. ماده ای با PH=2یک باز قوی است.( )** **۴. دریک مخلوط خاصیت اجزای آن تغییر نمیکند. ( )**	**/۵** **/۵** **/۵** **/۲۵**
تستی	**ج) پاسخ صحیح را با علامت ضربدر مشخص کنید.** **۱. از کدام آینه های زیر برای ساختن آینه های بغل ماشین مورد استفاده قرار می گیرد؟** **الف) آینه ی تخت ☐ ب) آینه ی کوژ ☐ ج) آینه ی کاو ☐** **۲. از کدام وسیله برای شناسایی باردار بودن اجسام استفاده می شود؟** **الف) میکروسکوپ☐ ب) تلسکوپ ☐ ج) الکتروسکوپ ☐ د) پیروسکوپ ☐** **۳. دستگاه اندازه گیری شدت جریان الکتریکی چیست؟** **الف)ولت سنج ☐ ب) آمپرسنج ☐ ج) اهم متر ☐ د)دماسنج ☐** **۴. کدام کانی حاصل تبخیر محلول فراسیرشده است؟** **الف) کوارتز ☐ ب) مسکوویت ☐ ج) ژیپس ☐ د)فلوریت ☐**	**/۲۵** **/۲۵** **/۲۵** **/۲۵**
کوتاه پاسخ	**د)به سوالات زیر پاسخ کوتاه دهید.** **۱.مثلث آتش را نام ببرید.۱.....۲.....۳.....** **۲.دو عامل هوازدگی فیزیکی را بنویسید.۱.....۲.....** **۳.دو کاربرد سنگ ها را نام برید..۱.....۲.....** **۴.روش جداسازی مخلوط های روبرو را بنویس: ۱. چربی از شیر..... ۲. آب و ماسه .....** **۵.هورمونی که باعث کاهش قند خون می شود چیست؟.....واز کدام غده ترشح می شود؟.....** **۶.به موادی که باعث افزایش سرعت تغییرات شیمیایی می شوند چه می گویند؟.....**	**/۷۵** **۱** **/۵** **/۵** **/۵** **/۲۵**

www-kanoon-ir

تشریحی

ه)به سوالات زیر پاسخ بلند دهید: ./۷۵

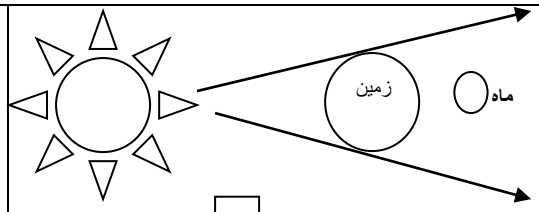

۱.نام پدیده ی روبرو چیست؟.....چه زمانی اتفاق می افتد؟

۲.با توجه به شکل روبرو پاسخ دهید:

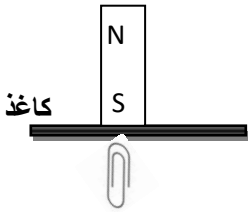

الف)شکل روبرو کدام روش ساخت آهن ربا را نشان می دهد؟.....

ب)قطب های Nو Sگیره ی کاغذ را نشان دهید. ۱/۲۵

ج)دو روش دیگر ساخت آهن ربا چیست؟ ۱

۳.در یک مدار مقدار شدت جریان الکتریکی ۲۰آمپر و اختلاف پتانسیل ۱۲۰ولت است ، مقاومت الکتریکی در این مدار چند اهم است؟(نوشتن فرمول و راه حل الزامی است)

۴.نوع سنگ های روبرو را مشخص کن (آذرین - رسوبی - دگرگونی) ۱

ماسه سنگ(.....) گابرو(.....) مرمر(.....) ریولیت(.....)

۵.با توجه به شکل روبرو به سوالات زیر پاسخ دهید: ۱

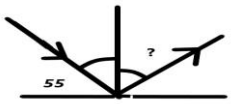

الف)نام زاویه ی خواسته شده را بنویسید.....

ب)اندازه ی زاویه ی خواسته شده را بنویسید.....

ج)قانون بازتاب نور را توضیح دهید..... ./۷۵

۶.قسمت های مختلف گل را بنویسید.

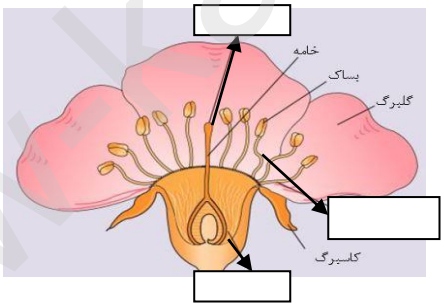

۷. با توجه به شکل مقابل پاسخ دهید: ۱.۲۵

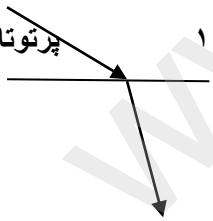

الف)شکل مقابل کدام پدیده را نشان می دهد؟.....این پدیده را تعریف کنید.

ب)محیط های غلیظ ورقیق را مشخص کنید.

۸. روش های باردار کردن اجسام را بنویسید.(سه مورد) ./۷۵



موفقیت وشادی همواره همراهتان

اسلامی

۱۵

www.kanoon.ir