Kanoon.ir

شما با دانلود این نمونه سوال، کد تخفیف خرید کتاب از سایت کانون بوک دریافت می کنید.

برای دریافت کد جایزه خود، عدد 33 را به سر شماره 90008451 ارسال کنید.



تمرین بیشتر نمونه سوالات امتحانی با کتاب های پرتکرار

همین حالا جایزه خود را دریافت کنید.

kanoonBook.ir

www.kanoon.ir

باسمه تعالی

نام و نام خانوادگی:	اداره کل آموزش و پرورش استان اصفهان مدیریت آموزش و پرورش خمینی شهر دبیرستان دوره اول متوسطه نورا	نام درس: علوم تجربی
نام پدر: نام کلاس:		پایه: هشتم — ساعت امتحان: ۰۸:۰۰
خرداد ماه سال تحصیلی ۱۴۰۴-۱۴۰۳		تاریخ امتحان: ۱۴۰۴/۰۳/۰۴ — مدت امتحان: ۷۰ دقیقه
نمره کتبی: — نمره شفاهی- عملی:	جمع نمره با حروف:	نام و نام خانوادگی و امضای مصحح:

ردیف	سوالات در ۴ صفحه	نمره

۱

جاهای خالی را با عبارت مناسب پر کنید.

الف) موادی که PH آن ها بیشتر از هفت است، خاصیت ..... دارند . (بازی-اسیدی)

ب) به مجموع تعداد پروتون ها و نوترون ها ..... می گویند. (عدد جرمی - عدد اتمی)

ج) حفظ تعادل بدن مربوط به بخش ..... دستگاه عصبی است. (مخ - مخچه)

د) تصویر در آینه تخت، تصویر ..... است. (حقیقی - مجازی)

نمره: ۱

۲

گزینه صحیح را علامت بزنید.

۱.برای جداسازی چربی از شیر از چه دستگاهی استفاده می کنند؟

الف) کمباین ب) تقطیر ج) گریزانه د) قیف جداکننده

۲. نوک مداد از چه نوع کانی است؟

الف) گرافیت ب) آزبست ج)تالک د) هالیت

۳. در شکل مقابل زاویه بازتاب چند درجه است؟

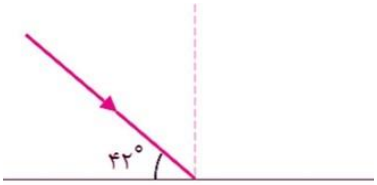

الف) ۹۰ درجه ب)۴۲ درجه ج)۴۸ درجه د) ۱۳۸ درجه

٤. کدام یک از اندام های زیردر گیاه به میوه تبدیل میشود؟

الف) کلاله ب) تخمدان ج) تخمزا ج) تخمک

نمره: ۱

۳

درستی یا نادرستی جملات زیر را مشخص کنید.

الف) ولت سنج را به شکل متوالی در مدار قرار می دهیم .	**درست**	**نادرست**
ب) محل اتصال استخوان ها به یکدیگر را مفصل می گویند.	**درست**	**نادرست**
ج) در ماه گرفتگی(خسوف)، ماه بین زمین و خورشید است و هرسه در یک راستا قرار دارند.	**درست**	**نادرست**
د) تقسیم میوز سبب رشد و ترمیم بافت های آسیب دیده بدن می شود.	**درست**	**نادرست**

نمره: ۱

۴

به سوالات زیر پاسخ کوتاه دهید:

الف) بخشی از مولکول DNA (دنا) که عامل ایجاد صفات است؟

ب) به دارینه ها (دندریت) یا آسه های (آکسون) بلند چه می گویند؟

ج) در پاشندگی نور سفید توسط منشور کدام رنگ بیشترین شکست را دارد؟

د) به اتم های یک عنصر که تعداد پروتون های یکسان اما تعداد نوترون های متفاوت دارند چه می گویند؟

نمره: ۱/۵

www-kanoon.ir

نام و نام خانوادگی:	اداره کل آموزش و پرورش استان اصفهان مدیریت آموزش و پرورش خمینی شهر. دبیرستان دوره اول متوسطه نورا	نام درس: علوم تجربی
نام پدر: نام کلاس:		پایه:هشتم ساعت امتحان:۰۸:۰۰
دی ماه سال تحصیلی ۱۴۰۴-۱۴۰۳		تاریخ امتحان:۱۴۰۴/۰۳/۰۴ مدت امتحان:۷۰دقیقه

ردیف	سوالات در ۴ صفحه	نمره
	ه) در جرثقیل های مغناطیسی، معمولا از چه آهنربایی استفاده می شود؟ ی) قطب N آهنربا چه جهت جغرافیایی را نشان می دهد؟	
۵	هر یک از کارهای زیر مربوط به فعالیت کدام غده است؟ الف) ترشح هورمون رشد (.....) ب) افزایش یون کلسیم در خون (.....)	۰/۵
۶	اگر دو سر یک لامپ کوچک را به باتری با اختلاف پتانسیل ۱۵ ولتی وصل کنیم که مقاومت آن ۳ اهم است، اندازه جریانی که از آن عبور می کند چقدر هست؟(نوشتن فرمول و واحد الزامی است)	۱
۷	با توجه به کلمات زیر ، کلمه مناسب هر قسمت را بنویسید.(دو کلمه اضافی است) مسکوویت | آویسنیت | آزبست | ژیپس | فلوئوریت | کانی تالک الف) یک کانی ملی است. ب) در تهیه طلق نسوز به کار می رود. ج) در تهیه خمیردندان به کار می رود. د) نشان دهنده آب و هوای گرم و خشک در زمان تشکیل آن است.	۱
۸	الف) قرار گرفتن یک میخ آهنی در محلول کات کبود یک تغییر شیمیایی است یا فیزیکی؟ ب) یکی از نشانه های این تغییر را بنویسید.	۰/۵
۹	هر تصویر مربوط به کدام روش ساخت آهنربا است؟  ..... 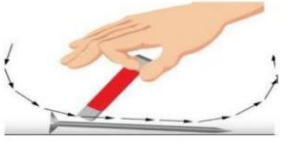 ..... 	۰/۷۵
۱۰	نقش باتری در مدار چیست؟	۰/۲۵

www-kamoon-ir

نام و نام خانوادگی:		اداره کل آموزش و پرورش استان اصفهان مدیریت آموزش و پرورش خمینی شهر. دبیرستان دوره اول متوسطه نورا	نام درس: علوم تجربی	
نام پدر:	نام کلاس:		پایه:هشتم	ساعت امتحان:۰۸:۰۰
دی ماه سال تحصیلی ۱۴۰۴-۱۴۰۳			تاریخ امتحان:۱۴۰۴/۰۳/۰۴	مدت امتحان:۷۰دقیقه

ردیف	سوالات در ۴ صفحه	نمره

۱۱ جدول زیر را کامل کنید. — نمره: ۱

سنگ آذرین	محل تشکیل	اندازه بلور
بازالت		
گرانیت		

۱۲ دو مورد از ویژگی سنگ های رسوبی را بنویسید. — نمره: ۰/۵

۱۳ چرا وقتی با پارچه خشک و تمیز پرزداری صفحه تلویزیون را تمیز می کنید، پرزهای پارچه به صفحه تلویزیون می چسبد؟ — نمره: ۰/۵

۱۴ — نمره: ۱/۲۵

الف) عوامل موثر در هواردگی فیزیکی را نام ببرید.۳مورد



ب)کدام یک از این سنگ هارا یخچال حمل کرده است ؟ چرا ؟

۱۵ نوع تولیدمثل هر یک از جانداران زیر را مشخص کنید. — نمره: ۰/۵

الف) مخمر: (.....)

ب) کپک نان : (.....)

۱۶ — نمره: ۱/۲۵

الف) شکل روبرو چه نوع آینه ای را نشان می دهد؟

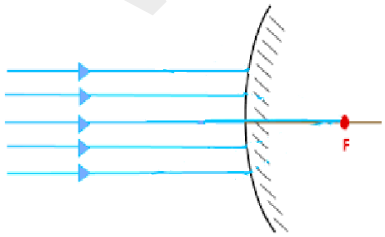

ب)پرتوهای بازتاب آن را رسم کنید.

ج) یک مورد از کاربرد های این آینه را بنویسید.

د)دو مورد از ویژگی های تصویر در این آینه را بیان کنید.

۱۷ بازتاب نامنظم چیست؟ آن را رسم کنید. — نمره: ۰/۵

www.kanoon.ir

نام و نام خانوادگی:		اداره کل آموزش و پرورش استان اصفهان مدیریت آموزش و پرورش خمینی شهر. دبیرستان دوره اول متوسطه نورا	نام درس: علوم تجربی	
نام پدر:	نام کلاس:		پایه:هشتم	ساعت امتحان:۰۸:۰۰
دی ماه سال تحصیلی ۱۴۰۴-۱۴۰۳			تاریخ امتحان:۱۴۰۴/۰۳/۰۴	مدت امتحان:۷۰دقیقه

ردیف	سوالات در ۴ صفحه	نمره
۱۸	الف) ادامه پرتوهای زیر را رسم کنید. 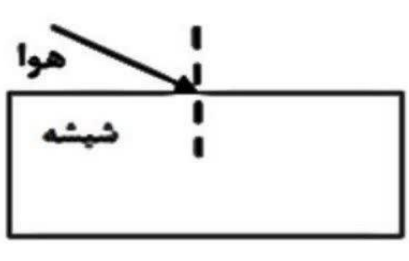 (۱) 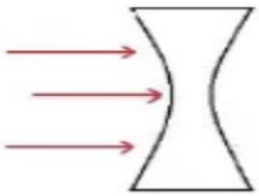 (۲)	۱
	ب) شکل (۱) چه پدیده ای را نشان می دهد؟ ج) شکل (۲) چه نوع عدسی را نشان می دهد؟	

موفق و پیروز باشید .