Kanoon.ir

شما با دانلود این نمونه سوال، کد تخفیف خرید کتاب از سایت کانون بوک دریافت می کنید.

برای دریافت کد جایزه خود، عدد 33 را به سر شماره 90008451 ارسال کنید.



تمرین بیشتر نمونه سوالات امتحانی با کتاب های پرتکرار

همین حالا جایزه خود را دریافت کنید.

kanoonBook.ir

www.kanoon.ir

بسمه تعالی		تعداد صفحه: ۳
نام درس: علوم	وزارت آموزش و پرورش جمهوری اسلامی ایران	خرداد ۱۴۰۴
نام ونام خانوادگی:		تاریخ امتحان: ۱۴۰۴/۰۳/۰۴
پایه و رشته: پایه هشتم	**اداره آموزش و پرورش شهرستان بناب**	ساعت شروع: ۸ صبح
طراح سوال: بهرامی	**مدرسه غیر انتفاعی الهه بابایی**	مدت امتحان: ۷۰ دقیقه

ردیف	سؤالات (پاسخ نامه ندارد)	نمره
۱	عبارتهای زیر را کامل کنید. الف) مخلوط ناهمگی جامد در مایع ..... نام دارد. ب) کاتالیزگر سوختن قند ..... است. ج) مجموعه پروتون ها اتم ..... نام دارد. د) اعصاب حسی دارای ..... بلند هستند. دـ) سنگ گچ و سنگ نمک نوعی سنگ ..... هستند.	۱/۲۵
۲	صحیح و غلط بودن جملات زیر را مشخص کنید. الف) مرکز شنوایی در قسمت پس سری مغز قرار دارد. ب) وظیفه هورمون گلوکاگون کاهش قند خون است. ج) دنا از ژن ها تشکیل شده است. د) بارهای الکتریکی را می توان از هم جدا کرد.	۱
۳	گزینه های صحیح را انتخاب کنید. وسیله نوری که در میکروسکوپ به کار رفته است چه نام دارد. الف) آینه تخت ب) عدسی مقعر ج) عدسی محدب د) آینه مقعر	۱/۲۵
۴	کدام هورمون در مقابله به فشارهای روحی و جسمی به بدن کمک می کند. الف) هورمون غده تیروئید ب) هورمون غده فوق کلیوی ج) هورمون غده هیپوفیز د) هورمون غده پاراترومون	
۵	کدام کانی در آشپزی کاربرد دارد؟ الف) ژیپس ب) هالیت ج) کوارتزیت د) گرافیت	
۶	عامل اتصال بین ماهیچه ها و استخوان ها چه نام دارد؟ الف) رباط ب) تارماهیچه ای ج) زرد پی د) بافت چربی	
۷	با کدام روش زیر می توان آهنربای الکتریکی قوی تری ساخت. الف) افزایش دور سیم پیچ ب) افزایش ولتاژ ج) استفاده از باطری بیشتر د) هر سه مورد	
۸	معادله زیر را کامل کنید. ..... + ... → اکسیژن+ پارافین شمع	۱

www-kanoon-ir

۹	مفاهیم ستون اول را به ستون دوم وصل کنید. | اول	دوم
---	---
دارای الکترون آزاد	جاذبه
وسیله اندازه گیری شدت جریان	دافعه
نیروی بین دو پلاستیک باردار	رسانا
وسیله تشخیص بار الکتریکی	آمپرسنج
	الکتروسکوپ		۱
۱۰	مفاهیم علمی زیر را تعریف کنید: الف) طیف نور ب) اجسام شفاف ج) القای مغناطیسی د) یون	۲
۱۱	از کاربرد سنگ های آذرین دو مورد بنویسید.	۱
۱۲	تولید مثل جانداران زیر به چه روشی است. الف) باکتری ب) مخمر ج) قارچ د) خزه	۱
۱۳	نمودار زیر را کامل کنید. 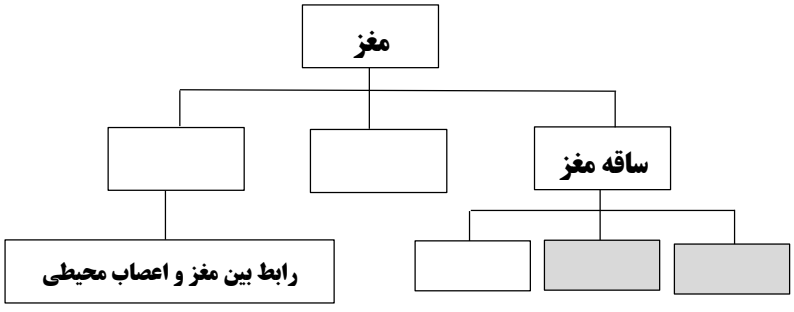 	۰/۷۵
۱۴	مهمترین ویژگی های سنگ های رسوبی چیست؟	۱

www-kanoon-ir

۱۵	کانون را در شکل های زیر مشخص کنید. 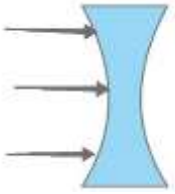 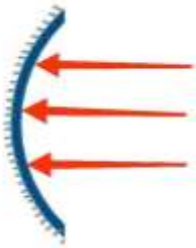	۱
۱۶	نوع قطب ها را در شکل زیر مشخص کنید؟ 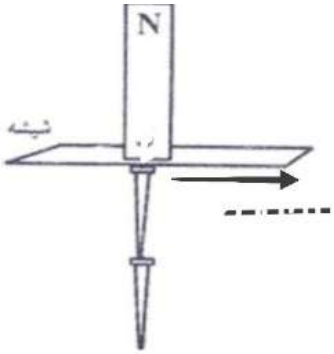	۰/۲۵
۱۷	زاویه های مشخص شده در شکل های زیر چند درجه است. 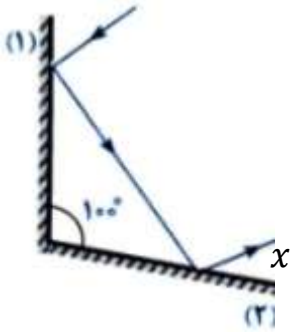 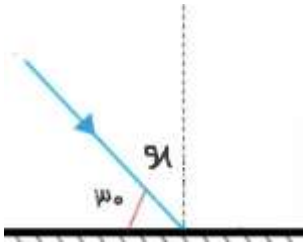	۱
۱۸	با توجه به نماد p و e و n را محاسبه کنید. $^{23}_{11}Na$	۰/۷۵
۱۹	اگر یک مدار با ۲ باطری ۱/۵ ولت کار کند و شدت جریان در آن ۰/۵ آمپر باشد، مقاومت چند است؟	۰/۷۵