Kanoon.ir

شما با دانلود این نمونه سوال، کد تخفیف خرید کتاب از سایت کانون بوک دریافت می کنید.

برای دریافت کد جایزه خود، عدد 33 را به سر شماره 90008451 ارسال کنید.



تمرین بیشتر نمونه سوالات امتحانی با کتاب های پرتکرار

همین حالا جایزه خود را دریافت کنید.

kanoonBook.ir

www.kanoon.ir

نام:	باسمه تعالی	نوبت امتحانی : **خردادماه**
نام خانوادگی:	اداره کل آموزش و پرورش استان فارس	پایه **هشتم** شعبه
نام پدر :	مدیریت آموزش و پرورش ناحیه ۲ شیراز	تاریخ امتحان **۱۴۰۴/۰۲/۲۷**
شماره دانش آموزی:	**دبیرستان شهید دستغیب۱(دوره اول)**	ساعت شروع **۱۰:۳۰ صبح**
نام درس: **فیزیک**	(مهر آموزشگاه)	مدت امتحان **۶۰** دقیقه
شماره صندلی:	صفحه ۱	تعداد صفحه : ۳

تصحیح	نام و نام خانوادگی دبیر: آقای مهاجری	نمره باعدد	تجدید نظر	نام و نام خانوادگی دبیر
	تاریخ و امضا	نمره با حروف		تاریخ و امضا

ردیف	پاسخ سؤالات را روی همین برگ بنویسید	بارم
۱	**(مانند اهل فکر عمل کنید و مانند اهل عمل فکر کنید)** **صحیح یا غلط بودن جمله‌های زیر را مشخص کنید(هر مورد ۵/ نمره)** **الف: اساس کار یک الکتروسکوپ جاذبه بین بار های ناهمنام است** ☐ ص ☐ غ **ب: قطب های مغناطیسی را نمی توان از هم جدا کرد** ☐ ☐ **ج: سایه یک جسم همیشه شبیه به جسم است** ☐ ☐ **د: اگر از یک محیط رقیق به جسمی که در محیط غلیظ قرار دارد نگاه کنیم همیشه جسم را نزدیک تر می بینیم** ☐ ☐	۲
۲	**جاهای خالی را با عبارت مناسب کامل کنید(هر مورد ۵/ نمره)** **الف: وسیله ای که انرژی لازم برای حرکت الکترون های ازاد در مدار را فراهم می کند.....نام دارد. (ولت سنج – باتری)** **ب: اگر موقع خورشید گرفتگی ,فاصله زمین از ماه زیاد باشد , خورشید گرفتگی .....اتفاق می افتد (کامل – حلقوی)** **ج: در عدسی تصویری که مجازی است .....نیز می باشد. (وارونه – مستقیم)**	۱/۵
۳	**گزینه صحیح را با علامت ضربدر مشخص کنید.(هر مورد ۵/ نمره)** **۱- بار دار کردن یک جسم در اثر انتقال .....است** **الف:الکترون ☐ ب:پروتون ☐ ج:نوترون ☐ د:همه موارد ☐** **۲- در موتور الکتریکی انرژی .....تبدیل می شود** **الف:الکتریکی به حرکتی ☐ ب:شیمیایی به حرکتی ☐ ج:حرکتی به الکتریکی ☐ د:مکانیکی به شیمیایی ☐** **۳- در بین آینه های زیر در صورتی که اندازه آنها با هم برابر و فاصله شخص نیز تا آینه ها برابر باشد , بیشتر میدان دید مربوط به کدام است؟** **الف: کاو ☐ ب:کوژ ☐ ج: تخت ☐ د:میدان دید هر سه برابر است ☐** **۴- جسمی را فاصله کانونی عدسی همگرا قرار داده ایم , کدام یک جز ویژگی های تصویر نیست؟** **الف: حقیقی ☐ ب:مستقیم ☐ ج:بزرگتر ☐ د: پشت آینه تشکیل می شود ☐**	۲
۴	**میله شیشه ای با کیسه نایلونی مالشی می دهیم , بار میله بعد از مالش چیست؟**	/۵
۵	**به سوالات زیر در مورد مدار الکتریکی پاسخ دهید .** **الف: در مدارهای موازی با زیاد شدن لامپ ها ,نور لامپ ها چگونه تغییر می کند** **ب:در مدار سری , با سوختن یک لامپ نور لامپ های دیگر چگونه تغییر می کند** **ج: چراغ های خانه نسبت به هم موازی هستند یا متوالی؟**	/۷۵

www.kanoon.ir

ردیف	صفحه ۲ فیزیک هشتم	بارم
۶	چه عواملی باعث قوی تر شدن خاصیت مغناطیسی آهن ربای الکتریکی می شود؟(دو مورد)	/۵
۷	در شکل زیر زاویه تابش و بازتابش چند درجه است؟ 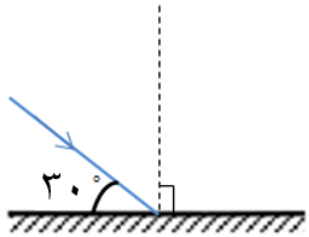	/۵
۸	ویژگی تصویر در آینه تخت را بنویسید؟(سه مورد)	/۷۵
۹	اگر آینه را ۱۰ درجه دوران بدهیم , زاویه بین بازتاب اولیه و بازتاب نهایی چند درجه می شود؟	/۵
۱۰	به سوالات زیر در مورد شکل مقابل پاسخ دهید الف: شکل مقابل مربوط به چه وسیله ای است ب:ویژگی تصویر در آن را بنویسید (یک مورد) 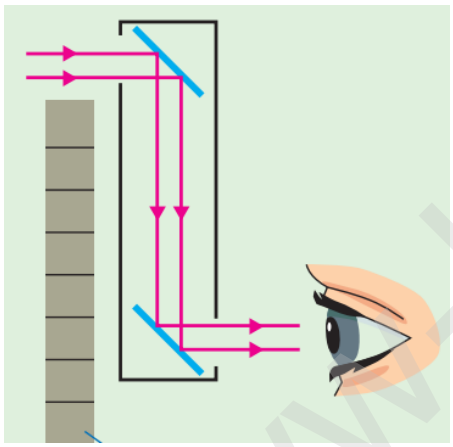	/۵
۱۱	ویژگی تصویر در عدسی واگرا را بنویسید؟(سه مورد)	/۷۵
۱۲	نور سفیدی را به یک وجه منشوری می تابانیم, بیشترین و کمترین میزان انحراف مربوط به چه رنگ های نور است؟	/۵
۱۳	جریان الکتریکی عبوری از رسانای A , ۲ برابر رسانای B و مقاومت الکتریکی رسانای A , نصف رسانای B است. نسبت اختلاف پتانسیل B به A را بدست آورید؟	/۷۵

ادامه سوال در صفحه بعد

www.kanoon.ir

نام:	باسمه تعالی	نوبت امتحانی : **خرداد ماه**
نام خانوادگی:	اداره کل آموزش و پرورش استان فارس	پایه **هشتم** شعبه
نام پدر :	مدیریت آموزش و پرورش ناحیه ۲ شیراز	تاریخ امتحان **۱۴۰۴/۰۲/۲۷**
شماره دانش آموزی:	**دبیرستان شهید دستغیب۱(دوره اول)**	ساعت شروع **۱۰:۳۰ صبح**
نام درس: **فیزیک**	(مهر آموزشگاه)	مدت امتحان **۶۰** دقیقه
شماره صندلی:	صفحه ۳	تعداد صفحه : ۳

ردیف	پاسخ سؤالات را روی همین برگ بنویسید	بارم
۱۴	جسم کدری را در فاصله ۲۰ سانتی متری از یک چشمه نقطه ای قرار می دهیم, اگر فاصله جسم کدر تا پرده ۶۰ سانتی متر باشد, اندازه سایه تشکیل شده چند برابر جسم کدر است؟ (نوشتن فرمول اجباری است)	/۷۵
۱۵	جسمی را بین دو آینه تخت که با هم زاویه ۹۰ درجه دارند قرار می دهیم, تعداد تصاویر تشکیل شده را بدست آورید؟ (نوشتن فر مول اجباری است)	/۷۵
۱۶	شخصی در کنار استخر پر از آبی ایستاده است. اگر ضریب شکست آب ۱/۳ و عمق ظاهری آب ۲ متر باشد عمق واقعی استخر را بدست آورید؟(ضریب شکست هوا را یک در نظر بگیرید)	/۷۵
۱۷	در شکل زیر به سوالات زیر پاسخ دهید الف: زاویه تابش چند درجه است ب: زاویه شکست چند درجه است ج:کدام محیط غلیظ است 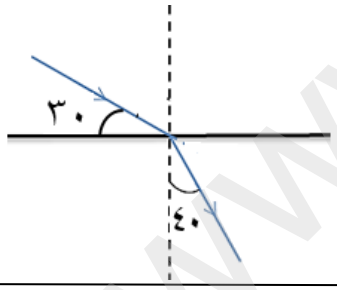	/۷۵
۱۸	در شکل زیر پرتو شکست را رسم کنید 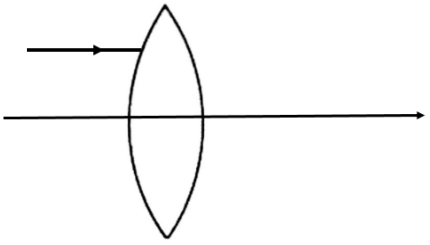	/۵

موفق و سربلند باشید

www-kanoon-ir