Kanoon.ir

شما با دانلود این نمونه سوال، کد تخفیف خرید کتاب از سایت کانون بوک دریافت می کنید.

برای دریافت کد جایزه خود، عدد 33 را به سر شماره 90008451 ارسال کنید.



تمرین بیشتر نمونه سوالات امتحانی با کتاب های پرتکرار

همین حالا جایزه خود را دریافت کنید.

kanoonBook.ir

www.kanoon.ir

باسمه تعالی

وزارت آموزش و پرورش

اداره آموزش آموزش و پرورش شهرستان زرندیه

دبیرستان دخترانه غیردولتی دوره اول ادیبات دختران

امتحان نوبت دوم سال تحصیلی ۱۴۰۴-۱۴۰۳

نام و نام خانوادگی:

نام دبیر: آرزو ملک‌پور

نام درس: علوم تجربی هشتم

تعداد سوال: ۶

تعداد صفحه: ۲

تاریخ امتحان: ۱۴۰۴/۰۳/۱۱

وقت: ۳۵ دقیقه

امام علی (ع): علم نگه دارنده‌ی توست در حالی که تو نگه دارنده‌ی ثروتی

ردیف	شیمی	بارم
۱	**در آزمایش حل شدن قرص جوشان در آب:** الف) تغییر شیمیایی رخ می‌دهد یا فیزیکی؟ ب) واکنش گرماده است یا گرماگیر؟	۰.۵
۲	**با توجه به مدل اتمی مقابل، به پرسش‌های زیر پاسخ دهید:** 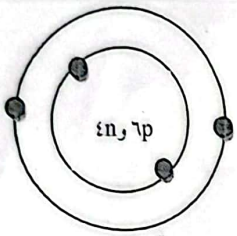 الف) این مدل مربوط به کدام مورد است؟ (اتم خنثی- یون مثبت- یون منفی) ب) اگر نماد فرضی آن را X در نظر بگیریم، شما دانش آموز عزیزم آن را با عدد جرمی و اتمی نمایش دهید.	۰.۵
۳	**برای هر یک از مخلوط‌های زیر یک روش جداسازی بنویسید:** الف) چربی از شیر: ب) اجزاء نفت خام:	۰.۵

ردیف	زیست شناسی	بارم
٤	**درستی یا نادرستی جمله‌های زیر را بدون ذکر دلیل مشخص کنید:** الف) دوام پیام‌های عصبی از هورمون‌ها بیشتر است. ب) گیرنده‌های صوتی، یاخته‌های مژه‌داری هستند که در بخش حلزونی گوش داخلی قرار دارند. ج) هورمون غده تیروئید در بزرگسالی باعث افزایش هوشیاری می‌شود. د) تنوع، نتیجه تولید مثل غیرجنسی است.	۱
۵	**به پرسش‌های مطرح شده درباره شکل زیر پاسخ کوتاه دهید:** 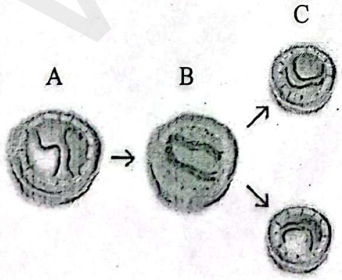 الف) این شکل نشان دهنده چه نوع تقسیمی است؟ ب) این تقسیم در یاخته‌های جنسی رخ می‌دهد یا غیرجنسی؟ ج) در کدام مرحله شکل بالا، مقدار کروموزوم‌ها دو برابر می‌شود؟	۰.۷۵

www.kanoon.ir
CamScanner

٦	**گزینه صحیح را انتخاب کنید.** ٦.١) مرکز شنوایی در کدام بخش دستگاه عصبی مرکزی است؟ الف) پس سری ☐ ب) پیشانی ☐ ج) گیجگاهی ☐ د) مخچه ☐ ٦.٢) در یاخته عصبی، هسته و بیشتر اندامک‌ها در بخشی به نام..... تجمع یافته‌اند. الف) دارینه (دندریت) ☐ ب) جسم یاخته‌ای ☐ ج) آسه (آکسون) ☐ د) تار عصبی ☐	۰.۷۵

مجموع نمرات: ٤

نمره برگه از ٤: نمره به حروف:

و هر کس بر خدا توکل کند، پس خدا او را کافی است

****با آرزوی موفقیت ****

نام دبیر: آرزو ملک‌پور

www-kanoon-ir

CamScanner

نام و نام خانوادگی:

بسمه تعالی

پایه:هشتم

وزارت آموزش و پرورش

تاریخ آزمون:۱۴۰۴/۰۳/۱۱

درس:فیزیک

دبیرستان دخترانه غیر دولتی دوره اول ادیب

ساعت شروع

نام دبیر:الناز صفری

امتحان پایان ترم دوم سال تحصیلی ۱۴۰۴-۱۴۰۳

زمان:۴۰ دقیقه

۱-جاهای خالی را پر کنید.۱

الف)در یک مدار نقش مولد ایجاد..... بین دو نقطه ی مدار است.

ب)مواد بر اساس قابلیت عبور جریان الکتریکی به دو دسته ی .....و ..... تقسیم میشوند.

ج)برای محافظت از ساختمان های بلند برای جلوگیری از آذرخش از ..... استفاده میشود.

۲-دو بادکنک را پس از مالش با یک پارچه پشمی مشترک ، دارای بار الکتریکی کرده و به هم نزدیک نمودیم به نظر شما بادکنک ها به کدام حالت ایا ۲ قرار می گیرند ؟ چرا؟۱





۳-یکی از کاربردهای آهن ربا های الکتریکی را شرح دهید: ۱

۴-چه عواملی باعث افزایش قدرت اهنربای الکتریکی میشود؟۰/۵

۴-هر یک از کانی های ستون الف را به کاربرد مربوطه اش در ستون ب وصل کنید. ۰/۷۵

هالیت	**تهیه خمیر دندان**
فیروزه	**مصرف خوراکی**
فلوئوریت	**صنعت جواهر سازی**

www-kanoon-ir

CamScanner

۵– به سئوالات زیر در مورد کانی مضر آزبست پاسخ دهید . ۰/۵

الف) این کانی در چه محصولاتی استفاده میشود

ب) آزاد شدن شدن الیاف این کانی در هوا ابتلا به چه بیماری را به همراه دارد ؟

۶–کدام یک از سنگ ها توسط رودخانه و کدام یک توسط یخچال حمل شده است؟چرا؟۱



۷–دو عامل از عوامل هوازدگی را نام ببرید.۰/۵

۸–چرخه سنگ را توضیح دهید.۱.۲۵

۸)با توجه به شکل تعیین کنید بین دو محیط الف و ب ،کدام رقیق و کدام غلیظ میباشد؟علت پاسخ خود را بنویس. ۱.۵

الف

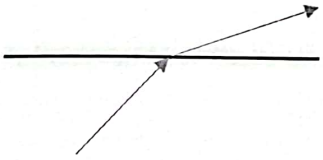

ب

۹– الف) این تصویر کدام قانون را در مورد نور بیان می کند؟ آن را توضیح دهید.

ب) زاویه تابش و باز تابش چند درجه است ؟ان را نشان دهید.۲

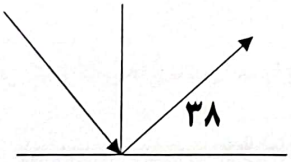

موفق باشید.