Kanoon.ir

شما با دانلود این نمونه سوال، کد تخفیف خرید کتاب از سایت کانون بوک دریافت می کنید.

برای دریافت کد جایزه خود، عدد 33 را به سر شماره 90008451 ارسال کنید.



تمرین بیشتر نمونه سوالات امتحانی با کتاب های پرتکرار

همین حالا جایزه خود را دریافت کنید.

kanoonBook.ir

www.kanoon.ir

نام و نام خانوادگی:	به نام ایزد منان وزارت آموزش و پرورش اداره کل آموزش و پرورش استان خوزستان دبیرستان متوسطه دوره اول اقبال لنجکان چهار	آزمون درس: علوم تجربی مدت آزمون: نمره آزمون از ۲۰: تاریخ: ۱۴۰۵/۳/۱۹
نام آزمون: نام دبیر :آقای مرادی مقطع: هشتم		

ردیف		نمره
۱	**گزینه صحیح را انتخاب کنید.** **الف – هورمون های کدام غده فعالیت سایر غده ها را کنترل می کند؟** **۱– هیپوفیز ۲– لوزالمعده ۳– تیروئید ۴– فوق کلیه** **ب– در شکل مقابل زاویه بازتاب چند درجه است؟** **۱) ۹۰ ۲) ۳۰ ۳) ۲۲ ۴) ۱۲۰** **ج– در تجزیه نور توسط منشور کمترین میزان شکست مربوط به کدام رنگ است؟** **۱) قرمز ۲) زرد ۳) بنفش ۴) سبز**	۰/۷۵
۲	**جاهای خالی را با انتخاب کلمات مناسب پر کنید.** **الف – میوه از رشد ..... (تخمدان / تخمک) مادگی گل به وجود می آید** **ب– برای تشخیص وجود بارهای الکتریکی در اجسام از ..... (برق نما / برق گیر) می توان استفاده کرد** **د – هر جسمی که از خود نور تولید می کند ، جسم ..... (منیر /غیر منیر) نامیده می شود**	۰/۷۵
۳	**صحیح یا غلط بودن هر کدام از جملات زیر را تعیین کنید.** الف–باکتری ها به روش جوانه زدن تولیدمثل می کنند. ص☐ غ☐ ب–وقتی زمین بین ماه و خورشید قرار می گیرد و با آنها در یک راستا می باشد کسوف اتفاق می افتد. ص☐ غ☐	۰/۵
۴	**در عبارات زیر یک غلط علمی وجود دارد. آن را مشخص کنید و درست آن را بنویسید.(فعل جمله تغییر نکند.)** الف– در ساخته شدن هورمون های غده فوق کلیه ، ید به کار می رود. ب–در هوازدگی شیمیائی سنگ ها به قطعات کوچکتر ولی با همان ترکیب خرد می شوند .	۰/۵
۵	**هر کدام از موارد ستون اول را به یک مورد مرتبط در ستون دوم متصل کنید. (در ستون دوم ، یک مورد اضافی است.)** ۱) زغال سنگ( ) ۲) سنگ نمک( ) ۳)تراورتن( ) الف– واکنش های شیمیایی ب– حرارت و فشار ج–اجتماع بقایای جانداران د–تبخیر آب دریاچه ها	۰/۷۵

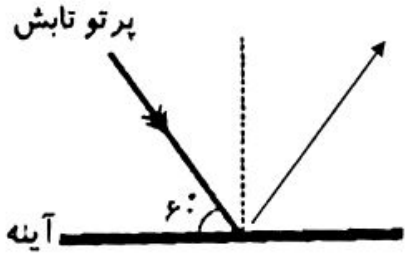

www-kanoon-ir

۶	در هر یک از اندام های زیر چه نوع ماهیچه ای به کار رفته است؟ الف- دیواره معده (.....) ب- ماهیچه بازو(.....)	۰/۵
۷	با توجه به تصویر مقابل: الف-نوع تقسیم یاخته ای را مشخص کنید؟ ب- در این تقسیم یاخته ای تعداد کروموزوم ها چه تغییری می کند؟ 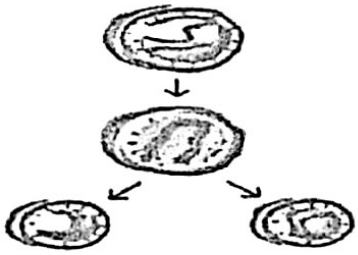	۰/۵
۸	دو میله باردار A و B مطابق شکل روبرو از سقف آویزان شده اندبا توجه به وضعیت گرفتن آنها نوع بار الکتریکی میله A چیست؟ چرا؟ 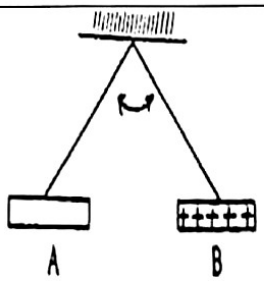	۰/۵
۹	با توجه به شکل به سؤالات پاسخ دهید: الف- از کدام روش برای ساخت آهن ربا استفاده شده است؟ ب- قطب های آهن ربای ساخته شده را مشخص کنید. 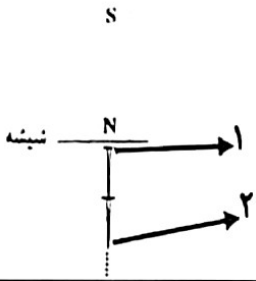	۰/۷۵
۱۰	دو آهن ربا را مطابق شکل زیر نزدیک یکدیگر قرار داده ایم. به نظر شما یکدیگر را جذب یا دفع می کنند؟ چرا؟ 	۰/۷۵
۱۱	شکل مقابل کره های فلزیA و Bدر تماس با یکدیگر هستند. میله باردار منفی را به کره A یک می کنیم: -کره ها به چه روشی دارای بار الکتریکی می شوند؟ نوع بار الکتریکی هر یک از کره ها را مشخص کنید. 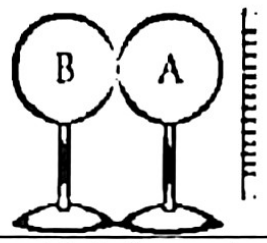	۰/۷۵
۱۲	اختلاف پتانسیل الکتریکی باتری ۲۲۰ ولت است. آن را به دو سر یک مقاومت ۲۰ اهمی وصل می کنیم ، جریانی که از این مدار می گذرد چند آمپر است؟ (همراه با نوشتن فرمول و یکا)	۰/۷۵