Kanoon.ir

شما با دانلود این نمونه سوال، کد تخفیف خرید کتاب از سایت کانون بوک دریافت می کنید.

برای دریافت کد جایزه خود، عدد 33 را به سر شماره 90008451 ارسال کنید.



تمرین بیشتر نمونه سوالات امتحانی با کتاب های پرتکرار

همین حالا جایزه خود را دریافت کنید.

kanoonBook.ir

www.kanoon.ir

نام:	باسمه تعالی		تاریخ امتحان	۱۶	۰۳	۱۴۰۵
نام‌خانوادگی:	مدیریت آموزش و پرورش شهرستان شوش دانیال		ساعت شروع			
نام پدر:	**آموزشگاه:**	**دبیرستان غیر دولتی پسرانه متوسطه اول سرای دانش**	محل مهر آموزشگاه :			
شماره دانش‌آموزی:	آزمون نوبت دوم درس علوم تجربی پایه هشتم		مدت امتحان:	**۹۰**	**دقیقه**	
نام درس: **علوم تجربی**	سال تحصیلی : ۱۴۰۴-۱۴۰۵		**تعداد صفحه: ٤**			

ردیف	سوالات	بارم
۱	درستی یا نادرستی عبارت زیر را مشخص کنید ؟ آ- حبه ی قند آغشته به خاک باغچه دیرتر از حبه قند می سوزد . ب-قانون بازتاب نور برای اجسامی که ناصاف هستند صدق نمی کند . . پ-. سنگ کره عمدتا از سنگ وکانی به وجود می آید . ت-. مرکز شنوایی در قسمت لوب گیجگاهی قشر مخ قراردارد .	۱
۲	جاهای خالی را با کلمات مناسب پر کنید ؟ آ_. حل شدن پوسته ی تخم مرغ در سرکه نوعی تغییر ..... است. ب از سوختن ناقص چوب و گاز در فضای بسته گاز .....تولید می شود. پ- در هسته ی سلول های بدن انسان به تعداد ..... کروموزوم وجود دارد . ت- در تقسیم .....از یک یاخته دو یاخته به وجود می آید .	۱
۳	گزینه درست را انتخاب کنید ؟ آ_ **موادی که پی اچ آن ها کمتر از ۷ است قطعا دارای کدام خاصیت هستند ؟** . الف- بازی ب- اسیدی ج-خنثی د- هیچکدام ب- کدام یک جز مثلث آتش نیست ؟. الف- گرما ب- اکسیژن ج – ماده ی سوختنی د- کربن دی اکسید پ- کدام از اجزای زیر جز بخش مادگی گل به حساب نمی آید ؟ . الف- بساک ب-خامه ج-کلاله د- تخمدان ت- کدام مورد در دوقلو های یکسان و کاملا شبیه به هم متفاوت است ؟ الف- رنگ پوست ب- گروه خونی ج-رنگ مو د- اثر انگشت	۱
۴	اصطلاحات زیر را تعریف کنید ؟ آ-شکست نور: ..... ب- مفصل :	۱

www-kanoon.ir

نام:	باسمه تعالی		تاریخ امتحان	۱۶	۰۳	۱۴۰۵
نام‌خانوادگی:	مدیریت آموزش و پرورش شهرستان شوش دانیال		ساعت شروع			
نام پدر:	**آموزشگاه:**	**دبیرستان غیر دولتی پسرانه متوسطه اول سرای دانش**	محل مهر آموزشگاه :			
شماره دانش‌آموزی:	آزمون نوبت دوم درس علوم تجربی پایه هشتم		مدت امتحان:	**۹۰**	**دقیقه**	
نام درس: **علوم تجربی**	سال تحصیلی : ۱۴۰۴-۱۴۰۵		**تعداد صفحه: ٤**			

ردیف	سوالات	بارم
٥	-مفاهیم .الف و ب را به هم وصل کنید (درمورد نحوه ی تشکیل سنگ های رسوبی است ولی یک ویژگی سنگ آن جامانده است به نظر شما ویژگی کدام سنگ است؟	۱

الف(	ب (سنگ ها)
در اثر واکنش های شیمیایی	- قندیل و سنگ تراورتن
تبخیر آب های دریاچه های گرم وکم عمق	- زغال سنگ
اجتماع بقایای جانداران	-سنگ گچ و سنگ نمک
در آن فسیل دیده نمی شود	- .....

٦	-عبارت های زیر مراحل هوازدگی سنگ ها در اثر یخ زدن آب در درز و شکاف سنگ ها است .آن ها را به ترتیب شماره گذاری کنید . الف- ذوب یخ ..... ب- یخ زدن دوباره ی آن و افزایش حجم آن ..... ج- یخ زدن آب در درزها و افزایش حجم آن ..... د - خرد شدن سنگ	۱
۷	فصل نهم و دهم کتاب علوم تجربی پایه ی هشتم در مورد الکتریسیته و مغناطیس صحبت کرده است با توجه به آن ها به سوالات زیر پاسخ دهید. الف – نام وسیله ایی که با آن بار الکتریکی اجسام را تشخیص می دهیم . ..... ب-نیروی الکتریکی بین بار های الکتریکی ناهمنام .(انتخاب کنید) ..... (دافعه – جاذبه) پ-نقاطی از آهنربا که در آن ها خاصیت مغناطیسی بیش تر است . ..... د- قطب های N و S را در قطعه های آهن مشخص کنید . ۱-..... ۲-..... ۳-..... ۴-.....	۱/۷۵

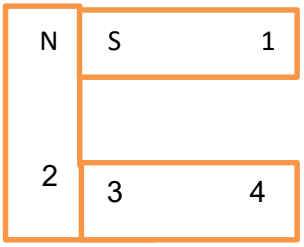

www.kanoon.ir

نام:	باسمه تعالی		تاریخ امتحان	۱۶	۰۳	۱۴۰۵
نام‌خانوادگی:	مدیریت آموزش و پرورش شهرستان شوش دانیال		ساعت شروع			
نام پدر:	**آموزشگاه:**	**دبیرستان غیر دولتی پسرانه متوسطه اول سرای دانش**	محل مهر آموزشگاه :			
شماره دانش‌آموزی:	آزمون نوبت دوم درس علوم تجربی پایه هشتم		مدت امتحان:	**۹۰**	**دقیقه**	
نام درس: **علوم تجربی**	سال تحصیلی : ۱۴۰۴-۱۴۰۵		**تعداد صفحه: ٤**			

ردیف	سوالات	بارم
۸	سوالات زیر پاسخ کوتاه دهید -من کیستم. الف – من یک دستگاهم که در صنعت برای جداسازی چربی از شیر از من استفاده می شود ..... ب- قطعه ایی شفاف از جنس پلاستیک یا شیشه هستم که معمولا قاعده ی من مثلثی شکل است ..... پ- جسمی هستم که مانع عبور نور می شوم	۰/۷۵
۹	-در شکل زیر در هردو بشر مخلوط جامد در مایع وجود دارد و ضعیت این دو مخلوط پس از چند دقیقه را می بینید .  الف-کدام یک می تواند مخلوط نمک در آب باشد ؟ ب- کدام یک تعلیقه یا سوسپانسیون است ؟	۰/۵
۱۰	-درمورد روش های تولید مثل غیر جنسی به سوالات زیر پاسخ دهید .(دونیم /جوانه/قطعه قطعه/هاگ زایی) الف –این روش تولید مثل غیر جنسی مخصوص باکتری هاست ..... ب- کپک ها با این روش تولید مثل غیر جنسی زیاد می شود مثل کپک نان	۰/۵
۱۱	-در عنصر کربن قسمت A در سمت چپ بالا قرار دارد که عدد ۱۴ را نشان می دهد و قسمت B در سمت راست پایین قراردارد و عدد ۶ را نشان می دهد . ..... ۱-عددجرمی ..... ۲-عدد اتمی ..... ۳-تعداد پروتون..... ۴-تعداد نوترون	۱
۱۲	- مقایسه کنید . الف- ارادی و غیر اردی=..... ..... ب- عدسی همگرا و عدسی واگرا =.....	۲

www-kanoon-ir

نام:	باسمه تعالی		تاریخ امتحان	۱۶	۰۳	۱۴۰۵
نام‌خانوادگی:	مدیریت آموزش و پرورش شهرستان شوش دانیال		ساعت شروع			
نام پدر:	**آموزشگاه:**	**دبیرستان غیر دولتی پسرانه متوسطه اول سرای دانش**	محل مهر آموزشگاه :			
شماره دانش‌آموزی:	آزمون نوبت دوم درس علوم تجربی پایه هشتم		مدت امتحان:	**۹۰**	**دقیقه**	
نام درس: **علوم تجربی**	سال تحصیلی : ۱۴۰۴-۱۴۰۵		**تعداد صفحه: ٤**			

ردیف	سوالات	بارم
۱۳	-درمورد پاشندگی نور به سوال زیر پاسخ دهید . رنگ های تشکیل دهنده نور سفید (نیلی / قرمز /آبی/ سبز / زرد / نارنجی /بنفش) الف- **بیشترین و کمترین شکست به ترتیب مربوط به کدام نور است ؟** ..... **و**.....	۰/۵
۱۴	**-فصل چهاردهم درمورد نور و ویژگی ها آن است . به سوالات زیر پاسخ دهید ؟** **الف- نازک ترین باریکه ی نوری که بتوان تصور کرد چه نام دارد ؟**..... ب- علی انواع باریکه های نوری را خواست برای دوستش تعریف کند ناگهان یکی از آن هارا فراموش کرد . در پیدا کردن آن به علی کمک کنید . (علی : دوست عزیزم باریکه های نوری می تواند شامل مجموعه ایی از .موازی.....و ...واگرا....و .....؟... باشد .)	۰/۵
۱۵	-با توجه به مبحث کانی ها به سوالات زیر پاسخ دهید . الف-برای شناسایی کانی ها فقط خواص فیزیکی و شیمیایی آنها مورد بررسی قرار میگیرد . ص غ ب – بررسی سختی یک کانی مربوط به استفاده از کدام دسته خواص کانی ها است ؟ نوری فیزیکی شیمیایی بلور شناسی پ-کدام کانی در تهیه ی لنت ترمز و لباس های ضد حریق و سقف کاذب استفاده می شود؟ ..... به نظر شما این کانی که نوشتید برای سلامتی ما مفید است مضر ؟ ..... **د-نقشه ی مفهومی زیر را کامل کنید ؟** 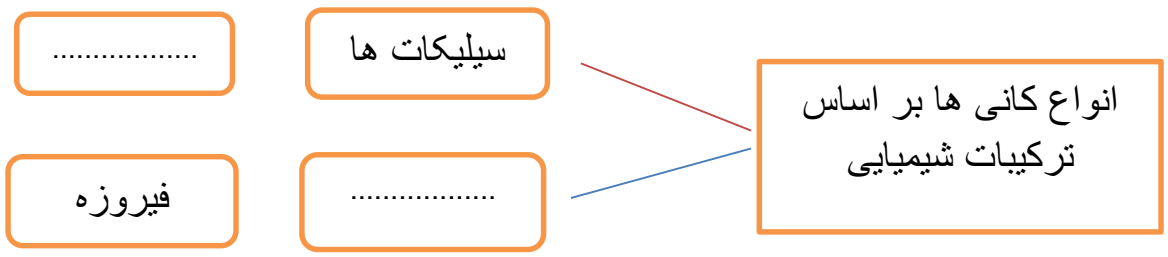 	۰/۲۵ ۰/۲۵ ۰/۲۵ ۰/۲۵ ۰/۵

((موفق باشید عزیزان))

از ۱۵نمره :..... فعالیت از ۵ نمره :..... نمره ی پایانی از ۲۰:.....