Kanoon.ir

شما با دانلود این نمونه سوال، کد تخفیف خرید کتاب از سایت کانون بوک دریافت می کنید.

برای دریافت کد جایزه خود، عدد 33 را به سر شماره 90008451 ارسال کنید.



تمرین بیشتر نمونه سوالات امتحانی با کتاب های پرتکرار

همین حالا جایزه خود را دریافت کنید.

kanoonBook.ir

www.kanoon.ir

" باسمه تعالی"

نام و نام خانوادگی:	ادارهٔ کل آموزش و پرورش استان گیلان – شهرستان /ناحیه/منطقه حویق واحد آموزشی متوسطه اول نوبت خرداد سال تحصیلی ۱۴۰۶-۱۴۰۵ پایهٔ : هشتم	ساعت شروع: .... : ....
تاریخ امتحان: ۱۳ /۳/ ۱۴۰۵	سؤالات درس علوم تجربی	مدت امتحان: ۹۰ دقیقه
شهرستان/ناحیه/منطقه تالش /حویق	نام آموزشگاه: ره آورد ۳	تعداد صفحات: ۳ صفحه

ردیف	سؤالات	نمره
۱)	درستی و نادرستی جملات زیر را مشخص کنید. ص غ الف) دما تاثیر یکسانی رو انحلال پذیری مواد دارد. ☐ ☐ ب) بصل النخاع مرکز فعالیت های ارادی است. ☐ ☐ ج) مقدار دنا در تقسیم میوز برخلاف تقسیم میتوز ، ابتدا دو برابر می شود. ☐ ☐ د) در فلزات تعداد الکترون هاز آزاد بسیار زیاد است. ☐ ☐ ه)قطب N آهنربا هرگز بدون حضور قطب S وجود ندارد. ☐ ☐ و) از کانی مسکوییت برای تهیه پودر بچه استفاده می شود. ☐ ☐	۱/۵
۲)	در پرسش های زیر گزینه درست را انتخاب کنید. ۱.وسیله اندازه گیری شدت جریان الکتریکی کدام است؟ الف) آمپرسنج ب)ولت سنج ج) الکتروسکوپ د) اهم سنج ۲. کدام یک از کانی های زیر از کانی های نامهربان است؟ الف)آزبست ب)فلوئوریت ج)ژیپس د)تالک ۳.کدام گزینه درمورد سنگ های رسوبی نادرست است؟ الف) لایه لایه هستند ب) دارای فسیل هستند. ج)به روش های مختلفی تشکیل می شود. د) برای تشکیل آنها گرما و فشار لازم است. ۴.عبارت زیر با کدام جمله به درستی تکمیل می شود؟ « هر چه مسافت جابه جایی سنگ ها بیشتر باشد، ..... » الف)لبه های تیز سنگ گردتر می شود. ب) لبه های گرد، تیزمی شود. ج)سنگ درشت تر می شود . د)سنگ ها لبه های گرد خود را از دست می دهند. ۵. یک پرتوی نور با سطح آینه زاویه ۴۰ درجه می سازد. این پرتو با پرتو بازتاب خود چه زاویه ای می سازد؟ الف)۸۰ ب)۱۰۰ ج)۴۰ ب)۵۰	۱/۲۵
۳)	به سوالات زیر پاسخ کوتاه دهید. الف) وظیفه مخچه چیست؟(۰/۵) ب)کانی ها با توجه به ترکیب شیمیاییشون به چند دسته تقسیم می شوند؟(۰/۵) ج) نحوه ایجاد باکتری انسولین ساز را توضیح دهید.(۰/۵) د) یک پدیده مثال بزنید که اثبات می کند نور در خط راست منتشر می شود؟(۰/۲۵) ه) عوامل تعیین کننده صفحات را نام ببرید. ؟ (۰/۵) و) شکست نور را تعریف کنید ؟(۰/۵)	۲/۷۵

www-kanoon.ir

" باسمه تعالی"

نام و نام خانوادگی:	ادارهٔ کل آموزش و پرورش استان گیلان – شهرستان /ناحیه/منطقه حویق واحد آموزشی متوسطه اول نوبت خرداد سال تحصیلی ۱۴۰۶-۱۴۰۵ پایهٔ : هشتم	ساعت شروع: .... : ....
تاریخ امتحان: ۱۴۰۵/۳/ ۱۳	سؤالات درس علوم تجربی	مدت امتحان: ۹۰ دقیقه
شهرستان/ناحیه/منطقه تالش /حویق	نام آموزشگاه: ره آورد ۳	تعداد صفحات: ۳ صفحه

ردیف	سؤالات	نمره
	ادامه سوال در صفحه بعد	
٤)	**الف)یکی از ویژگی های مهم مخلوط ها چیست؟ با مثال توضیح دهید.**	۰/۵
٥)	**الف) یون چیست؟** **ب) عدد اتمی چیست و مکان آن در نماد شیمیایی کجاست؟** **ج) عدد جرمی چیست و مکان آن در نماد شیمیایی کجاست؟**	۰/۷۵
٦)	**الف) سلول های گیرنده نور در کدام لایه قرار دارند و کار هر یک را بیان کنید.** **ب)غضروف در کجا قرار دارد و وظیفه آن چیست؟**	۱/۲۵
۷)	**ج)انسولین چگونه درتنظیم قند خون نقش دارد؟** **د)تنظیم عصبی و هورمونی را از نظر سرعت، ماهیت و ماندگاری باهم مقایسه کنید.**	۱
۸)	**الف)تقسیم میتوز را با رسم شکل توضیح دهید.(با ۳ کروموزوم)** **ب)انواع تولید مثل غیرجنسی ر ا نام ببرید و یکی را به دلخواه توضیح دهید.**	۱
۹)	**در شکل روبرو بار میله چیست؟چرا؟** 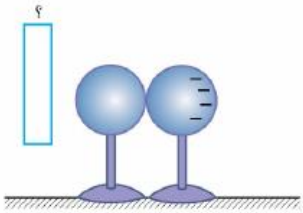	۰/۵
	ادامه سوال در صفحه بعد	

www-kanoon-ir

" باسمه تعالی"

نام و نام خانوادگی:	ادارهٔ کل آموزش و پرورش استان گیلان – شهرستان /ناحیه/منطقه حویق واحد آموزشی متوسطه اول نوبت خرداد سال تحصیلی ۱۴۰۶-۱۴۰۵ پایهٔ : هشتم	ساعت شروع: .... : ....
تاریخ امتحان: ۱۳ /۳/ ۱۴۰۵	سؤالات درس علوم تجربی	مدت امتحان: ۹۰ دقیقه
شهرستان/ناحیه/منطقه تالش /حویق	نام آموزشگاه: ره آورد ۳	تعداد صفحات: ۳ صفحه

ردیف	سؤالات	نمره
۱۰)	خاصیت مغناطیسی آهنربای الکتریکی و جهت قطب های آن چگونه تغییر می کند؟	۰/۷۵
۱۱)	الف)یکی از روش های تشکیل سنگ های رسوبی را توضیح دهید و مثال بزنید. ب)اندازه بلور سنگ های آذرین درونی چگونه است؟	۰/۷۵
۱۲)	الف) برداشتن فشار از روی سنگ ها چگونه باعث هوازدگی می شود؟ ب) وقتی رسوبات به دریاچه ها یا دریاها می رسند چگونه رسوب می کنند؟	۱
۱۳)	الف) پرتوهای بازتابی را روی آینه زیر رسم کنید. 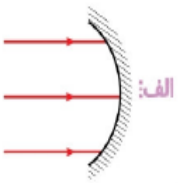 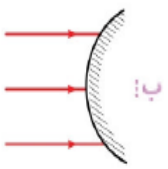 ب) ویژگی های تصویر در آینه کاو و کوژ را باهم مقایسه کنید.	۱
۱۴)	باتوجه به شکل کدام پرتو مسیر درست نور در آب را به درستی نشان می دهد؟ چرا؟ 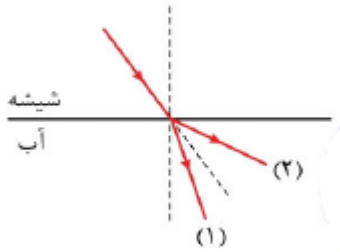	۱
	جمع کل نمرات	۱۵

** موفق باشید **

نمره به عدد	نمره به حروف	نام و نام خانوادگی دبیر مربوطه و امضاء