Kanoon.ir

شما با دانلود این نمونه سوال، کد تخفیف خرید کتاب از سایت کانون بوک دریافت می کنید.

برای دریافت کد جایزه خود، عدد 33 را به سر شماره 90008451 ارسال کنید.



تمرین بیشتر نمونه سوالات امتحانی با کتاب های پرتکرار

همین حالا جایزه خود را دریافت کنید.

kanoonBook.ir

www.kanoon.ir

نام و نام خانوادگی:	وزارت آموزش و پرورش	زمان:	پیشگامان ناصرنوین
امتحان: فیزیک کلاس:	اداره کل آموزش و پرورش خراسان رضوی	ساعت:	
شماره دانش آموز:	مدیریت آموزش و پرورش ناحیه ۷ مشهد	تاریخ:	
نام دبیر:	مجموعهٔ دبیرستانهای غیر دولتی ناصرنوین	نوبت:	مهر
نمرهٔ دبیر باعدد: با حروف:	نمرهٔ تجدیدنظر:	امضا:	آموزشگاه

شماره	متن سؤال	بارم
۱	مشخص کنید کدام یک از عبارت های زیر درست و کدام یک نادرست است؟ الف) بارهای ناهمنام همدیگر را جذب می کنند. درست □ نادرست □ ب) در روش القا، هرچه آهن ربا قوی تر باشد، می تواند میخ های بیشتری را جذب کند. درست □ نادرست □ ج) در ژنراتور، هرچه تعداد دورهای سیم پیچ کمتر باشد، الکتریسیته بیش تری تولید می شود. درست □ نادرست □	/۷۵
۲	با استفاده از کلمات داخل پرانتز، جاهای خالی را با کلمات مناسب پر کنید. الف) مقدار اختلاف پتانسیل در مدار به وسیله ..... اندازه گیری می شود. (آمپرسنج، ولت سنج) ب) در موتورهای الکتریکی انرژی الکتریکی به انرژی .....تبدیل می شود. (مکانیکی، شیمیایی) ج) در فنر مغناطیسی، قطب های .....آهن رباهای حلقه ای در مجاورت هم قرار می گیرند. (همنام، ناهمنام)	/۷۵
۳	گزینه درست را با علامت × مشخص کنید. ۱- الکتروسکوپی دارای بار منفی است. جسم بارداری را به آن نزدیک می کنیم. ورقه های آن از هم بازتر می شوند. این جسم دارای بار الکتریکی .....است. الف) منفی ○ ب) مثبت ○ ج) جسم بدون بار است ○ د) نمی توان بار جسم را تشخیص داد ○ ۲- قطب N آهن ربایی را به عقربه رو به شمال قطب نمایی نزدیک کرده ایم. عقربه قطب نما: الف) از کار می افتد ○ ب)دفع می شود ○ ج) جذب می شود ○ د) به آهن ربای الکتریکی تبدیل می شود ○ ۳- در شکل زیر جای قطب های A و B به ترتیب از راست به چپ چه قطب هایی را باید قرار دهیم؟ 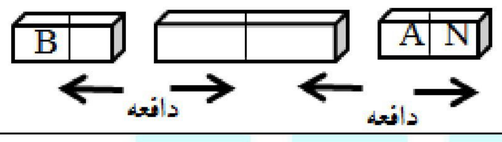 الف) N - N ○ ب) N - S ○ ج) S -N ○ د) S –S ○	/۷۵
۴	با کشیدن یک خط عبارات مربوطه را به هم وصل کنید.(یک کلمه اضافی است) یکای آن اهم است • • اختلاف پتانسیل مقدار جریانی که در مدار جاری است • • شدت جریان با افزایش مقدار آن در مدار، جریان بیشتری از مدار عبور می کند • • مقاومت الکتریکی • بار الکتریکی	/۷۵
۵	در شکل زیر، کره های فلزی کاملا مشابه و خنثی بوده و روی پایه های عایق قرار دارند. ابتدا کره A را از مجموعه جدا می کنیم. سپس جسم باردار را دور می کنیم و بعد کره های B و C را از هم جدا می کنیم. بار هر یک از کره های خواسته شده را مشخص کنید. A: ..... C: ..... 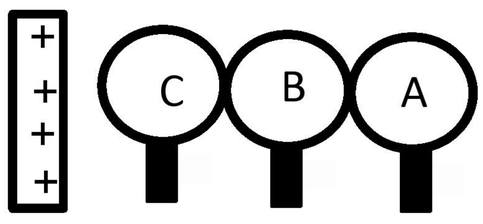	/۵.
۶	با توجه به شکل: الف) بار الکتریکی میله A را مشخص کنید. ب) احتمالا میله A شیشه ای است یا پلاستیکی؟ 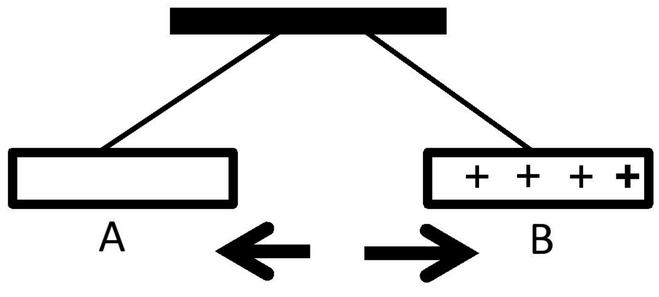	/۵

۷	**در شکل زیر ولت سنج عدد ۱۲ ولت و آمپرسنج عدد ۲۵/. آمپررا نشان می دهد. مقاومت لامپ را حساب کنید.** **(نوشتن فرمول و انجام محاسبات الزامی است)** 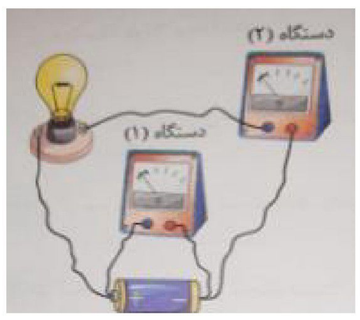	**./۷۵**
۸	**مواد زیر را به دو دسته مغناطیسی و غیر مغناطیسی در جدول مرتب نمایید.** **سکه – ظرف مسی – براده های آهن - فولاد** **مواد مغناطیسی** **مواد غیرمغناطیسی**	**۱**
۹	**الف) در شکل زیر میخ با چه روشی آهن ربا شده است؟.....** **ب) در نوک تیز میخ کدام قطب مغناطیسی ایجاد شده است؟.....** **شیشه** 	**/۵**
۱۰	**مطابق شکل یک آهن ربای تیغه ای را چند بار به طور دقیق از وسط به دو نیم تقسیم کرده ایم.** **الف) قطب های A و B را مشخص کنید؟ A : ..... B:.....** **ب) دو قطب D و C چه نیرویی به هم وارد می کنند؟ .....** 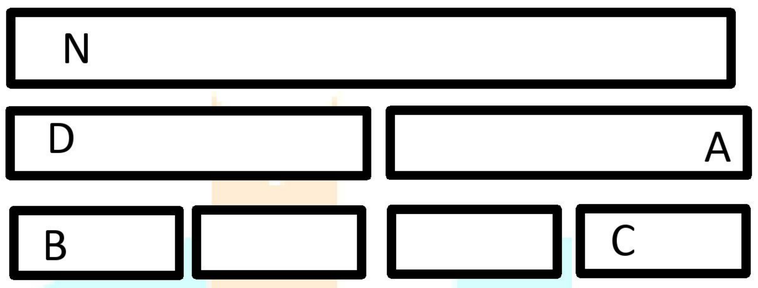	**./۷۵**
جمع		**۷**

ناصر نوین
www.k-anoon-ir

نام ونام خانوادگی:	وزارت آموزش و پرورش اداره کل آموزش و پرورش خراسان رضوی مدیریت آموزش و پرورش ناحیه 7 مشهد مجموعه دبیرستانهای غیر دولتی ناصرنوی	زمان:	پیشگامان ناصرنوین
امتحان:شیمی کلاس:		ساعت:	
شماره:		تاریخ: 1402/10/	
نام دبیر:رحیمی		پایه:هشتم	مهر آموزشگاه
نمره دبیر باعدد: با حروف:	نمره تجدیدنظر:	امضا:	

شماره	متن سؤال	بارم
	الف) پاسخ صحیح را علامت بزنید.	
1	کدام یک از مخلوط های زیر ناهمگن است ؟ الف) ☐ چای شیرین ب) ☐ آجیل ج) ☐ آب نمک د) ☐ الکل در آب	0/25
2	کدام یک از تغییرات زیر فیزیکی است؟ الف) ☐ میخ آهنی در کات کبود ب) ☐ آزمایش کوه آتش فشان ج) ☐ جوشیدن آب د) ☐ تخم مرغ در سرکه	0/25
3	در باتری کدام تبدیل انرژی انجام می گیرد ؟ الف) ☐ شیمیایی به الکتریکی ب) ☐ الکتریکی به شیمیایی ج) ☐ گرمایی به الکنریکی د) ☐ الکتریکی به گرمایی	0/25
4	تفاوت ایزو توپ ها در چیست ؟ الف) ☐ عدد اتمی ب) ☐ تعداد الکترون ها ج) ☐ تعداد پروتون ها د) ☐ تعداد نوترون ها	0/25
	ب)به سوالات زیر پاسخ بدهید.	
5	در اثر سوختن چوب در مکان بسته چه گازی تولید می شود؟سه ویژگی این گاز را بنویسید؟ نام گاز= 1) 2) 3)	1
6	کاتالیزگر چیست؟ دو مثال بزنید؟ مثال: 1) 2) تعریف:	1
7	دو ویژگی بازها را نوشته ودو باز نام ببرید؟ مثال: 1) 2) ویژگی ها: 1) 2)	1
8	معادله نوشتاری سوختن شمع را نوشته واکنش دهنده و فراورده آن را مشخص کنید؟	1
9	سوسپانسیون (تعلیقه) چیست؟ دو مثال بزنید؟ مثال:1) 2) تعریف:	1
10	مدل اتمی بور برای اتم خنثی فلوئور(F) با عدداتمی 9 وعددجرمی 19 را رسم کنید؟	1
	موفق و پیروز باشید ☺	

نام و نام خانوادگی:	وزارت آموزش و پرورش	زمان:	پیشگامان ناصرنوین
امتحان: زیست کلاس:	اداره کل آموزش و پرورش خراسان رضوی	ساعت: ۹:۳۰	
شماره دانش آموز:	مدیریت آموزش و پرورش ناحیه ۷ مشهد	تاریخ: ۱۴۰۲/۱۰/۱۶	
نام دبیر:	مجموعهٔ دبیرستانهای غیردولتی ناصرنوین	نوبت: اول	مهر آموزشگاه
نمرهٔ دبیر باعدد: با حروف:	نمرهٔ تجدیدنظر:	امضا:	

شماره	متن سؤال	بارم
۱	ساقه مغز ، مخ و مخچه را به .....وصل میکند به محل اتصال استخوان ها به هم ..... می گویند. ترشح هورمونی از غدد ..... سبب ایجاد آمادگی شخص جهت رویارویی با فشارهای روحی می شود.	۰/۷۵
۲	دختر یا پسر بودن انسان از همان ابتدای تشکیل یاخته تخم مشخص می شود ص غ هر محرکی در هر جای بدن قابل حس کردن است. ص غ جریان الکتریکی نورون تنها دریک جهت و از دندریت (دارینه) بسمت آسه (آکسون) هدایت می شوند. ص غ	۰/۷۵
۳	مرکز کنترل فعالیت های غیرارادی مثل تنفس و ضربان قلب کدام بخش دستگاه عصبی است الف) مخ ب)بصل النخاع ج) مخچه د)نخاع یاخته های گیرنده چشم در کدام بخش قرار دارند؟ الف)قرنیه ب) شبکیه ج)لایه میانی چشم د) مغز یاخته های کبدی گلوکز اضافی خون را به چه صورتی ذخیره میکنند؟ الف)سلولز ب)گلیکوژن ج)فرکتوز د)نشاسته	۱/۵
۴	نمودار زیر را کامل کنید نقش کلسیم در بدن استحکام استخوان ها	۱
۵	پس از مصرف غذای شیرین ، قند خون چگونه به حد طبیعی خود برمی گردد؟	۱
۶	دو نوع یاخته گیرنده نوری چشم را نام ببرید؟	۰/۵
۷	نخاع و مغز درون چه استخوان هایی قرار دارد؟	۰/۵
۸	شکل یک نورون را رسم کرده و قسمت های مختلف آن را روی شکل مشخص کنید	۱
	موفق و پیروز باشید ☺	۷