Kanoon.ir

شما با دانلود این نمونه سوال، کد تخفیف خرید کتاب از سایت کانون بوک دریافت می کنید.

برای دریافت کد جایزه خود، عدد 33 را به سر شماره 90008451 ارسال کنید.



تمرین بیشتر نمونه سوالات امتحانی با کتاب های پرتکرار

همین حالا جایزه خود را دریافت کنید.

kanoonBook.ir

www.kanoon.ir

باسمه‌تعالی

مدیریت آموزش و پرورش شهرستان بندرگز

کارشناسی سنجش و پایش کیفیت آموزشی

نام:	**نام آموزشگاه: قربان و حسنی بهرامی**			**ساعت شروع:**
نام خانوادگی:	**سؤالات امتحان درس: علوم تجربی**			**مدت آزمون: دقیقه**
پایه تحصیلی: هشتم	**نوبت: اول**	**شماره صندلی:**	**تعداد صفحه: ۳**	**تاریخ آزمون: ۱۴۰۳/۱۰/۱۰**

تعداد سئوال در صفحه

ردیف	سـؤالات	بارم
۱	**جاهای خالی را با کلمات مناسب کامل کنید** الف) در خاک باغچه،ماده ای هست که کمک می کند سوختن قند آسان تر انجام شود.این ماده .....نام دارد.(آنزیم-کاتالیزگر) ب) عناصری که عدد اتمی یکسان اما عدد جرمی متفاوت دارند ..... می نامیم. (یون –ایزوتوپ) ج) به مجموع استخوان،غضروف واتصالات آن در بدن .....می گویند. (رباط – اسکلت) د) دنا درون یاخته ،رشته هایی به نام ..... می سازد. (فام تن – ژن)	۱
۲	**صحیح یا غلط بودن عبارات زیر را مشخص کنید.** الف) در شرایطی که گاز اکسیژن برای سوختن خیلی کم باشد،گاز کربن دی اکسید تولید می شود. ص ☐ غ ☐ ب)محل اتصال استخوانها به یکدیگر را غضروف می گویند. ص ☐ غ ☐ ج) تنظیم هورمونی نسبت به تنظیم عصبی سرعت بیشتری دارد. ص ☐ غ ☐ د) صفات ثانویه ی جنسی با دخالت هورمون های جنسی انجام می شود. ص ☐ غ ☐	۱
۳	**گزینه صحیح را انتخاب کنید.** **الف) کدام یک از مواد زیر یک محلول است؟** **۱) دوغ ☐ ۲) سکه طلا ☐ ۳) شربت خاکشیر ☐ ۴) شربت آنتی بیوتیک ☐** **ب) محلولی که PH آن کمتر از ۴ باشد ..... است.** **۱) خنثی ☐ ۲) اسیدی ☐ ۳) بازی ☐ ۴) تلخ ☐** **ج) مرکز شنوایی در کدام قسمت قشر مخ قرار دارد؟** **۱) پس سری ☐ ۲)آهیانه ☐ ۳)گیجگاهی ☐ ۴)پیشانی ☐** **د) در ساخته شدن هورمون غده تیروئید ..... به کار می رود.** **۱)فسفر ☐ ۲)ید ☐ ۳) کلسیم ☐ ۴)آهن ☐**	۱
۴	۱) برای جداسازی مخلوط های زیر از چه وسیله ای استفاده می شود؟ **الف) یاخته های خون از خوناب : .....** **ب) دو مایع با نقطه جوش متفاوت: .....**	۰/۵

www-kanoon.ir

باسمه‌تعالی

مدیریت آموزش و پرورش شهرستان بندرگز

کارشناسی سنجش و پایش کیفیت آموزشی

نام:	**نام آموزشگاه: قربان و حسنی بهرامی**			**ساعت شروع:**
نام خانوادگی:	**سؤالات امتحان درس: علوم تجربی**			**مدت آزمون: دقیقه**
پایه تحصیلی: هشتم	**نوبت: اول**	**شماره صندلی:**	**تعداد صفحه: ۳**	**تاریخ آزمون: ۱۴۰۳/۱۰/۱۰**

تعداد سئوال در صفحه

۵	آوینا دوست دارد ماهی تازه ای را که خریده ،برای مدت طولانی نگهداری کند، فروشنده به او میگوید:برای اینکه ماهی بیشتر زنده بماند ،باید اکسیژن کافی در آب باشد. به نظر شما آوینا باید ماهی را در کدام ظرف نگهداری کند ؟چرا؟ دمای ظرف (۱) : ٤ درجه سلسیوس دمای ظرف (۲):۱۰ درجه سلسیوس  (۱) (۲)	۰/۷۵
۶	سه شرط لازم برای سوختن (مثلث آتش) را نام ببرید.	**۰/۷۵**
۷	در واکنش زیر جای خالی را پر کنید،سپس واکنش دهنده و فراورده را مشخص کنید. گاز کربن دی اکسید + ---------- ⟶ اسیدهای موجود در قرص جوشان + ----------	**۱**
۸	شکل زیر مدل بور را برای دو عنصر نشان می دهد. (پروتون ●) (نوترون ○) (الکترون ◯) الف) کدام ذره یون است؟ چرا ؟ ب) نوع بار یون را مشخص کنید. ج) نماد شیمیایی اتم خنثی را به همراه عدداتمی و جرمی آن بنویسید.(اتم فرضی را با A نشان دهید.) 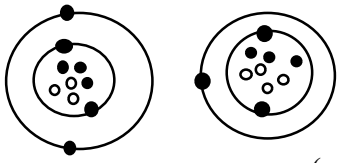	۱/۵
۹	نقشه مفهومی داده شده را کامل کنید. دستگاه عصبی مرکزی ← مغز ← مخ مغز ← ..... دستگاه عصبی مرکزی ← ..... دستگاه عصبی مرکزی ←	۰/۷۵
۱۰	مریم در حال خیاطی بود که ناگهان سوزن خیاطی به دستش فرورفت ،او به سرعت دستش را عقب کشید. الف) این واکنش مریم چه نام دارد ؟ ب) دو ویژگی مهم این واکنش چیست؟	۰/۷۵
۱۱	استخوان ها نقش های زیادی در بدن دارند . الف) دو مورد از وظایف استخوان ها را نام ببرید . ب) در ماده زمینه استخوان چه موادی وجود دارد؟ ۱) ..... ۲) ..... ج) انواع بافت استخوانی را نام ببرید . ۱) ..... ۲)	۲

www-kanoon.ir

باسمه‌تعالی

مدیریت آموزش و پرورش شهرستان بندرگز

کارشناسی سنجش و پایش کیفیت آموزشی

نام:	**نام آموزشگاه: قربان و حسنی بهرامی**			**ساعت شروع:**
نام خانوادگی:	**سؤالات امتحان درس: علوم تجربی**			**مدت آزمون: دقیقه**
پایه تحصیلی: هشتم	**نوبت: اول**	**شماره صندلی:**	**تعداد صفحه: ۳**	**تاریخ آزمون: ۱۴۰۳/۱۰/۱۰**

تعداد سئوال در صفحه

۱۲	جدول را کامل کنید. 	انواع ماهیچه (نوع)	اسکلتی	.....	قلبی
---	---	---	---
عمل	.....	غیرارادی	.....
محل	دست و پا و...	.....	قلب		۱
۱۳	زهرا دچار بیماری قند(دیابت) شده است. پزشک به او گفته :یکی از هورمون های بدنش کم ترشح شده و قند خونش افزایش یافته است. الف) نام این هورمون چیست؟ ب) این هورمون از کدام غده بدن ترشح می شود ؟ ج) این هورمون ، قند خون اضافه(گلوکز) را به چه صورت در کبد ذخیره می کند؟	۰/۷۵
۱۴	هر یک از صفات زیر را کدام یک از عوامل ارثی ، محیطی یا ارثی محیطی تعیین می کنند. الف) تغییر رنگ موی خرگوش در اثر سرما (.....) ب) رنگ آبی روشن چشم در بعضی افراد (.....) ج) ایجاد چال گونه (.....) د) بیماری سکته قلبی (.....)	۱
۱۵	الف) شکل مقابل چه نوع تقسیم را نشان می دهد ؟ ب) دو ویژگی این نوع تقسیم را بنویسید. 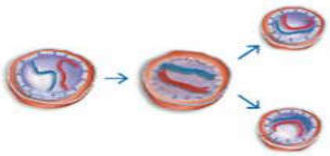	۱/۲۵

مصحح اول	**مصحح دوم(تجدیدنظر)**	**مصحح سوم(تجدیدنظر)**
نمره با عدد:	نمره با عدد:	نمره با عدد:
نمره با حروف:	نمره با حروف:	نمره با حروف:
نام و نام‌خانوادگی:	نام و نام‌خانوادگی:	نام و نام‌خانوادگی:
تاریخ:	تاریخ:	تاریخ:
امضا	امضا	امضا

((موفق باشید))

حسینی