Kanoon.ir

شما با دانلود این نمونه سوال، کد تخفیف خرید کتاب از سایت کانون بوک دریافت می کنید.

برای دریافت کد جایزه خود، عدد 33 را به سر شماره 90008451 ارسال کنید.



تمرین بیشتر نمونه سوالات امتحانی با کتاب های پرتکرار

همین حالا جایزه خود را دریافت کنید.

kanoonBook.ir

www.kanoon.ir

نام:	بسمه تعالی	تاریخ ارزشیابی: ۰۸ / ۱۰ / ۱۴۰۳
نام خانوادگی:	**وزارت آموزش و پرورش**	مدت ارزشیابی: ۶۰ دقیقه
نام پدر:	**اداره کل آموزش و پرورش استان خوزستان**	نام آموزشگاه: شاهدنور
شماره:	**مدیریت اداره آموزش و پرورش شهرستان دزفول**	تعداد سوالات: ۱۹
طراح سوال: آیرمی	مهر آموزشگاه	شماره صفحه: ۱ از ۴

نمره به عدد: نمره به حروف: امضاء مصحح:

سوالات ارزشیابی درس علوم تجربی نوبت اول پایه هشتم در دی ماه سال تحصیلی ۱۴۰۴-۱۴۰۳

ردیف	صفحه: ۱ از ۴	بارم تصحیح	بارم سوال
۱	صحیح یا غلط بودن جملات زیر را مشخص کنید.		۰/۷۵
الف	با افزایش دما همیشه میزان حل‌شدن، حل شونده در حلال افزایش می‌یابد. ص ◯ غ ◯		
ب	۷۰درصد هوا را گاز اکسیژن تشکیل می‌دهد. ص ◯ غ ◯		
ج	اعصاب حسی پیام عصبی را از اندام‌ها به مراکز عصبی می‌برد. ص ◯ غ ◯		
۲	در جمله های زیر یک غلط علمی وجود دارد آن‌را مشخص کرده و صحیح آن‌را بنویسید.		۱
الف	-در اثر سوختن چوب و گاز در اتاقی که هوا درآن جریان ندارد علاوه بر کربن‌دی‌اکسید و بخارآب گاز نیتروژن نیز تولید می‌شود. غلط:---------- صحیح:----------		
ب	-تولیدمثل جنسی در جانداران تک‌یاخته‌ای، نوع رایج و معمول تولیدمثل است. غلط:---------- صحیح:----------		
۳	کدامیک از موارد زیر سوسپانسیون یا تعلیقه است؟ الف) آب و روغن ☐ ب) آب‌نمک ☐ ج) دوغ ☐ د) آب‌مقطر ☐ چـــــــرا؟		۰/۷۵
۴	با توجه به شکل مقابل سوالات زیر را پاسخ دهید.		۰/۵
الف	نشان‌دهنده کدام وسیله آزمایشگاهی است؟		
ب	برای جداسازی چه مخلوطی کاربرد دارد؟		



www.kanoon.ir

ردیف		بارم تصحیح	بارم سوال
۵	اصطلاحات زیر را تعریف کنید.		
الف	تغییرات گرماده:		۰/۵
ب	رباط:		۰/۵
۶	پاسخ درست را در نقطه‌چین قرار دهید.		۱
الف	موادی که‌سبب می‌شوند تغییرات شیمیایی دربدن موجودات زنده سریع‌تر انجام‌شود-- نام دارد.(اکسیژن/آنزیم)		
ب	بندبازان‌وافرادی که ژیمناستیک کارمی‌کنند، با تمرین بیشتر،---- (مخچه / ساقه مغز) خودرا تقویت کرده‌اند.		
ج	تعداد کروموزوم‌های بدن انسان ---- (۴۸ / ۴۶) عدد است.		
د	درواقع ژن‌ها از طریق تولید---- (لیپید / پروتئین) نقش خود را در ایجاد صفات مختلف ایفا می‌کند.		
۷	جدول مقابل را کامل کنید.		۱/۲۵

مدل اتمی بور

عنصر	$^{11}_{5}B$
تعداد پروتون	
تعداد الکترون	
تعداد نوترون	

۸	باتوجه به نشانه‌های شیمیایی مقابل به سوالات زیر پاسخ دهید. $^{12}_{6}C$ $^{13}_{6}C$ $^{14}_{6}C$		۰/۷۵
الف	نشان‌دهنده چه چیزی از عنصر کربن است؟		
ب	آن‌را تعریف کنید.		
۹	ویژگی‌های موجودات زنده توسط چه عواملی کنترل می‌شود؟		۰/۵
۱۰	نام قسمت‌های مشخص شده را بنویسید.		۰/۷۵

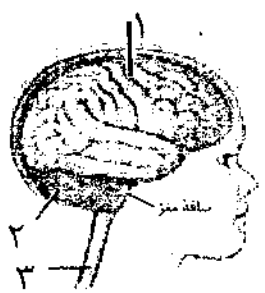

۱. ----------

۲. ----------

۳. ----------

www.kanoon.ir

ردیف	صفحه ۳ از ۴	بارم تصحیح	بارم سوال
۱۱	نام قسمت‌های مشخص شده را بنویسید.  ۱. جسم یاخته‌ای ۲. --------- ۳.----------		۰/۵
۱۲	موارد مرتبط در ستون الف و ب را به کمک خط به هم وصل نمایید. (یک مورد در ستون الف اضافه می‌باشد) الف: الف) حس بینایی؛ ب) حس شنوایی؛ ج) حس چشایی؛ د) حس بویایی ب: ۱) در قسمت جلوی نیم‌کره‌های مخ؛ ۲) در قسمت گیج‌گاهی قشر مخ؛ ۳) در قسمت پس‌سری قشر مخ		۰/۷۵
۱۳	جدول زیر را کامل کنید. ماهیچه: اسکلتی — رنگ ماهیچه: قرمز — عمل: ارادی — محل: --- ماهیچه: قلبی — رنگ ماهیچه: قرمز — عمل: --- — محل: قلب ماهیچه: صاف — رنگ ماهیچه: --- — عمل: غیر ارادی — محل: ---		۱
۱۴	نام غدد زیر را بنویسید.  ---------  ---------		۰/۵
۱۵	در شکل‌های زیر کدام مربوط به تولیدمثل باکتری و کدام مربوط به تولیدمثل مخمر است؟ 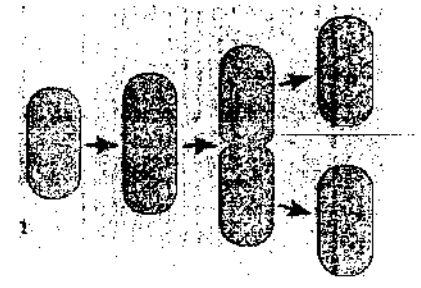 ----------  ----------		۰/۵

www-kanoon-ir

ردیف		بارم تصحیح	بارم سوال
۱۶	نمودار مفهومی زیر را کامل کنید ۱. ---------- ۲. ---------- ۳. ---------- 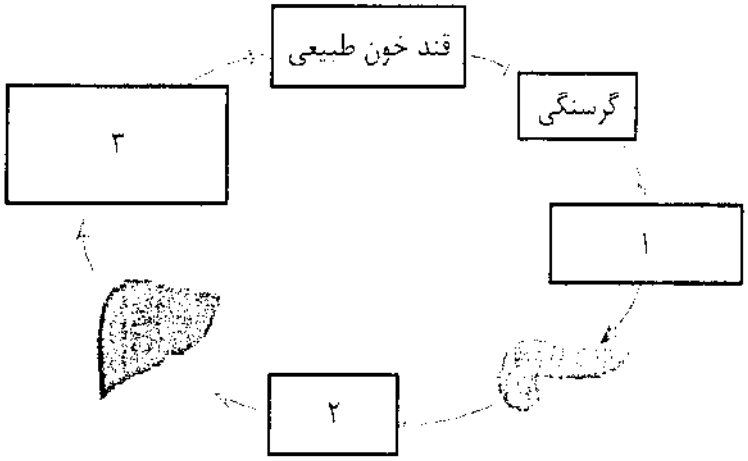		۰/۷۵
۱۷	درباره شکل مقابل به سوالات زیر پاسخ دهید. الف نام تقسیم سلولی:---------- ب نقش و کاربرد این تقسیم سلولی: ---------- 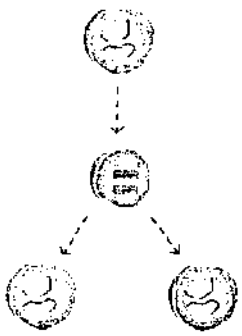		۰/۷۵
۱۸	تغییر شیمیایی زیر را کامل کرده و **واکنش‌دهنده** و **فراورده** آن‌را مشخص کنید. گرما و نور + ---------- + گاز کربن دی اکسید $\xrightarrow{\text{گرما}}$ ---------- + شمع (هیدروکربن)		۱
۱۹	تفاوت برنج طلایی و برنج معمولی در چیست؟		۱

موفقیت هرچه بیشتر شما آرزوی قلبی من است

آیرمی