Kanoon.ir

شما با دانلود این نمونه سوال، کد تخفیف خرید کتاب از سایت کانون بوک دریافت می کنید.

برای دریافت کد جایزه خود، عدد 33 را به سر شماره 90008451 ارسال کنید.



تمرین بیشتر نمونه سوالات امتحانی با کتاب های پرتکرار

همین حالا جایزه خود را دریافت کنید.

kanoonBook.ir

www.kanoon.ir

شماره داوطلب :8149 نام :**آرشیدا** نام خانوادگی :**ناجی مزدوران** کلاس :**۸۰۵** نام آموزشگاه : **مصلی نژاد حضرت زهرا (س)** نوبت : دی ماه ۱۴۰۳	«ای نام تو بهترین سرآغاز» **اداره کل آموزش وپرورش خراسان رضوی** آموزش وپرورش ناحیه ۳ مشهد سوالات آزمون **پایه هشتم** (متوسطه اول) **درس : آزمایشگاه علوم تجربی**	تاریخ امتحان: ۲۳ / ۱۰ / ۱۴۰۳ مدت امتحان: ۴۵ دقیقه ساعت شروع : تعداد صفحات : ۱ تعداد سوال : ۸ نام طراح سوالات:گروه علوم تجربی

ردیف	سوالات	بارم
۱	نام و کاربرد وسیله مقابل را بنویسید. نام : ..... کاربرد : ..... 	۰/۵
۲	کاربرد کاغذ PH چیست؟	۰/۵
۳	واکنش قرص جوشان در آب یک واکنش گرماگیر است یا گرماده؟ چگونه پی می بریم؟	۰/۵
۴	باتوجه به شکل های روبرو کدام الکتروسکوپ باردار است؟ چرا؟ 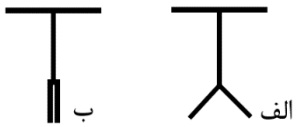	۰/۵
۵	آزمایشی طراحی کنید که نحوه ساخت فنر مغناطیسی را توضیح دهد.	۱
۶	در شکل مقابل، میخ به روش الکتریکی، آهن ربا شده است. در محل هایی که با علامت (؟) مشخص شده است قطب ها را تعیین کنید. 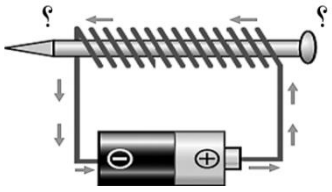	۰/۵
۷	سوگند در آزمایشگاه مدرسه در حال تشریح چشم گاو است. او هنگام تشریح چشم، ابتدا لایه ای سفید رنگ و محکم را مشاهده کرد. دبیر علوم، این لایه را خارجی ترین لایه چشم و از جنس بافت پیوندی معرفی کرد. به نظر شما این لایه چه نام دارد و یک وظیفه مهم آن چیست؟ 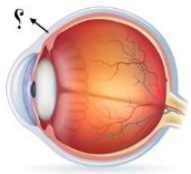	۰/۵
۸	مریم در یک آزمایش ساده، در حال بررسی تأثیر سرکه و حرارت بر استخوان است. او دو استخوان بال مرغ مشابه را انتخاب می کند. یک استخوان را به مدت یک هفته در سرکه قرار می دهد و استخوان دیگر را روی شعله حرارت می دهد. به نظر شما، الف) استخوان درون سرکه چه تغییری می کند؟ علت آن چیست؟ ب) حرارت شعله چه تأثیری بر استخوان دارد؟ علت آن چیست؟	۱

دبیرستان دوره اول مصلی نژاد حضرت زهرا(س)