Kanoon.ir

شما با دانلود این نمونه سوال، کد تخفیف خرید کتاب از سایت کانون بوک دریافت می کنید.

برای دریافت کد جایزه خود، عدد 33 را به سر شماره 90008451 ارسال کنید.



تمرین بیشتر نمونه سوالات امتحانی با کتاب های پرتکرار

همین حالا جایزه خود را دریافت کنید.

kanoonBook.ir

www.kanoon.ir

باسمه تعالی

سوالات امتحان درس: زیست	اداره آموزش و پرورش ناحیه ۶مشهد مقدس		**آموزشگاه : سبلان علم**
نوبت دوم : دیماه ۱۴۰۳	پایه: هشتم	کلاس:	تاریخ امتحان : ۱۰/۱۷
نام ونام خانوادگی دانش آموز:	شماره صندلی :	تعداد سوالات: ۶	تعدادصفحات :
	نام دبیر: آزاد	مدت امتحان: ۹۰ دقیقه	ساعت شروع :۹صبح

مخصوص الصاق مهر دبیرستان

ردیف		بارم
۱	**جاهای خالی را با کلمات مناسب پر کنید.** الف – بخش پایینی مغز که مخ و مخچه را به نخاع متصل می کند، ..... نام دارد. ب – در بافت عصبی یاخته هایی که به یاخته ی عصبی کمک میکنند ، ..... نام دارند. پ – بیماری دیابت به میزان ترشح هورمون ..... مرتبط است. ت – غضروف نوعی بافت ..... میباشد.	1
۲	**درست یا نادرست بودن عبارات زیر را <u>بدون ذکر دلیل</u> مشخص کنید.** الف – غده تیروئید با ترشح هورمون رشد ، موجب رشد استخوان ها می شود. ب – در افرادی که نخاع آنها آسیب دیده میزان ناتوانی حسی و حرکتی یکسان است. پ – درک حواس در اندامهای حسی انجام می شود. ت – مفصل بین بازو و شانه فقط در یک جهت خاص حرکت می کند.	۱
۳	**به پرسشهای زیر پاسخ دهید.** الف – در مخ ، لوب پس سری با کدام لوبها مرز مشترک دارد؟ ۰/۵ ب – منظور از این جمله چیست؟ ((ماهیچه ها عمل متقابل دارند.)) ۰/۵ پ – تاندون (زرد پی) چیست؟ ۰/۵ ت – سوختن چه تاثیری بر استخوان دارد؟چرا؟ ۰/۵	۲
۴	**نام بخشهای شماره گذاری شده را بنویسید.** 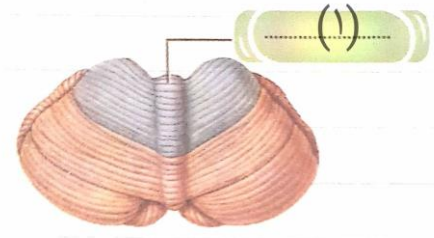 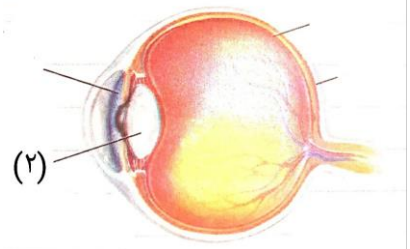 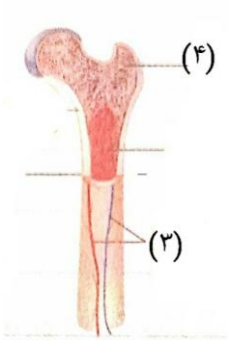 	۱

www-kanoon-ir

۵	در شکل روبرو در مرحله ۱ و ۲ چه اتفاقی می افتد؟ مرحله ۱: مرحله ۲ : 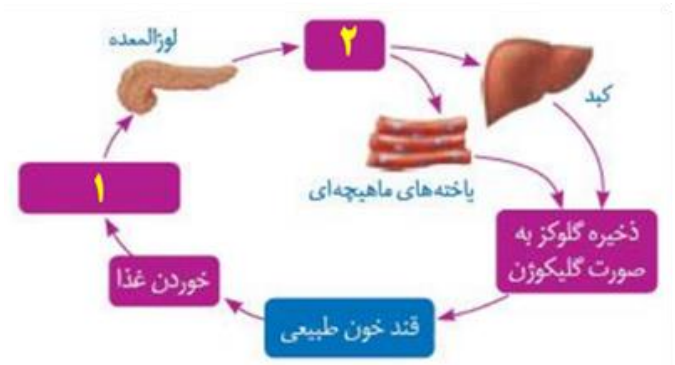 	0/5
۶	جاهای خالی را با کلمات مناسب کامل کنید 