Kanoon.ir

شما با دانلود این نمونه سوال، کد تخفیف خرید کتاب از سایت کانون بوک دریافت می کنید.

برای دریافت کد جایزه خود، عدد 33 را به سر شماره 90008451 ارسال کنید.



تمرین بیشتر نمونه سوالات امتحانی با کتاب های پرتکرار

همین حالا جایزه خود را دریافت کنید.

kanoonBook.ir

www.kanoon.ir

نام و نام خانوادگی:	امتحان علوم تجربی هشتم	مدت امتحان: 75 دقیقه
مقطع: متوسطه اول	نیم سال اول سال تحصیلی ۱۴۰۴-۱۴۰۳	تاریخ امتحان: ۱۴۰۳/۱۰/ ۱۵
شماره دانش آموزی:	نام استاد: جناب آقای حسین زاده	ساعت امتحان: ۰۹:۰۰ صبح

بسمه تعالی

ردیف	سوالات	بارم
۱	**جاهای خالی را با کلمات مناسب پر کنید:** **آ) هر محلول حداقل از دو جزء.....و.....تشکیل شده است.** **ب) سوختن تغییری شیمیایی است که با تولید ..... و ..... همراه است.** **پ) ماده ای که سبب افزایش سرعت واکنش شیمیایی می گردد .....نامیده شده و ..... تغییرات شیمیایی در بدن موجودات زنده را سرعت می بخشد.** **ت) به اندامی که اثر محرک خاصی را دریافت و به پیام عصبی تبدیل می کند ..... گفته می شود.** **ث) در داخلی ترین لایه چشم دو نوع یاخته گیرنده نوری به نام ..... و ..... وجود دارد.** **ز) در ساختار استخوان، بافت استخوانی به دو صورت ..... و ..... دیده می شود.** **و) نوعی بافت پیوندی که ماهیچه ها را به استخوان متصل می کند ..... نامیده می شود.**	۳
۲	**تشکیل ترکیب یونی منیزیم اکسید را با رسم شکل نشان داده و واکنش مربوطه را بنویسید: (عدد اتمی: Mg = 12 و O = 8)**	۱/۵
۳	**مغز از چه قسمتهایی تشکیل شده است؟ (سه بخش)**	/۷۵.

www-kanoon-ir

نام و نام خانوادگی:	امتحان علوم تجربی هشتم	مدت امتحان: 75 دقیقه
مقطع: متوسطه اول	نیم سال اول سال تحصیلی ۱۴۰۴-۱۴۰۳	تاریخ امتحان: ۱۴۰۳/۱۰/ ۱۵
شماره دانش آموزی:	نام استاد: جناب آقای حسین زاده	ساعت امتحان: ۰۹:۰۰ صبح

۴	**گزینه صحیح را مشخص کنید:** **آ) ..... نرم و قابل انعطاف است و مانع اصطکاک استخوان ها در مفاصل می شود.** **استخوان□ پوست□ رگ□ غضروف□** **ب) هورمون ..... سبب کاهش قند خون می گردد.** **انسولین □ رشد □ گلوکاگون □ تیرویید □** **پ) به دارینه ها یا آسه های بلند .....می گویند.** **عصب حسی □ عصب حرکتی □ تار عصبی □ آکسون □** **ت) محل اتصال استخوان ها به یکدیگر را .....می گویند.** **غضروف □ اسکلت □ مفصل □ تاندون □**	۲
۵	**اصطلاحات زیر را تعریف کنید:** **الف) مواد خالص :** **ب) عدد اتمی :** **پ) یون:**	۳

www-kanoon-ir

نام و نام خانوادگی:	امتحان علوم تجربی هشتم	مدت امتحان: 75 دقیقه
مقطع: متوسطه اول	نیم سال اول سال تحصیلی ۱۴۰۴–۱۴۰۳	تاریخ امتحان: ۱۴۰۳/۱۰/ ۱۵
شماره دانش آموزی:	نام استاد: جناب آقای حسین زاده	ساعت امتحان: ۰۹:۰۰ صبح

۶	شکل زیر ساختار اتمی یک ذره را بر اساس مدل بور نشان می دهد: آ) این ساختار به یک اتم خنثی، یون مثبت یا منفی تعلق دارد؟ چرا؟ ب) نشانه شیمیایی این ذره را به همراه عدد اتمی و عدد جرمی آن بنویسید(نشانه اتم این ذره را A در نظر بگیرید) 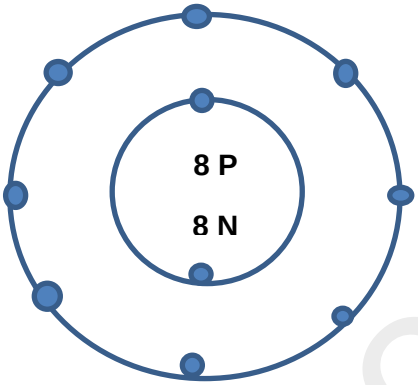 	۱/۵
۷	شکل زیر ساختمان چشم انسان را نشان می دهد بخش های مشخص شده را مشخص نمایید: 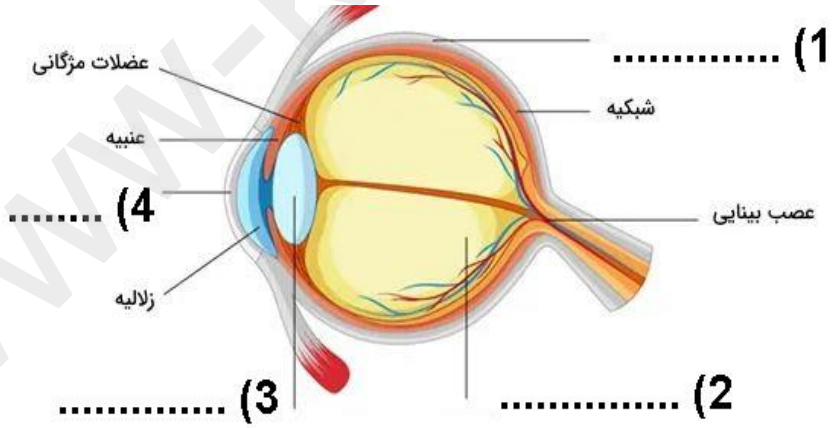 	۲
۸	آ) قند خون در بدن چگونه تنظیم می شود؟ ب) جا های خالی را در واکنش زیر کامل کنید: .... گلوکز گلوکاگون	۱/۵

www-kanoon-ir

نام و نام خانوادگی:	امتحان علوم تجربی هشتم	مدت امتحان: 75 دقیقه
مقطع: متوسطه اول	نیم سال اول سال تحصیلی ۱۴۰۴-۱۴۰۳	تاریخ امتحان: ۱۴۰۳/۱۰/ ۱۵
شماره دانش آموزی:	نام استاد: جناب آقای حسین زاده	ساعت امتحان: ۰۹:۰۰ صبح

9	بخش های تشکیل دهنده نخاع را بنویسید:	۰/۵
۱۰	آ) دستگاه عصبی به چند بخش تقسیم می شود؟ نام ببرید ب) واکنش انعکاسی (بازتابی) چیست؟	۱/۲۵
۱۱	واکنش زیر را کامل کنید: انرژی +..... + گاز کربن دی اکسید ⟶ گرما ..... + شمع (هیدروکربن)	۱
	در شکل زیر شماره ۱ و ۲ چه بخشی را نشان می دهد؟ 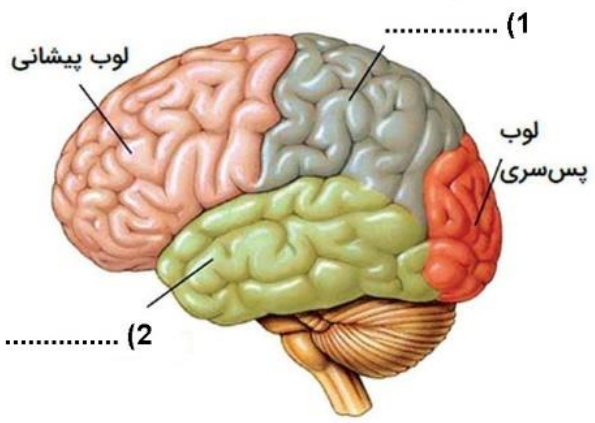 	۱
	ستایشگر معلمی هستم که به من اندیشیدن را بیاموزد نه اندیشه ها را.... شهید مطهری در پناه حق موفق باشید	۲۰