Kanoon.ir

شما با دانلود این نمونه سوال، کد تخفیف خرید کتاب از سایت کانون بوک دریافت می کنید.

برای دریافت کد جایزه خود، عدد 33 را به سر شماره 90008451 ارسال کنید.



تمرین بیشتر نمونه سوالات امتحانی با کتاب های پرتکرار

همین حالا جایزه خود را دریافت کنید.

kanoonBook.ir

www.kanoon.ir

باسمه تعالی

نام و نام خانوادگی:	**اداره کل آموزش و پرورش استان البرز**	**مدت امتحان: ۷۵ دقیقه**
نام درس: علوم	**آموزش و پرورش ناحیه دو کرج و شهرستان فردیس**	**تاریخ امتحان:۸ صبح**
پایه: هشتم	**مجتمع آموزشی غیردولتی دخترانه معرفت (دوره اول متوسطه)**	**ساعت شروع:۴۰۳/۱۰/۱۵**
کلاس:	**آزمون نیمسال اول (دی ماه ۱۴۰۳)**	**تعداد صفحات: ۳**

نمره به عدد..... **نمره به حروف .....** **نام خانوادگی و امضا دبیر:.....**

ردیف	تذکر :پاسخ سوالات را با استفاده از خودکار مشکی یا آبی در پاسخنامه بنویسید	بارم
۱	**در پرسش های زیر گزینه های صحیح را انتخاب کنید.** **۱.از سوختن شمع (پرافین)کدام ترکیب های زیر حاصل می شود؟** **الف)بخار آب و بخار پارافین ◯ ب) بخار آب و کربن دی اکسید ◯** **ج) کربن دی اکسید و کربن مونوکسید ◯ د) بخار آب و گاز مونوکسید ◯** **۲. کدام ذره بدون بار الکتریکی است ؟** **الف) الکترون ◯ ب) نوترون ◯ ج) پروتون ◯ د) هیچکدام ◯** **۳. کدام یک از اعمال زیر انعکاسی نیست ؟** **الف) دویدن ◯ ب)پلک زدن ◯ ج)ریزش اشک ◯ د) عطسه کردن ◯** **۴.کدام یک از مفصل های زیر حرکت محدودی دارد و جزو مفصل های متحرک است؟** **الف)آرنج ◯ ب)بازو و شانه ◯ ج)بین دنده ها و ستون مهره ها ◯ د)استخوان های جمجمعه ◯**	۱
۲	**در جاهای خالی کلمات مناسب بنویسید .** **۱.به مخلوط ناهمگن جامد در مایع .....می گویندکه ذرات جامد پس از مدتی ته نشین می شوند.** **۲.برای سوختن به ماده ی سوختنی ، ..... و ..... نیاز است.** **۳.مرکز حس بینایی در..... قشر مخ و مرکز حس شنوایی در..... قشر مخ است.** **۴.به اتم هایی که تعداد پروتون های یکسان اما تعداد نوترون های متفاوت دارند .....گفته می شود.**	۱/۵
۳	**درست یا نادرست بودن عبارات زیر را مشخص کنید .** **۱.برای جداسازی نفت از آب از قیف جدا کننده استفاده می کنند.** درست ◯ نادرست ◯ **۲.یاخته های گیرنده ی مخروطی در لایه ی داخلی چشم دید سیاه و سفید دارند.** درست ◯ نادرست ◯ **۳.غده ی تیروئید در کودکی باعث رشد بهتر اندام ها به ویژه مغز می باشد.** درست ◯ نادرست ◯ **۴.فام تن ها (کروموزم ها) در یاخته های در حال تقسیم دیده می شوند.** درست ◯ نادرست ◯	۱
۴	**به پرسش های زیر پاسخ کوتاه بدهید.** **۱.بافت پیوندی سفیدی که استخوان را به ماهیچه وصل می کند ؟(.....)** **۲. هورمون رشدکه از غده ی زیر مغزی هیپوفیز ترشح میشود بر کدام اندام بدن تاثیر می گذارد؟(.....)** **۳.اطلاعات موجود در دنا (DNA) در کدم قسمت آن سازماندهی می شود؟ (.....)** **۴.هورمون کاهنده ی قند خون چه نام دارد ؟(.....)**	۱/۵
۵	**مفاهیم زیر را تعریف کنید.** **۱.اسکلت :** **۲. رباط :**	۱
۶	**با توجه به شکل مقابل:** 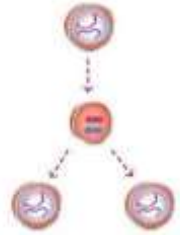 **الف) این تقسیم یاخته‌ای از چه نوعی است؟** **ب) تعداد کروموزوم‌ها بعد از تقسیم، چه تغییری کرده است؟** **پ) دو کاربرد این نوع تقسیم یاخته‌ای در بدن چیست؟**	۰/۷۵

www-kanoon-ir

باسمه تعالی		
نام و نام خانوادگی:	**اداره کل آموزش و پرورش استان البرز**	**مدت امتحان: ۷۵ دقیقه**
نام درس: علوم	**آموزش و پرورش ناحیه دو کرج و شهرستان فردیس**	**تاریخ امتحان:**
پایه: هشتم	**مجتمع آموزشی غیردولتی دخترانه معرفت (دوره اول متوسطه)**	**ساعت شروع:**
کلاس:	**آزمون نیمسال اول (دی ماه ۱۴۰۳)**	**تعداد صفحات: ۳**

نمره به عدد..... **نمره به حروف .....** **نام خانوادگی و امضا دبیر:.....**

ردیف	تذکر :پاسخ سوالات را با استفاده از خودکار مشکی یا آبی در پاسخنامه بنویسید.	بارم
۷	کنترل و تنظیم هر یک از اعمال زیر بر عهده کدام قسمت مغز است؟ الف)توانایی فکر کردن حرف زدن و حل مسئله (.....) ب) حفظ تعادل بدن (.....) ج)تنفس و ضربان قلب (.....)	۰/۷۵
۸	با توجه به مدل بور در شکل رو به رو به سوالات زیر اسخ دهید.(دایره های قرمز پروتون هستند.) الف) عدد اتمی : ب) عدد جرمی : ج) این ذره متعلق به یک یون است یا اتم خنثی ؟چرا 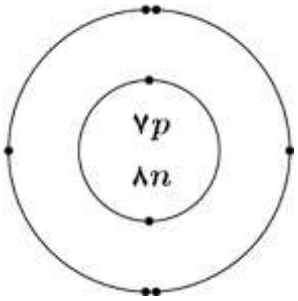	۰/۷۵
۹	از وجود بو در محیط چگونه آگاه می‌شویم ؟	۱
۱۰	نقشه مفهومی زیر را کامل کنید؟ 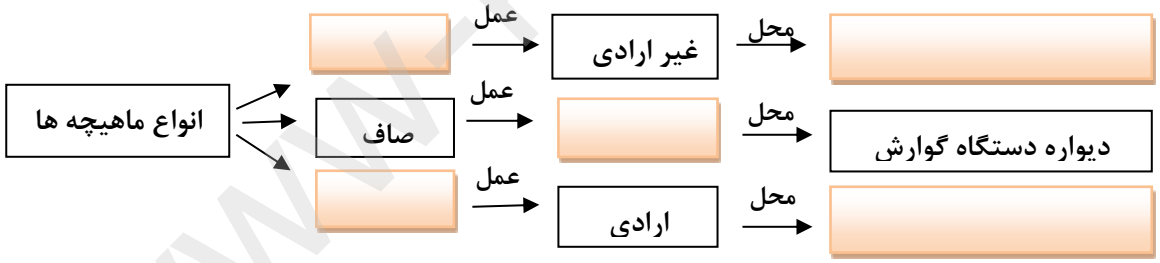	۲/۵
۱۱	تنظیم هر یک از فعالیت های زیر را با غدد مرتبط آن وصل کنید .	۱

الف	ب
فوق کلیه	تنظیم فعالیت های سایر غدد
تیروئید	تنظیم سوخت و ساز مواد در یاخته های بدن
لوزالمعده(پانکراس)	مقابله با فشارهای روحی و جسمی
هیپوفیز	افزایش یا کاهش قند خون

www.kanoon.ir

باسمه تعالی		
نام و نام خانوادگی:	**اداره کل آموزش و پرورش استان البرز**	**مدت امتحان: ۷۵ دقیقه**
نام درس: علوم	**آموزش و پرورش ناحیه دو کرج و شهرستان فردیس**	**تاریخ امتحان:**
پایه: هشتم	**مجتمع آموزشی غیردولتی دخترانه معرفت (دوره اول متوسطه)**	**ساعت شروع:**
کلاس:	**آزمون نیمسال اول (دی ماه ۱۴۰۳)**	**تعداد صفحات: ۳**

نمره به عدد..... **نمره به حروف .....** **نام خانوادگی و امضا دبیر:.....**

ردیف	تذکر :پاسخ سوالات را با استفاده از خودکار مشکی یا آبی در پاسخنامه بنویسید.	بارم
۱۲	شکل زیر یک یاخته عصبی را نشان می‌دهد نام قسمت‌های خواسته شده را بنویسید. 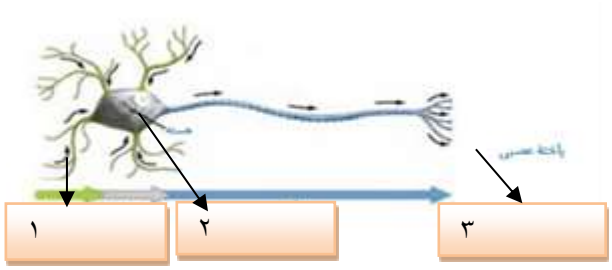	۰/۷۵
۱۳	توده های سرطانی چگونه تشکیل می شوند؟	۰/۵
۱۴	در ساختار استخوان، دو نوع بافت وجود دارد. آن‌ها را بر روی شکل، مشخص کنید. ب) دو مورد از وظایف استخوان را بنویسید. 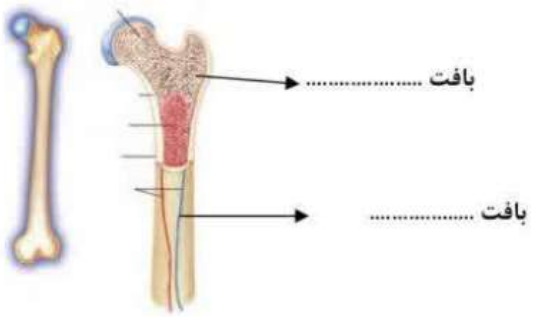	۱
	طراح :پری سیدحسینی دانش آموزان عزیزم موفق باشید	۱۵