Kanoon.ir

شما با دانلود این نمونه سوال، کد تخفیف خرید کتاب از سایت کانون بوک دریافت می کنید.

برای دریافت کد جایزه خود، عدد 33 را به سر شماره 90008451 ارسال کنید.



تمرین بیشتر نمونه سوالات امتحانی با کتاب های پرتکرار

همین حالا جایزه خود را دریافت کنید.

kanoonBook.ir

www.kanoon.ir

امتحانات نوبت اول

دبیرستان سما2دختران (دوره اول)

سال تحصیلی : 1403-1404

نام و نام خانوادگی:	**پای‌ه: هشتم**	**تاری‌خ:** 1403/10/8
نام درس: فی‌زی‌ک	**نام دبی‌ـــر: خانم مختاری**	**مدت زمان:**
دقی‌قه تعداد سوالات:01	**کلاس:**	**صفحه:** 0
از 3		

سوال	عنوان سوال	بارم
1	**جاهای خالی را با کلمات مناسب پر کنی‌د.** **الف**- در حالت خنثی همواره تعداد پروتون های ی‌ک اتم با تعداد .....آن برابر می باشددد.وتوترون- الکترون ها(**ب**- به قسددمت هایی در آهر ربا ه خاتددغت می‌نا غسددی بغاددتری دارد .....می وی‌ند . وقطب های آهنربا- خطوط مغدان می‌نا غسی(**پ**- در فلزات ب ه الکترون ه ایی ه وابسددتکی بسددغ ار می ب ه هسددت ه اتم دارت د الکترون ه ای .....می وی‌ند. ووابسته- آزاد(**ت**- برای حفداتدت خددداختمدان هدای بلندد از خطر برخورد آ رخل از مغلده ی فلزی تو تغزی به تا .....اختفاده می شود.وبرق غر- برق تما(	1
2	**عبارت های درست و نادرست را مشخص کنی‌د.** ص غ **الف**-ا ر آهنربای مغله ای را دو تکه نغم هر تکه آن ی‌ک آهنربا تغست . ... **ب**-دو عامل تضعغف آهنربا ضربه و حرارت اخت. .... **پ**-مقاومت الکتری‌کی رخاتا ها را به وخغله ولت خنج اتدازه غری می نند . ... **ت**-در ی‌ک رخاتا همغاه تجمع بار در تقاط تو تغز و برجسته بغاتر اخت.	1

www-kanoon-ir

3	**کدام شکل نحوه اتصال آمپر سنج و ولت سنج را در مدار به درستی نشان می دهد؟** 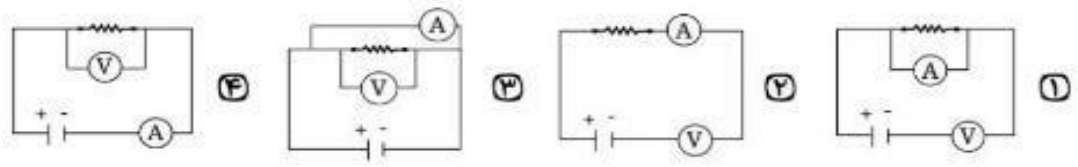 زی‌را.....	5.0
4	در شکل رو به رو ولتاژ دو خر مقاومت 44 ولت و جری‌ان عبوری از آن 21 آمپر اخت. اتدازه مقاومت را حساب نغد.و**فرمول و واحد فراموش نشود**(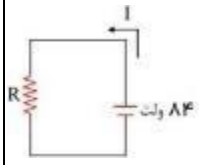	5.70

سوال	عنوان سوال	بارم
0	در شکل زی‌ر بار تهایی ره چغست؟و**روی شکل نشان دهی‌د**( **زی‌را**.....	5.0
6	**آهنربای‌ی مطابق شکل زی‌ر شکسته می شود.** **الف**- قطب های قطعه 2 به چه تورت خواهد شد؟ 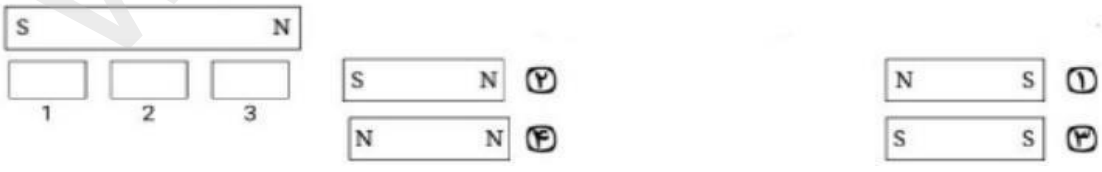 **ب**- قدرت آهنربای 2 تسبت به آهنربای شکسته تاده..... اخت. وضعغف تر- قوی تر(	5.0

7	**شکل مقابل** 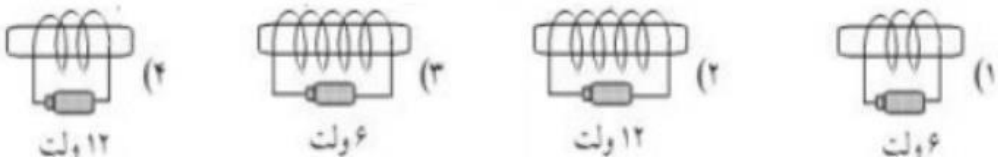 **ی‌کی از روش های ساخت آهنربا را نشان می دهد** **الف**- تا ای‌ر روش چغست؟ **ب**- دا شکل آهنربای قوی‌تری را تاان می دهد؟چرا؟ زی‌را..... ..... **پ**- جهت قطب های آهنربای الکتری‌کی به جهت.....بستکی دارد.وجری‌ان قراردادی- جری‌ان واقعی(	1
4	**مطابق شکل زی‌ر آهنربای‌ی را روی ی‌ک قطعه آهن از سمت چپ به راست مالش می دهی‌م.** 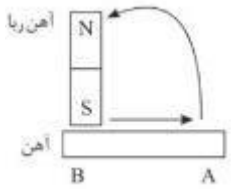 **الف**- تقطه A بر اثر مالل به چه قطب هایی تبدی‌ل می شوتد؟ **ب**- علت آهنربا شدن آهر بر اثر مالل دا مورد زی‌ر اخت؟ 1-هم جهت شدن دوقطبی ها 2- غغر هم جهت شدن دو قطبی ها	5.0
9	**در شکل مقابل چند می‌خ به ی‌ک آهنربا وصل شده اند.اگر ی‌کی از می‌خ ها را با فندک زی‌اد گرم کنی‌م برای می‌خ های بعدی اتفاقی می افتد؟**  **الف**- می افتد **ب**- خرخ می شود **ج**- وب می شود **د**- ثابت می ماتد	5.0

www-kanoon-ir

15	علی به مک ی‌ک آهنربا و تعدادی مغخ مطابق شکل **ی‌ک زنجی‌ره ی مغناطی‌سی** خاخته اخت. **الف**- تا ای‌ر روش .....اخت.والقا- مالل(**ب**-تا قطب های خواخته شده را روی شکل ماخص نغد؟	5.70

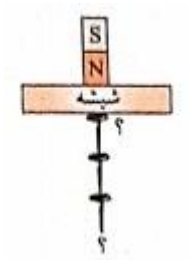

تمره ل بر ه به عدد:		تا مصحح:
تمره ل بر ه به حروف:		امضا