نام و نام خانوادگی دانش آموز:	باسمه تعالی اداره کل آموزش و پرورش استان گیلان مدیریت آموزش و پرورش منطقه لشت نشا دبیرستان دوره اول فردوس	مدت آزمون: تاریخ آزمون: ۱۴۰۴/۱۰/۶ آزمون درس: علوم تعداد صفحه:
نام دبیر:		
پایه: هشتم		

ردیف	سوالات	بارم
۱	صحیح یا اشتباه بودن جملات زیر را مشخص کنید الف- سوختن مواد تنها راه استفاده از انرژی شیمیایی ذخیره شده در موارد است. ب-سوسپانسیون(تعلیقه) نمونه ای از مخلوط همگن است. ب-خاصیت اسیدی کیوی از موز بیشتر است در نتیجه پی اچ کیوی زیر ۷ است. پ-انحلال پذیری گازها در آب با افزایش دما کاهش می یابد.	۱
۲	جملات زیر را با کلمات مناسب پر کنید الف-یاخته های .....در لایه شبکیه چشم قرار دارند ودر دیدن جزییات و رنگها نقش دارند. ب-ماهیت هورمون برخلاف پیام عصبی .....است. پ- یکی از کاربردهتی ایزوتوپ پرتوزا تشخیص ..... می باشد. ت-وقتی یک ماده دچار تغییر شیمیایی میشود .....آن تغییر میکند. ث-غضروف و استخوان از نوع بافت .....هستند. ج-غده .....با ترشح برخی از هورمونهابر فعالیت سایر غده ها و همچنین رشد نظارت دارد	۱.۵
۳	با توجه به شکل زیر به پرسش های مطرح شده پاسخ دهید. 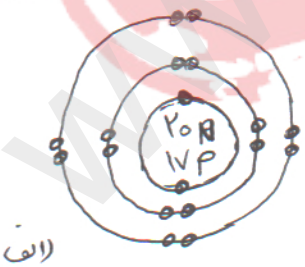 (الف)  (ب)	۲

ذره	بار ذره	عدد جرمی
الف		
ب		

Note: Trial Version draws watermark on output pdf pages.

	الف- جدول بالا را کامل کنید. ب-با توجه به اینکه ذره های سازنده نمک خوراکی یا سدیم کلرید یون مثبت سدیم و یون منفی کارید است. نماد شیمیایی این دو عنصر را بنویسید.	
۴	عامل ایجاد توده سرطانی چیست؟دو مورد از عوامل محیطی موثر در تشکیل توده سرطانی را بنویسید.	۲
۵	شکل مقابل مربوط به کدام نوع یاخته است؟ شماره ۲ کدام قسمت را نشان میدهد؟ جهت جریان عصبی در نورون چگونه است؟ شماره ۱و۳نشان دهنده کدام قسمت است؟ 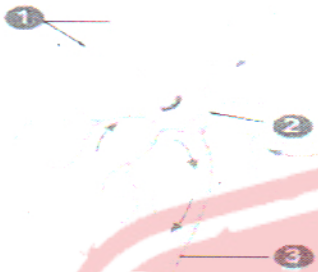 	۱/۲۵
۶	سحر به دلیل ورود یک جسم خارجی به نای بطور غیر ارادی شروع به سرفه کردن می کند:  الف)این نوع فعالیت از کدام نوع است؟ ب)مرکز کنترل این اعمال در کجا قرار دارد؟ ج)دو ویژگی این نوع فعالیت ها را بنویسید؟	۱,۲۵
۷	هر عبارات ستون(الف) را به یک ستون(ب) متصل کنید(در ستون (ب) یک مورد اضافی است)	۱

مفصل جمجمه	تیروئید
بافت هدف غده پاراتیروئید	ثابت
تنظیم سوخت وساز بدن	فوق کلیه
مقابله با استرس و فشار های روحی	استخوان
	لولایی

۸	در مورد تقسیم سلولی میتوز(رشتمان)به سوالات زیر پاسخ دهید. الف)مراحل تقسیم میتوز را رسم کنید یا توضیح دهید. ب)دومورد از کاربرد های این تقسیم را بنویسید.	۲

FREE TRIAL
www.Rahoonar

Note: Trial Version draws watermark on output pdf pages.

	پ)بگوئید اگر یک سلول ۴۶ کروموزومی، چهار بار تقسیم میتوز انجام دهد چند سلول ایجاد می شود و هر کدام چند کروموزوم دارند؟	
۹	نمودار زیر را کامل کنید. انواع ماهیچه ماهیچه صاف ماهیچه اسکلتی ماهیچه قلبی رنگ: عملکرد:	۳

FREE TRIAL
www.Ranoo.ir

Note: Trial Version draws watermark on output pdf pages.

پایه هشتم :

۱- نادرست - نادرست - درست - درست

۲- مخروطی - شیمیائی - بیماری - خصوصیات - پیوندی - هیپوفیز

۳- الف) بار ذره = ۱- ، عدد جرمی = ۱۷+۲۰ = ۳۷

ب) بار ذره = ۲+ ، عدد جرمی = ۱۳+۱۲ = ۲۵

۳- سدیم : Na کلر : Cl

۴- رشد بی رویه سلول ها - تغذیه نامناسب ، ورزش نکردن و نداشتن تحرک کافی ، نور خورشید و ...

۵- سلول عصبی (نورون) - جسم سلولی - از دندریت (دارینه) به سمت آسه (آکسون) - انشاندهنده دندریت و ۳ نشان دهنده آکسون است .

۶- انعکاسی - بصل النخاع - سریع و بدون فکر و اراده و برای حفظ سلامتی بدن

۷- ثابت - استخوان - تیروئید - فوق کلیه

۸- رشته های دنا دو برابر شده و سپس کلاغی می شوند و سپس یک سلول به دو سلول کامل تبدیل می شود.
رشد سلول ها و ترمیم بافت آسیب دیده - $۲^۴=۱۶$ سلول ۴۶ کروموزومی

۹-

صورتی - قرمز - قرمز و سفید

غیرارادی - ارادی - غیرارادی