Kanoon.ir

شما با دانلود این نمونه سوال، کد تخفیف خرید کتاب از سایت کانون بوک دریافت می کنید.

برای دریافت کد جایزه خود، عدد 33 را به سر شماره 90008451 ارسال کنید.



تمرین بیشتر نمونه سوالات امتحانی با کتاب های پرتکرار

همین حالا جایزه خود را دریافت کنید.

kanoonBook.ir

www.kanoon.ir

بسمه تعالی

نام ونام خانوادگی : درس : علوم تجربی هشتم دبیرستان : ره آورد۳	اداره کل آموزش وپرورش استان گیلان اداره آموزش وپرورش منطقه حویق	آزمون درس : فصل۳و۴ تعداد سوال : ۸ تاریخ آزمون:۰۵/۸/۲۳ مدت آزمون : ۶۰ دقیقه تعداد صفحه : ۲
نمره ورقه : نام دبیر : شاه محمدی امضاء :		محل مهر وامضاء مدیر مدرسه :

ردیف	سوالـــــــــات	بارم
۱	**درستی و نادرستی جملات زیر را مشخص کنید.** الف) همه ذره های تشکیل دهنده اتم، هم بار و هم جرم دارند. ب) مواد پرتوزا خطرناک نیستند و کاربردهای مفیدی در زندگی دارند. ج)مخچه باعث حفظ تعادل بدن ما می شود. د) نمک خوراکی از واکنش فلز سدیم و گاز کلر به وجود می آید. ه) بصل النخاع مرکز برخی انعکاس ها مانند نخاع است.	۲/۵
۲	**جاهای خالی را با کلمات مناسب پر کنید.** الف)مغز درون ..... و نخاع درون ..... قرار دارد. ب)به مجموع تعداد..... و ..... عدد جرمی می گویند. ج)نیمکره چپ مخ،فعالیت نیمه..... بدن را و نیمکره راست مخ فعالیت نیمه..... را کنترل می کنند. د) از میان ۱۱۸ عنصر شناخته شده، حدود ..... عنصر در طبیعت یافت می شود. ه)پاسخ های انعکاسی اغلب برای ..... انجام می شود.	۴
۳	گزینه مناسب را انتخاب کنید. الف) تفاوت تعداد نوترون ها و پروتون ها در اتم $^{31}_{15}X$ کدام است؟ ۱)۱۶ ۲) ۱۵ ۳)۱ ۴)۰ ب) بیشتر حجم مغز را ..... تشکیل داده است. ۱) ساقه مغز ۲)مخچه ۳)بصل النخاع ۴)مخ	۱
۴	به سوالات زیر پاسخ کوتاه بدهید. الف) مدل بور به چه مدلی معروف است؟ ب) چه بخشی نیمکره های مخچه را به هم متصل می کند؟ ج)محل عدد اتمی در نماد شیمیایی کجاست؟ د) لوب های مختلف قشر مخ را نام ببرید.	۳/۵

www-kanoon.ir

۵	باتوجه به شکل به سوالات زیر پاسخ دهید . الف)قسمت ها مشخص شده(A ,B) را نام گذاری کنید. ب)به کدام قسمت گره حیات می گویند. ج)بخش B کدام قسمت های دستگاه عصبی را به هم وصل می کند؟ 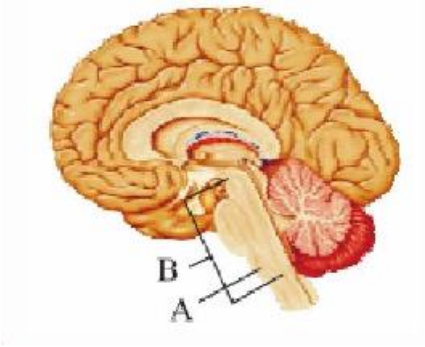	۲/۵
۶	عنصر بور(B) دو نوع اتم ، مطابق شکل روبرو دارد: الف)تفاوت این دو اتم چیست؟ ب)به رابطه بین این دو اتم چه می گویند؟ ج)نشانه شیمیایی هردو عنصر را به همراه عدد جرمی و عدد اتمی آنها بنویسید. د)کدام یک از اتم های A , B جرم بیشتری دارند؟ 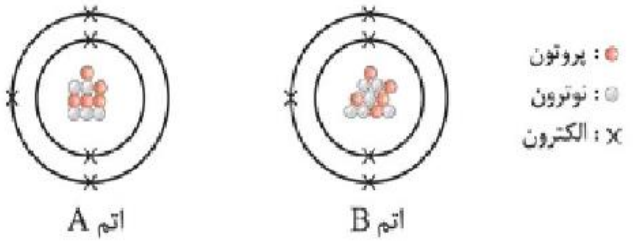	۳
۷	الف)با توجه به شکل به سوالات زیر پاسخ دهید. الف) قسمت های مشخص شده را نام گذاری کنید. ب)جهت حرکت پیام عصبی را نشان دهید. ج)بیشتر اندامک ها در کدام قسمت قرار دارند؟ د) انتهای کدام قسمت، پیام عصبی به یاخته دیگر منتقل می کند؟ 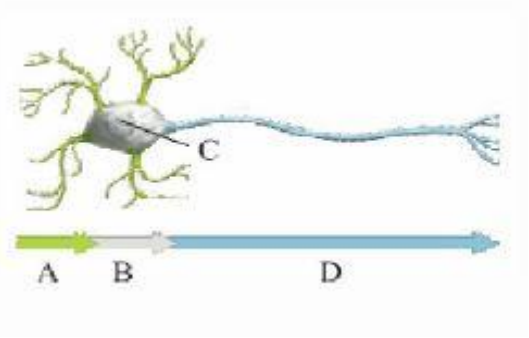	۲/۵
۸	مدل اتمی بور را برای اتم منیزیم با نماد (Mg) با عدد اتمی و ۱۲ و عدد جرمی ۲۴ رسم کنید.نمادشیمیایی منیزیم همراه با عدد اتمی آن بنویسید.	۱
	امتحان تمام شد، اما به یاد داشته باشید که تلاش های امروز، موفقیت های فردا را می سازد. شاه محمدی	